คณิตศาสตร์ ป.1 • บทที่ 14

โจทย์ปัญหาการบวกและโจทย์ปัญหาการลบ

แบบฝึกทักษะ • ภาคเรียนที่ 2

ในบทนี้เรียนเรื่อง 7 หัวข้อ รวม 84 ข้อ

- 14.1–14.2 สถานการณ์การบวก
- 14.3–14.4 สถานการณ์การลบ
- 14.5 โจทย์ปัญหาการบวกและการลบ (1)
- 14.6 โจทย์ปัญหาการบวกและการลบ (2)
- 14.7 โจทย์ปัญหาการบวกและการลบ (3)
- 14.8–14.9 โจทย์ปัญหาการบวกและการลบ (4) และ (5)
- 14.10–14.11 สร้างโจทย์ปัญหาการบวกและการลบ

ชื่อ .....

ชั้น ป.1/ ..... เลขที่ ..... โรงเรียน .....

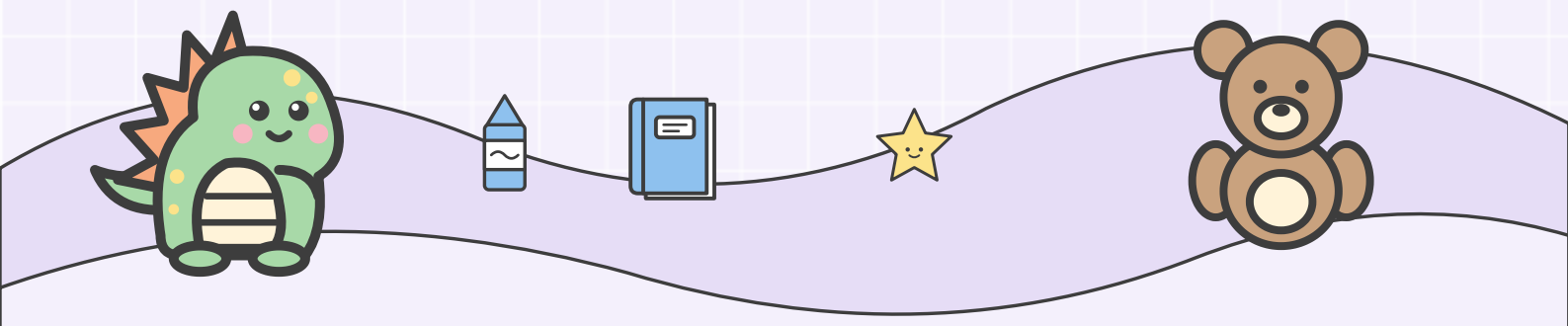

1 หัวข้อ 14.1–14.2

สถานการณ์การบวก

ตัวอย่าง ดูให้ครบทุกขั้นก่อนลงมือทำ



... ...

ใบบัวมีตุ๊กตาหมี 15 ตัว และตุ๊กตาแมว 15 ตัว ใบบัวมีตุ๊กตาทั้งหมดกี่ตัว

วิธีทำ

- มีตุ๊กตาหมี 15 ตัว
- มีตุ๊กตาแมว 15 ตัว
- รวมเป็น 15 + 15 = 30 ตัว
- ดังนั้น มีตุ๊กตาทั้งหมด 30 ตัว

ตอบ 30 ตัว

อธิบายวิธีคิดทีละขั้น

1. สถานการณ์นี้นำของสองกลุ่มมารวมกัน จึงเป็นสถานการณ์การบวก
2. เขียนเป็นประโยคสัญลักษณ์ 15 + 15 = 30
3. คำว่า “มากกว่า” ก็ใช้การบวกได้ เช่น มีมากกว่า 15 อยู่ 5 คือ 15 + 5

เคล็ดลับ รวมกัน เพิ่มขึ้น มากกว่า เป็นสถานการณ์การบวก

ต่อไปลองทำ 12 ข้อ

ข้อ 1–2 มีตัวช่วย • ข้อ 3–12 ลองคิดเอง

ชื่อ ..... ชั้น ป.1/ ..... เลขที่ .....

1 ดูภาพ อ่านเรื่อง แล้วเขียนประโยคสัญลักษณ์

มีตัวช่วย



...





ในสวนมีผีเสื้อ 15 ตัว บินมาเพิ่มอีก 10 ตัว

คำถาม: ตอนนี้มีผีเสื้อกี่ตัว

ประโยคสัญลักษณ์ ☐ + ☐ = ☐ ตัว



ตอบ .....

2 ดูภาพ อ่านเรื่อง แล้วเขียนประโยคสัญลักษณ์

มีตัวช่วย



...



...



ฟาร์มมีลูกเป็ด 24 ตัว ฟักออกมาใหม่อีก 13 ตัว

คำถาม: ตอนนี้มีลูกเป็ดกี่ตัว

ประโยคสัญลักษณ์ ☐ + ☐ = ☐ ตัว



ตอบ .....

ชื่อ ..... ชั้น ป.1/ ..... เลขที่ .....

3 ดูภาพ อ่านเรื่อง แล้วเขียนประโยคสัญลักษณ์

ลองคิดเอง



... ...



น้องเก็บดอกไม้ได้ 18 ดอก พี่เก็บได้มากกว่าน้อง 12 ดอก

คำถาม: พี่เก็บดอกไม้ได้กี่ดอก

ประโยคสัญลักษณ์ ☐ ◯ ☐ = ☐ ดอก



ตอบ .....

4 ดูภาพ อ่านเรื่อง แล้วเขียนประโยคสัญลักษณ์

ลองคิดเอง



... ...



ตู้ปลามีปลา 35 ตัว ใส่ปลาเพิ่มอีก 15 ตัว

คำถาม: ตอนนี้ในตู้มีปลากี่ตัว

ประโยคสัญลักษณ์ ☐ ◯ ☐ = ☐ ตัว



ตอบ .....

ชื่อ ..... ชั้น ป.1/ ..... เลขที่ .....

5 ดูภาพ อ่านเรื่อง แล้วเขียนประโยคสัญลักษณ์

ลองคิดเอง

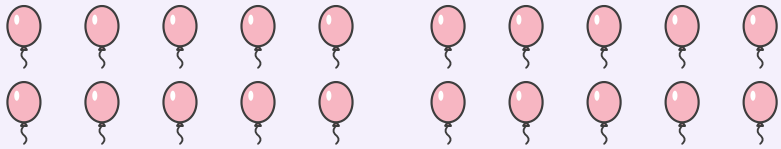

... ...



ร้านมีลูกโป่งสีแดง 42 ลูก สีฟ้า 27 ลูก

คำถาม: ร้านมีลูกโป่งทั้งหมดกี่ลูก

ประโยคสัญลักษณ์ ☐ ◯ ☐ = ☐ ลูก



ตอบ .....

6 ดูภาพ อ่านเรื่อง แล้วเขียนประโยคสัญลักษณ์

ลองคิดเอง

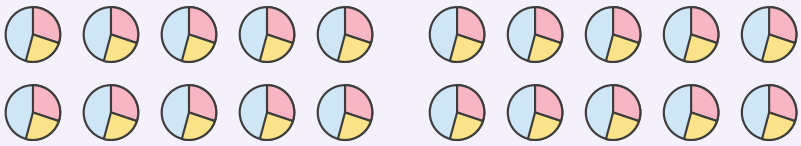

... ...



แม่ทำคุกกี้ 36 ชิ้น ยายทำมากกว่าแม่ 20 ชิ้น

คำถาม: ยายทำคุกกี้กี่ชิ้น

ประโยคสัญลักษณ์ ☐ ◯ ☐ = ☐ ชิ้น



ตอบ .....

ชื่อ ..... ชั้น ป.1/ ..... เลขที่ .....

7 ดูภาพ อ่านเรื่อง แล้วเขียนประโยคสัญลักษณ์

ลองคิดเอง



... ...



ในตู้มีปลา 22 ตัว ซื้อมาเพิ่มอีก 14 ตัว

คำถาม: ตอนนี้ในตู้มีปลากี่ตัว

ประโยคสัญลักษณ์ ☐ ◯ ☐ = ☐ ตัว

ตอบ .....



8 ดูภาพ อ่านเรื่อง แล้วเขียนประโยคสัญลักษณ์

ลองคิดเอง

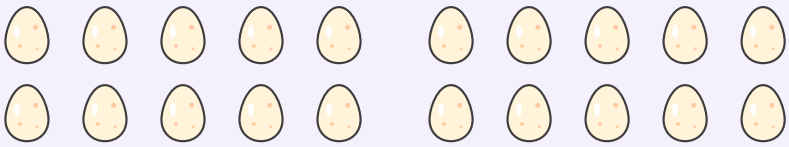

... ...



บ้านแรกมีไข่ 30 ฟอง บ้านที่สองมีไข่ 25 ฟอง

คำถาม: สองบ้านมีไข่รวมกันกี่ฟอง

ประโยคสัญลักษณ์ ☐ ◯ ☐ = ☐ ฟอง

ตอบ .....



ชื่อ ..... ชั้น ป.1/ ..... เลขที่ .....

9 ดูภาพ อ่านเรื่อง แล้วเขียนประโยคสัญลักษณ์

ลองคิดเอง

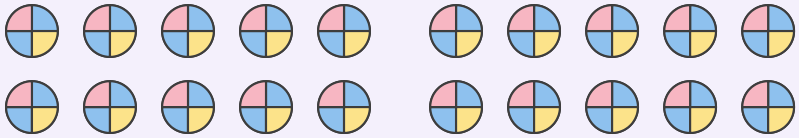

... ...



ต้นมีลูกบอล 16 ลูก ฝนมีมากกว่าต้น 11 ลูก

คำถาม: ฝนมีลูกบอลกี่ลูก

ประโยคสัญลักษณ์ ☐ ○ ☐ = ☐ ลูก

ตอบ .....



10 ดูภาพ อ่านเรื่อง แล้วเขียนประโยคสัญลักษณ์

ลองคิดเอง

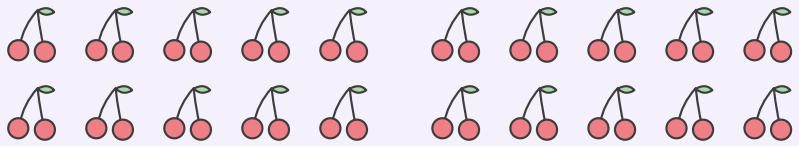

... ...



จานแรกมีเชอร์รี 27 ผล จานที่สองมี 31 ผล

คำถาม: สองจานมีเชอร์รีรวมกันกี่ผล

ประโยคสัญลักษณ์ ☐ ○ ☐ = ☐ ผล

ตอบ .....



ชื่อ ..... ชั้น ป.1/ ..... เลขที่ .....

11 ดูภาพ อ่านเรื่อง แล้วเขียนประโยคสัญลักษณ์

ลองคิดเอง



... ...



เล้ามีลูกเจี๊ยบ 19 ตัว ฟักออกมาเพิ่มอีก 20 ตัว

คำถาม: ตอนนี้มีลูกเจี๊ยบกี่ตัว

ประโยคสัญลักษณ์ ☐ ◯ ☐ = ☐ ตัว



ตอบ .....

12 ดูภาพ อ่านเรื่อง แล้วเขียนประโยคสัญลักษณ์

ลองคิดเอง



...



แม่ซื้อส้ม 45 ผล ยายซื้อมากกว่าแม่ 8 ผล

คำถาม: ยายซื้อส้มกี่ผล

ประโยคสัญลักษณ์ ☐ ◯ ☐ = ☐ ผล



ตอบ .....

หัวข้อ 14.3–14.4

2 สถานการณ์การลบ

ตัวอย่าง ดูให้ครบทุกขั้นก่อนลงมือทำ

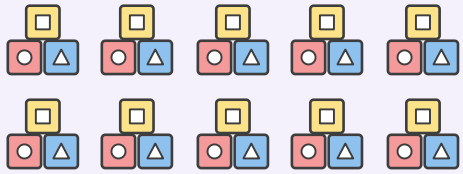

...

ภูมีตัวต่อ 48 ชิ้น เป็นสีแดง 12 ชิ้น ที่เหลือเป็นสีฟ้า มีตัวต่อสีฟ้ากี่ชิ้น

วิธีทำ

- มีตัวต่อทั้งหมด 48 ชิ้น
- เป็นสีแดง 12 ชิ้น
- สีฟ้า 48 – 12 = 36 ชิ้น
- ดังนั้น มีตัวต่อสีฟ้า 36 ชิ้น

ตอบ 36 ชิ้น

อธิบายวิธีคิดทีละขั้น

1. รู้จำนวนทั้งหมดและส่วนหนึ่ง ต้องการหาอีกส่วน จึงเป็นสถานการณ์การลบ
2. เขียนเป็นประโยคสัญลักษณ์ 48 – 12 = 36
3. คำว่า “น้อยกว่า” ก็ใช้การลบได้ เช่น น้อยกว่า 20 อยู่ 6 คือ 20 – 6

เคล็ดลับ เอาออก ใช้ไป เหลือ น้อยกว่า เป็นสถานการณ์การลบ

ต่อไปลองทำ 12 ข้อ

ข้อ 1–2 มีตัวช่วย • ข้อ 3–12 ลองคิดเอง

ชื่อ ..... ชั้น ป.1/ ..... เลขที่ .....

1 ดูภาพ อ่านเรื่อง แล้วเขียนประโยคสัญลักษณ์

มีตัวช่วย



...

มีลูกโป่ง 28 ลูก ลอยหายไป 6 ลูก

คำถาม: เหลือลูกโป่งกี่ลูก

ประโยคสัญลักษณ์ ☐ − ☐ = ☐ ลูก

ตอบ .....

2 ดูภาพ อ่านเรื่อง แล้วเขียนประโยคสัญลักษณ์

มีตัวช่วย



...

ต้นส้มมีส้ม 45 ผล เก็บไป 20 ผล

คำถาม: ต้นส้มเหลือส้มกี่ผล

ประโยคสัญลักษณ์ ☐ − ☐ = ☐ ผล

ตอบ .....

ชื่อ ..... ชั้น ป.1/ ..... เลขที่ .....

3 ดูภาพ อ่านเรื่อง แล้วเขียนประโยคสัญลักษณ์

ลองคิดเอง





แม่มีไข่ 36 ฟอง ใช้ทำขนม 14 ฟอง

...

คำถาม: แม่เหลือไข่กี่ฟอง

ประโยคสัญลักษณ์ ☐ ○ ☐ = ☐ ฟอง

ตอบ .....



4 ดูภาพ อ่านเรื่อง แล้วเขียนประโยคสัญลักษณ์

ลองคิดเอง

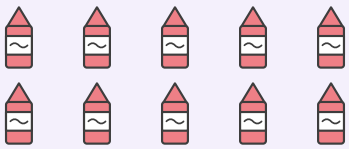



พี่มีดินสอสี 24 แท่ง น้องมีน้อยกว่าพี่ 8 แท่ง

...

คำถาม: น้องมีดินสอสีกี่แท่ง

ประโยคสัญลักษณ์ ☐ ○ ☐ = ☐ แท่ง

ตอบ .....



ชื่อ ..... ชั้น ป.1/ ..... เลขที่ .....

5 ดูภาพ อ่านเรื่อง แล้วเขียนประโยคสัญลักษณ์

ลองคิดเอง

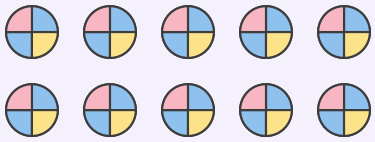

...

โรงเรียนมีลูกบอล 52 ลูก ลูกบอลยางมีน้อยกว่า 17 ลูก

คำถาม: มีลูกบอลยางกี่ลูก

ประโยคสัญลักษณ์ ☐ ○ ☐ = ☐ ลูก

ตอบ .....

6 ดูภาพ อ่านเรื่อง แล้วเขียนประโยคสัญลักษณ์

ลองคิดเอง

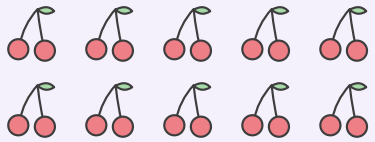

...

ในขวดมีลูกเชอร์รี 40 ผล กินไป 15 ผล

คำถาม: เหลือลูกเชอร์รีกี่ผล

ประโยคสัญลักษณ์ ☐ ○ ☐ = ☐ ผล

ตอบ .....

ชื่อ ..... ชั้น ป.1/ ..... เลขที่ .....

7 ดูภาพ อ่านเรื่อง แล้วเขียนประโยคสัญลักษณ์

ลองคิดเอง



...



มีดอกไม้ 38 ดอก แจกเพื่อนไป 15 ดอก

คำถาม: เหลือดอกไม้กี่ดอก

ประโยคสัญลักษณ์ ☐ ◯ ☐ = ☐ ดอก



ตอบ .....

8 ดูภาพ อ่านเรื่อง แล้วเขียนประโยคสัญลักษณ์

ลองคิดเอง



...



ฝูงนกมี 50 ตัว บินออกไป 20 ตัว

คำถาม: เหลือนกกี่ตัว

ประโยคสัญลักษณ์ ☐ ◯ ☐ = ☐ ตัว



ตอบ .....

ชื่อ ..... ชั้น ป.1/ ..... เลขที่ .....

9 ดูภาพ อ่านเรื่อง แล้วเขียนประโยคสัญลักษณ์

ลองคิดเอง





พี่มีสติกเกอร์ 46 ดวง น้องมีน้อยกว่าพี่ 12 ดวง

...

คำถาม: น้องมีสติกเกอร์กี่ดวง

ประโยคสัญลักษณ์ ☐ ◯ ☐ = ☐ ดวง



ตอบ .....

10 ดูภาพ อ่านเรื่อง แล้วเขียนประโยคสัญลักษณ์

ลองคิดเอง





มีลูกโป่ง 33 ลูก แตกไป 9 ลูก

...

คำถาม: เหลือลูกโป่งกี่ลูก

ประโยคสัญลักษณ์ ☐ ◯ ☐ = ☐ ลูก



ตอบ .....

ชื่อ ..... ชั้น ป.1/ ..... เลขที่ .....

11 ดูภาพ อ่านเรื่อง แล้วเขียนประโยคสัญลักษณ์

ลองคิดเอง





ห้องสมุดมีหนังสือ 64 เล่ม นักเรียนยืมไป 30 เล่ม

...

คำถาม: เหลือหนังสือในห้องสมุดกี่เล่ม

ประโยคสัญลักษณ์ ☐ ○ ☐ = ☐ เล่ม



ตอบ .....

12 ดูภาพ อ่านเรื่อง แล้วเขียนประโยคสัญลักษณ์

ลองคิดเอง





ฟาร์มมีเป็ด 27 ตัว มีไก่น้อยกว่าเป็ด 8 ตัว

...

คำถาม: ฟาร์มมีไก่กี่ตัว

ประโยคสัญลักษณ์ ☐ ○ ☐ = ☐ ตัว



ตอบ .....

หัวข้อ 14.5

โจทย์ปัญหาการบวกและการลบ (1)

ตัวอย่าง **ดูให้ครบทุกขั้นก่อนลงมือทำ**

วิภาเพาะพันธุ์ไม้ไว้ 36 ต้น แจกให้เพื่อนไป 8 ต้น วิภาเหลือพันธุ์ไม้กี่ต้น

วิธีทำ

- โจทย์ถาม: วิภาเหลือพันธุ์ไม้กี่ต้น
- โจทย์บอก: เพาะไว้ 36 ต้น แจกไป 8 ต้น
- ประโยคสัญลักษณ์: 36 – 8 = ☐
- 36 – 8 = 28

ตอบ วิภาเหลือพันธุ์ไม้ 28 ต้น

อธิบายวิธีคิดทีละขั้น

1. อ่านโจทย์แล้วหาว่า โจทย์ถามอะไร และโจทย์บอกอะไร
2. แจกไป แล้วถามว่าเหลือ จึงเขียนประโยคสัญลักษณ์การลบ 36 – 8 = ☐
3. หาคำตอบ 36 – 8 = 28 แล้วตอบให้ครบ มีหน่วยด้วย

เคล็ดลับ ขีดเส้นใต้สิ่งที่โจทย์บอก วงรอบสิ่งที่โจทย์ถาม

ต่อไปลองทำ 12 ข้อ

ข้อ 1–2 มีตัวช่วย • ข้อ 3–12 ลองคิดเอง

ชื่อ ..... ชั้น ป.1/ ..... เลขที่ .....

1 อ่านโจทย์ แล้วแสดงวิธีหาคำตอบ

มีตัวช่วย

มีสติกเกอร์ 46 ดวง ได้มาอีก 20 ดวง มีสติกเกอร์รวมกี่ดวง

โจทย์ถาม มีสติกเกอร์รวมกี่ดวง

โจทย์บอก มีสติกเกอร์ 46 ดวง ได้มาอีก 20 ดวง

ประโยคสัญลักษณ์

หาคำตอบ

ตอบ

2 อ่านโจทย์ แล้วแสดงวิธีหาคำตอบ

มีตัวช่วย

สนามมีนก 84 ตัว บินออกไป 16 ตัว เหลือนกกี่ตัว

โจทย์ถาม เหลือนกกี่ตัว

โจทย์บอก สนามมีนก 84 ตัว บินออกไป 16 ตัว

ประโยคสัญลักษณ์

หาคำตอบ

ตอบ

ชื่อ ..... ชั้น ป.1/ ..... เลขที่ .....

3 อ่านโจทย์ แล้วแสดงวิธีหาคำตอบ

ลองคิดเอง

สนามมีนก 38 ตัว บินมาอีก 17 ตัว ตอนนี้มีนกกี่ตัว

โจทย์ถาม

โจทย์บอก

ประโยคสัญลักษณ์

หาคำตอบ

ตอบ

4 อ่านโจทย์ แล้วแสดงวิธีหาคำตอบ

ลองคิดเอง

มีสติกเกอร์ 56 ดวง ใช้ไป 7 ดวง เหลือสติกเกอร์กี่ดวง

โจทย์ถาม

โจทย์บอก

ประโยคสัญลักษณ์

หาคำตอบ

ตอบ

ชื่อ ..... ชั้น ป.1/ ..... เลขที่ .....

5 อ่านโจทย์ แล้วแสดงวิธีหาคำตอบ

ลองคิดเอง

มีหนังสือภาพ 65 เล่ม รับเพิ่ม 18 เล่ม มีหนังสือภาพรวมกี่เล่ม

โจทย์ถาม

โจทย์บอก

ประโยคสัญลักษณ์

หาคำตอบ

ตอบ

6 อ่านโจทย์ แล้วแสดงวิธีหาคำตอบ

ลองคิดเอง

มีหนังสือภาพ 91 เล่ม เพื่อนยืมไป 25 เล่ม เหลือหนังสือภาพกี่เล่ม

โจทย์ถาม

โจทย์บอก

ประโยคสัญลักษณ์

หาคำตอบ

ตอบ

ชื่อ ..... ชั้น ป.1/ ..... เลขที่ .....

7 อ่านโจทย์ แล้วแสดงวิธีหาคำตอบ

ลองคิดเอง

ห้องสมุดมีหนังสือนิทาน 52 เล่ม ซื้อมาเพิ่ม 26 เล่ม มีหนังสือนิทานรวมกี่เล่ม

โจทย์ถาม

โจทย์บอก

ประโยคสัญลักษณ์

หาคำตอบ

ตอบ

8 อ่านโจทย์ แล้วแสดงวิธีหาคำตอบ

ลองคิดเอง

แม่มีไข่ 60 ฟอง ใช้ทำขนมไป 24 ฟอง แม่เหลือไข่กี่ฟอง

โจทย์ถาม

โจทย์บอก

ประโยคสัญลักษณ์

หาคำตอบ

ตอบ

ชื่อ ..... ชั้น ป.1/ ..... เลขที่ .....

9 อ่านโจทย์ แล้วแสดงวิธีหาคำตอบ

ลองคิดเอง

ฟาร์มมีลูกเป็ด 35 ตัว ฟักออกมาอีก 9 ตัว ตอนนี้มีลูกเป็ดกี่ตัว

โจทย์ถาม

โจทย์บอก

ประโยคสัญลักษณ์

หาคำตอบ

ตอบ

10 อ่านโจทย์ แล้วแสดงวิธีหาคำตอบ

ลองคิดเอง

มีลูกโป่ง 43 ลูก ลอยหายไป 17 ลูก เหลือลูกโป่งกี่ลูก

โจทย์ถาม

โจทย์บอก

ประโยคสัญลักษณ์

หาคำตอบ

ตอบ

ชื่อ ..... ชั้น ป.1/ ..... เลขที่ .....

11 อ่านโจทย์ แล้วแสดงวิธีหาคำตอบ

ลองคิดเอง

พ่อปลูกต้นไม้ 28 ต้น ลูกปลูกอีก 35 ต้น ปลูกต้นไม้รวมกี่ต้น

โจทย์ถาม

โจทย์บอก

ประโยคสัญลักษณ์

หาคำตอบ

ตอบ

12 อ่านโจทย์ แล้วแสดงวิธีหาคำตอบ

ลองคิดเอง

แม่ค้ามีส้ม 75 ผล ขายไป 40 ผล เหลือส้มกี่ผล

โจทย์ถาม

โจทย์บอก

ประโยคสัญลักษณ์

หาคำตอบ

ตอบ

หัวข้อ 14.6

4 โจทย์ปัญหาการบวกและการลบ (2)

ตัวอย่าง **ดูให้ครบทุกขั้นก่อนลงมือทำ**

ชั้นหนึ่งมีหนังสือภาพ 35 เล่ม อีกชั้นมี 22 เล่ม ชั้นแรกมีหนังสือมากกว่าอีกชั้นกี่เล่ม

วิธีทำ

- โจทย์ถาม: ชั้นแรกมีมากกว่าอีกชั้นกี่เล่ม
- โจทย์บอก: 35 เล่ม กับ 22 เล่ม
- ประโยคสัญลักษณ์: 35 – 22 = ☐
- 35 – 22 = 13

ตอบ ชั้นแรกมีหนังสือมากกว่า 13 เล่ม

อธิบายวิธีคิดทีละขั้น

1. โจทย์ถามว่ามากกว่ากันเท่าไร คือหาผลต่างของสองจำนวน
2. นำจำนวนมากลบด้วยจำนวนน้อย 35 – 22 = ☐
3. 35 – 22 = 13 ตรวจกลับ 22 + 13 = 35 ถูกต้อง

เคล็ดลับ มากกว่ากี่... น้อยกว่ากี่... ให้นำจำนวนมากลบด้วยจำนวนน้อย

ต่อไปลองทำ 12 ข้อ

ข้อ 1–2 มีตัวช่วย • ข้อ 3–12 ลองคิดเอง

ชื่อ ..... ชั้น ป.1/ ..... เลขที่ .....

1 อ่านโจทย์ แล้วแสดงวิธีหาคำตอบ

มีตัวช่วย

ห้องหนึ่งมีสีเทียน 28 แท่ง อีกห้องมี 19 แท่ง ห้องแรกมีมากกว่าอีกห้องกี่แท่ง

จำนวนมาก 28

จำนวนน้อย 19 | ผลต่าง ?

หา ? ให้ได้

โจทย์ถาม ห้องแรกมีสีเทียนมากกว่าอีกห้องกี่แท่ง

โจทย์บอก ห้องหนึ่งมีสีเทียน 28 แท่ง อีกห้องมี 19 แท่ง

ประโยคสัญลักษณ์

หาคำตอบ

ตอบ

2 อ่านโจทย์ แล้วแสดงวิธีหาคำตอบ

มีตัวช่วย

ชั้นบนมีหนังสือภาพ 44 เล่ม ชั้นล่างมี 32 เล่ม ชั้นล่างมีน้อยกว่าชั้นบนกี่เล่ม

จำนวนมาก 44

จำนวนน้อย 32 | ผลต่าง ?

หา ? ให้ได้

โจทย์ถาม ชั้นล่างมีหนังสือน้อยกว่าชั้นบนกี่เล่ม

โจทย์บอก ชั้นบนมี 44 เล่ม ชั้นล่างมี 32 เล่ม

ประโยคสัญลักษณ์

หาคำตอบ

ตอบ

ชื่อ ..... ชั้น ป.1/ ..... เลขที่ .....

3 อ่านโจทย์ แล้วแสดงวิธีหาคำตอบ

ลองคิดเอง

นิดมีสติกเกอร์ 57 ดวง น้อยมี 48 ดวง นิดมีมากกว่าน้อยกี่ดวง

จำนวนมาก 57

จำนวนน้อย 48 | ผลต่าง ?



หา ? ให้ได้

โจทย์ถาม

โจทย์บอก

ประโยคสัญลักษณ์

หาคำตอบ

ตอบ



4 อ่านโจทย์ แล้วแสดงวิธีหาคำตอบ

ลองคิดเอง



ตะกร้าสีน้ำเงินมีของเล่น 63 ชิ้น ตะกร้าสีแดงมี 27 ชิ้น ตะกร้าสีน้ำเงินมีมากกว่ากี่ชิ้น

จำนวนมาก 63

จำนวนน้อย 27 | ผลต่าง ?



หา ? ให้ได้

โจทย์ถาม

โจทย์บอก

ประโยคสัญลักษณ์

หาคำตอบ

ตอบ



ชื่อ ..... ชั้น ป.1/ ..... เลขที่ .....

5 อ่านโจทย์ แล้วแสดงวิธีหาคำตอบ

ลองคิดเอง

สนามหนึ่งมีนก 72 ตัว อีกสนามมี 58 ตัว สนามแรกมีนกมากกว่ากี่ตัว

จำนวนมาก 72

จำนวนน้อย 58 | ผลต่าง ?

หา ? ให้ได้

โจทย์ถาม

โจทย์บอก

ประโยคสัญลักษณ์

หาคำตอบ

ตอบ

6 อ่านโจทย์ แล้วแสดงวิธีหาคำตอบ

ลองคิดเอง

มุมอ่านมีหนังสือภาพ 86 เล่ม มุมวาดมี 49 เล่ม มุมวาดมีน้อยกว่ามุมอ่านกี่เล่ม

จำนวนมาก 86

จำนวนน้อย 49 | ผลต่าง ?

หา ? ให้ได้

โจทย์ถาม

โจทย์บอก

ประโยคสัญลักษณ์

หาคำตอบ

ตอบ

ชื่อ ..... ชั้น ป.1/ ..... เลขที่ .....

7 อ่านโจทย์ แล้วแสดงวิธีหาคำตอบ

ลองคิดเอง

ภูมีลูกบอล 32 ลูก ฟ้ามีลูกบอล 25 ลูก ภูมีลูกบอลมากกว่าฟ้ากี่ลูก

จำนวนมาก 32

จำนวนน้อย 25 | ผลต่าง ?

หา ? ให้ได้

โจทย์ถาม

โจทย์บอก

ประโยคสัญลักษณ์

หาคำตอบ

ตอบ

8 อ่านโจทย์ แล้วแสดงวิธีหาคำตอบ

ลองคิดเอง

แม่ซื้อไข่ไก่ 60 ฟอง ไข่เป็ด 24 ฟอง ไข่เป็ดน้อยกว่าไข่ไก่กี่ฟอง

จำนวนมาก 60

จำนวนน้อย 24 | ผลต่าง ?

หา ? ให้ได้

โจทย์ถาม

โจทย์บอก

ประโยคสัญลักษณ์

หาคำตอบ

ตอบ

ชื่อ ..... ชั้น ป.1/ ..... เลขที่ .....

9 อ่านโจทย์ แล้วแสดงวิธีหาคำตอบ

ลองคิดเอง

ห้อง ป.1/2 พับนกได้ 85 ตัว ห้อง ป.1/1 พับได้ 70 ตัว ห้อง ป.1/2 พับมากกว่ากี่ตัว

จำนวนมาก 85

จำนวนน้อย 70 | ผลต่าง ?

หา ? ให้ได้

โจทย์ถาม

โจทย์บอก

ประโยคสัญลักษณ์

หาคำตอบ

ตอบ

10 อ่านโจทย์ แล้วแสดงวิธีหาคำตอบ

ลองคิดเอง

สวนมีดอกกุหลาบ 41 ดอก ดอกมะลิ 29 ดอก ดอกกุหลาบมากกว่าดอกมะลิกี่ดอก

จำนวนมาก 41

จำนวนน้อย 29 | ผลต่าง ?

หา ? ให้ได้

โจทย์ถาม

โจทย์บอก

ประโยคสัญลักษณ์

หาคำตอบ

ตอบ

ชื่อ ..... ชั้น ป.1/ ..... เลขที่ .....

11 อ่านโจทย์ แล้วแสดงวิธีหาคำตอบ

ลองคิดเอง



ตะกร้าเขียวมีส้ม 62 ผล ตะกร้าแดงมี 47 ผล ตะกร้าแดงมีน้อยกว่ากี่ผล

จำนวนมาก 62

จำนวนน้อย 47 | ผลต่าง ?



หา ? ให้ได้

โจทย์ถาม

โจทย์บอก

ประโยคสัญลักษณ์

หาคำตอบ

ตอบ



12 อ่านโจทย์ แล้วแสดงวิธีหาคำตอบ

ลองคิดเอง



บ่อมีปลาทอง 90 ตัว ปลาหางนกยูง 56 ตัว ปลาหางนกยูงน้อยกว่าปลาทองกี่ตัว

จำนวนมาก 90

จำนวนน้อย 56 | ผลต่าง ?



หา ? ให้ได้

โจทย์ถาม

โจทย์บอก

ประโยคสัญลักษณ์

หาคำตอบ

ตอบ



5

หัวข้อ 14.7

โจทย์ปัญหาการบวกและการลบ (3)



ตัวอย่าง **ดูให้ครบทุกขั้นก่อนลงมือทำ**



ก้องมีสติกเกอร์ 18 ดวง ต้นมีน้อยกว่าก้อง 10 ดวง ต้นมีสติกเกอร์กี่ดวง

วิธีทำ

- โจทย์ถาม: ต้นมีสติกเกอร์กี่ดวง
- โจทย์บอก: ก้องมี 18 ดวง ต้นมีน้อยกว่า 10 ดวง
- ประโยคสัญลักษณ์: 18 – 10 = ☐
- 18 – 10 = 8

ตอบ ต้นมีสติกเกอร์ 8 ดวง

อธิบายวิธีคิดทีละขั้น

1. รู้จำนวนของคนหนึ่ง และรู้ว่าอีกคนมีน้อยกว่าเท่าไร
2. มีน้อยกว่า จึงนำ 18 ลบด้วย 10
3. ถ้าโจทย์บอกว่ามีมากกว่า ให้ใช้การบวกแทน



เคล็ดลับ ดูให้ดีว่าใครมีมากกว่า ใครมีน้อยกว่า ก่อนเลือกบวกหรือลบ



ต่อไปลองทำ 12 ข้อ

ข้อ 1–2 มีตัวช่วย • ข้อ 3–12 ลองคิดเอง

ชื่อ ..... ชั้น ป.1/ ..... เลขที่ .....

1 อ่านโจทย์ แล้วแสดงวิธีหาคำตอบ

มีตัวช่วย



ก้องพับนกกระดาษได้ 18 ตัว ใบเฟิร์นพับได้มากกว่าก้อง 10 ตัว ใบเฟิร์นพับนกกระดาษได้กี่ตัว

โจทย์ถาม ใบเฟิร์นพับนกกระดาษได้กี่ตัว

โจทย์บอก ก้องพับได้ 18 ตัว ใบเฟิร์นพับได้มากกว่าก้อง 10 ตัว

ประโยคสัญลักษณ์

หาคำตอบ

ตอบ



2 อ่านโจทย์ แล้วแสดงวิธีหาคำตอบ

มีตัวช่วย



ปีนี้โรงเรียนปลูกต้นไม้ 50 ต้น ปีที่แล้วปลูกน้อยกว่าปีนี้ 15 ต้น ปีที่แล้วปลูกต้นไม้กี่ต้น

โจทย์ถาม ปีที่แล้วปลูกต้นไม้กี่ต้น

โจทย์บอก ปีนี้ปลูก 50 ต้น ปีที่แล้วปลูกน้อยกว่าปีนี้ 15 ต้น

ประโยคสัญลักษณ์

หาคำตอบ

ตอบ



ชื่อ ..... ชั้น ป.1/ ..... เลขที่ .....

3 อ่านโจทย์ แล้วแสดงวิธีหาคำตอบ

ลองคิดเอง



ส้มหนัก 32 กิโลกรัม มะม่วงหนักมากกว่าส้ม 17 กิโลกรัม มะม่วงหนักกี่กิโลกรัม

โจทย์ถาม

โจทย์บอก

ประโยคสัญลักษณ์

หาคำตอบ

ตอบ



4 อ่านโจทย์ แล้วแสดงวิธีหาคำตอบ

ลองคิดเอง



ริบบิ้นสีแดงยาว 75 เซนติเมตร ริบบิ้นสีฟ้าสั้นกว่าสีแดง 25 เซนติเมตร ริบบิ้นสีฟ้ายาวกี่เซนติเมตร

โจทย์ถาม

โจทย์บอก

ประโยคสัญลักษณ์

หาคำตอบ

ตอบ



ชื่อ ..... ชั้น ป.1/ ..... เลขที่ .....

5 อ่านโจทย์ แล้วแสดงวิธีหาคำตอบ

ลองคิดเอง



ตาลมีเงิน 100 บาท น้ำมีเงินน้อยกว่าตาล 30 บาท น้ำมีเงินกี่บาท

โจทย์ถาม

โจทย์บอก

ประโยคสัญลักษณ์

หาคำตอบ

ตอบ



6 อ่านโจทย์ แล้วแสดงวิธีหาคำตอบ

ลองคิดเอง



ฟาร์มมีเป็ด 26 ตัว มีไก่มากกว่าเป็ด 19 ตัว ฟาร์มมีไก่กี่ตัว

โจทย์ถาม

โจทย์บอก

ประโยคสัญลักษณ์

หาคำตอบ

ตอบ



ชื่อ ..... ชั้น ป.1/ ..... เลขที่ .....

7 อ่านโจทย์ แล้วแสดงวิธีหาคำตอบ

ลองคิดเอง

ดาวมีสติกเกอร์ 24 ดวง เดือนมีมากกว่าดาว 15 ดวง เดือนมีสติกเกอร์กี่ดวง

โจทย์ถาม

โจทย์บอก

ประโยคสัญลักษณ์

หาคำตอบ

ตอบ



8 อ่านโจทย์ แล้วแสดงวิธีหาคำตอบ

ลองคิดเอง

ฟ้ามีเงิน 80 บาท ฝนมีน้อยกว่าฟ้า 25 บาท ฝนมีเงินกี่บาท

โจทย์ถาม

โจทย์บอก

ประโยคสัญลักษณ์

หาคำตอบ

ตอบ



ชื่อ ..... ชั้น ป.1/ ..... เลขที่ .....

9 อ่านโจทย์ แล้วแสดงวิธีหาคำตอบ

ลองคิดเอง



ริบบิ้นสีชมพูยาว 36 เซนติเมตร สีเขียวยาวกว่าสีชมพู 28 เซนติเมตร สีเขียวยาวกี่เซนติเมตร

โจทย์ถาม

โจทย์บอก

ประโยคสัญลักษณ์

หาคำตอบ

ตอบ



10 อ่านโจทย์ แล้วแสดงวิธีหาคำตอบ

ลองคิดเอง



บ้านป้ามีไก่ 52 ตัว บ้านลุงมีน้อยกว่าบ้านป้า 18 ตัว บ้านลุงมีไก่กี่ตัว

โจทย์ถาม

โจทย์บอก

ประโยคสัญลักษณ์

หาคำตอบ

ตอบ



ชื่อ ..... ชั้น ป.1/ ..... เลขที่ .....

11 อ่านโจทย์ แล้วแสดงวิธีหาคำตอบ

ลองคิดเอง



มะม่วงหนัก 45 กิโลกรัม ส้มหนักมากกว่ามะม่วง 20 กิโลกรัม ส้มหนักกี่กิโลกรัม

โจทย์ถาม

โจทย์บอก

ประโยคสัญลักษณ์

หาคำตอบ

ตอบ



12 อ่านโจทย์ แล้วแสดงวิธีหาคำตอบ

ลองคิดเอง



ชั้นบนมีหนังสือ 64 เล่ม ชั้นล่างมีน้อยกว่าชั้นบน 21 เล่ม ชั้นล่างมีหนังสือกี่เล่ม

โจทย์ถาม

โจทย์บอก

ประโยคสัญลักษณ์

หาคำตอบ

ตอบ



6

หัวข้อ 14.8–14.9

โจทย์ปัญหาการบวกและการลบ (4) และ (5)



ตัวอย่าง **ดูให้ครบทุกขั้นก่อนลงมือทำ**



มีนกจำนวนหนึ่ง บินมาเพิ่ม 7 ตัว แล้วมีนก 18 ตัว เดิมมีนกกี่ตัว

วิธีทำ

- ประโยคสัญลักษณ์: ☐ + 7 = 18
- หาคำตอบจากความสัมพันธ์ 18 – 7 = ☐
- 18 – 7 = 11
- ตรวจกลับ 11 + 7 = 18

ตอบ เดิมมีนก 11 ตัว

อธิบายวิธีคิดทีละขั้น

1. ไม่รู้จำนวนเดิม แต่รู้ว่าเพิ่ม 7 แล้วได้ 18 เขียนได้ ☐ + 7 = 18
2. ใช้ความสัมพันธ์ของการบวกและการลบ 18 – 7 = 11
3. ตรวจกลับ 11 + 7 = 18 ถูกต้อง



เคล็ดลับ วาดแถบจำนวน รู้ส่วนรวมกับส่วนย่อยหนึ่ง ก็หาอีกส่วนย่อยได้

ต่อไปลองทำ 12 ข้อ

ข้อ 1–2 มีตัวช่วย • ข้อ 3–12 ลองคิดเอง

ชื่อ ..... ชั้น ป.1/ ..... เลขที่ .....

1 อ่านโจทย์ แล้วแสดงวิธีหาคำตอบ

มีตัวช่วย

มีสีเทียนอยู่จำนวนหนึ่ง ครูใส่เพิ่ม 6 แท่ง แล้วมี 14 แท่ง เดิมมีสีเทียนกี่แท่ง



โจทย์ถาม เดิมมีสีเทียนกี่แท่ง

โจทย์บอก ครูใส่เพิ่ม 6 แท่ง แล้วมี 14 แท่ง

ประโยคสัญลักษณ์

หาคำตอบ

ตอบ

2 อ่านโจทย์ แล้วแสดงวิธีหาคำตอบ

มีตัวช่วย

มีหนังสือภาพ 32 เล่ม วางเพิ่มจนมี 45 เล่ม วางเพิ่มกี่เล่ม



โจทย์ถาม วางเพิ่มกี่เล่ม

โจทย์บอก มีหนังสือภาพ 32 เล่ม วางเพิ่มจนมี 45 เล่ม

ประโยคสัญลักษณ์

หาคำตอบ

ตอบ

ชื่อ ..... ชั้น ป.1/ ..... เลขที่ .....

3 อ่านโจทย์ แล้วแสดงวิธีหาคำตอบ

ลองคิดเอง

มีสติกเกอร์จำนวนหนึ่ง ใช้ไป 8 ดวง แล้วเหลือ 21 ดวง เดิมมีสติกเกอร์กี่ดวง

เดิมมี ?

ใช้ไป 8 | เหลือ 21

หา ? ให้ได้

โจทย์ถาม

โจทย์บอก

ประโยคสัญลักษณ์

หาคำตอบ

ตอบ

4 อ่านโจทย์ แล้วแสดงวิธีหาคำตอบ

ลองคิดเอง

มีของเล่น 54 ชิ้น เก็บเข้ากล่องบางส่วน เหลือนอกกล่อง 37 ชิ้น เก็บเข้ากล่องกี่ชิ้น

เดิมมี 54

เก็บไป ? | เหลือ 37

หา ? ให้ได้

โจทย์ถาม

โจทย์บอก

ประโยคสัญลักษณ์

หาคำตอบ

ตอบ

ชื่อ ..... ชั้น ป.1/ ..... เลขที่ .....

5 อ่านโจทย์ แล้วแสดงวิธีหาคำตอบ

ลองคิดเอง

มีนกจำนวนหนึ่ง บินมาเพิ่ม 17 ตัว แล้วมี 63 ตัว เดิมมีนกกี่ตัว



หา ? ให้ได้

ชื่อ ..... ชั้น ป.1/ ..... เลขที่ .....

7 อ่านโจทย์ แล้วแสดงวิธีหาคำตอบ

ลองคิดเอง

มีปลาจำนวนหนึ่ง ซื้อมาเพิ่ม 9 ตัว แล้วมี 25 ตัว เดิมมีปลากี่ตัว



หา ? ให้ได้

โจทย์ถาม .....

โจทย์บอก .....

ประโยคสัญลักษณ์ .....

หาคำตอบ .....

ตอบ .....



8 อ่านโจทย์ แล้วแสดงวิธีหาคำตอบ

ลองคิดเอง

มีลูกโป่ง 18 ลูก เป่าเพิ่มจนมี 40 ลูก เป่าเพิ่มกี่ลูก



หา ? ให้ได้

โจทย์ถาม .....

โจทย์บอก .....

ประโยคสัญลักษณ์ .....

หาคำตอบ .....

ตอบ .....



ชื่อ ..... ชั้น ป.1/ ..... เลขที่ .....

9 อ่านโจทย์ แล้วแสดงวิธีหาคำตอบ

ลองคิดเอง



มีส้มจำนวนหนึ่ง ขายไป 15 ผล แล้วเหลือ 30 ผล เดิมมีส้มกี่ผล

เดิมมี ?

เอาออก 15 | เหลือ 30



หา ? ให้ได้

โจทย์ถาม

โจทย์บอก

ประโยคสัญลักษณ์

หาคำตอบ

ตอบ



10 อ่านโจทย์ แล้วแสดงวิธีหาคำตอบ

ลองคิดเอง



แม่มีไข่ 60 ฟอง ใช้ทำขนมไปบางส่วน เหลือ 36 ฟอง ใช้ไปกี่ฟอง

เดิมมี 60

เอาออก ? | เหลือ 36



หา ? ให้ได้

โจทย์ถาม

โจทย์บอก

ประโยคสัญลักษณ์

หาคำตอบ

ตอบ



ชื่อ ..... ชั้น ป.1/ ..... เลขที่ .....

11 อ่านโจทย์ แล้วแสดงวิธีหาคำตอบ

ลองคิดเอง

มีดอกไม้จำนวนหนึ่ง เก็บมาเพิ่ม 20 ดอก แล้วมี 57 ดอก เดิมมีดอกไม้กี่ดอก



โจทย์ถาม

โจทย์บอก

ประโยคสัญลักษณ์

หาคำตอบ

ตอบ



12 อ่านโจทย์ แล้วแสดงวิธีหาคำตอบ

ลองคิดเอง

ครูมีลูกบอล 85 ลูก แจกไปบางลูก เหลือ 49 ลูก ครูแจกลูกบอลไปกี่ลูก



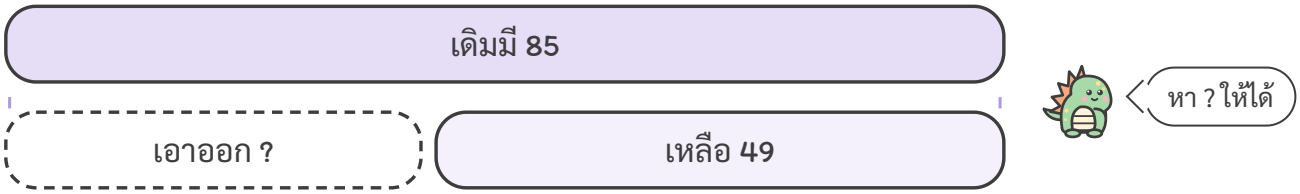

โจทย์ถาม

โจทย์บอก

ประโยคสัญลักษณ์

หาคำตอบ

ตอบ



หัวข้อ 14.10–14.11

สร้างโจทย์ปัญหาการบวกและการลบ

ตัวอย่าง ดูให้ครบทุกขั้นก่อนลงมือทำ

ประโยคสัญลักษณ์ 25 + 14 = 39

วิธีทำ

- ดูประโยคสัญลักษณ์ 25 + 14 = ☐
- คิดเรื่องที่มีของ 25 ชิ้น แล้วมาเพิ่ม 14 ชิ้น
- โจทย์: มีลูกบอล 25 ลูก ซื้อมาเพิ่ม 14 ลูก มีลูกบอลทั้งหมดกี่ลูก
- 25 + 14 = 39

ตอบ มีลูกบอลทั้งหมด 39 ลูก

อธิบายวิธีคิดทีละขั้น

1. โจทย์ปัญหาต้องมีสิ่งที่บอก และมีคำถามท้ายโจทย์
2. การบวกใช้คำว่า เพิ่ม รวม ทั้งหมด การลบใช้คำว่า เหลือ เอาออก น้อยกว่า
3. แต่งเสร็จแล้วลองหาคำตอบดู ว่าตรงกับประโยคสัญลักษณ์หรือไม่

เคล็ดลับ แต่งโจทย์จากของรอบตัว เช่น ขนม ของเล่น สัตว์เลี้ยง

ต่อไปลองทำ 12 ข้อ

ข้อ 1–2 มีตัวช่วย • ข้อ 3–12 ลองคิดเอง

ชื่อ ..... ชั้น ป.1/ ..... เลขที่ .....

1 แต่งโจทย์ปัญหา แล้วหาคำตอบ

มีตัวช่วย



แต่งโจทย์ปัญหาการบวกจากภาพ (ใช้จำนวนสัตว์ในภาพ)

โจทย์ปัญหา

ประโยคสัญลักษณ์



ตอบ .....

2 แต่งโจทย์ปัญหา แล้วหาคำตอบ

มีตัวช่วย



แต่งโจทย์ปัญหาการลบจากภาพ (ใช้จำนวนสัตว์ในภาพ)

โจทย์ปัญหา

ประโยคสัญลักษณ์



ตอบ .....

ชื่อ ..... ชั้น ป.1/ ..... เลขที่ .....

3 แต่งโจทย์ปัญหา แล้วหาคำตอบ

ลองคิดเอง

แต่งโจทย์ปัญหาจากประโยคสัญลักษณ์ 30 + 25 = ☐

โจทย์ปัญหา

ประโยคสัญลักษณ์



ตอบ .....

4 แต่งโจทย์ปัญหา แล้วหาคำตอบ

ลองคิดเอง

แต่งโจทย์ปัญหาจากประโยคสัญลักษณ์ 48 – 15 = ☐

โจทย์ปัญหา

ประโยคสัญลักษณ์



ตอบ .....

ชื่อ ..... ชั้น ป.1/ ..... เลขที่ .....

5 แต่งโจทย์ปัญหา แล้วหาคำตอบ

ลองคิดเอง



แต่งโจทย์ปัญหาการบวกจากภาพ (ใช้จำนวนสัตว์ในภาพ)

โจทย์ปัญหา

ประโยคสัญลักษณ์

ตอบ .....

6 แต่งโจทย์ปัญหา แล้วหาคำตอบ

ลองคิดเอง



แต่งโจทย์ปัญหาการลบจากภาพ (ใช้จำนวนสัตว์ในภาพ)

โจทย์ปัญหา

ประโยคสัญลักษณ์

ตอบ .....

ชื่อ ..... ชั้น ป.1/ ..... เลขที่ .....

7 แต่งโจทย์ปัญหา แล้วหาคำตอบ

ลองคิดเอง



แต่งโจทย์ปัญหาการบวกจากภาพ (ใช้จำนวนสัตว์ในภาพ)

โจทย์ปัญหา .....

ประโยคสัญลักษณ์ .....



ตอบ .....

8 แต่งโจทย์ปัญหา แล้วหาคำตอบ

ลองคิดเอง



แต่งโจทย์ปัญหาการลบจากภาพ (ใช้จำนวนสัตว์ในภาพ)

โจทย์ปัญหา .....

ประโยคสัญลักษณ์ .....



ตอบ .....

ชื่อ ..... ชั้น ป.1/ ..... เลขที่ .....

9 แต่งโจทย์ปัญหา แล้วหาคำตอบ

ลองคิดเอง

แต่งโจทย์ปัญหาจากประโยคสัญลักษณ์ 15 + 12 = ☐

โจทย์ปัญหา

ประโยคสัญลักษณ์



ตอบ .....

10 แต่งโจทย์ปัญหา แล้วหาคำตอบ

ลองคิดเอง

แต่งโจทย์ปัญหาจากประโยคสัญลักษณ์ 40 – 18 = ☐

โจทย์ปัญหา

ประโยคสัญลักษณ์



ตอบ .....

ชื่อ ..... ชั้น ป.1/ ..... เลขที่ .....

11 แต่งโจทย์ปัญหา แล้วหาคำตอบ

ลองคิดเอง

แต่งโจทย์ปัญหาจากประโยคสัญลักษณ์ 23 + 46 = ☐

โจทย์ปัญหา

ประโยคสัญลักษณ์



ตอบ .....

12 แต่งโจทย์ปัญหา แล้วหาคำตอบ

ลองคิดเอง

แต่งโจทย์ปัญหาจากประโยคสัญลักษณ์ 66 – 30 = ☐

โจทย์ปัญหา

ประโยคสัญลักษณ์



ตอบ .....