คณิตศาสตร์ ป.1 • บทที่ 8

การบอกตำแหน่งและอันดับที่

แบบฝึกทักษะ • ภาคเรียนที่ 2

ในบทนี้เรียนเรื่อง 4 หัวข้อ

8.1 การบอกตำแหน่งของสิ่งต่าง ๆ
8.2 การบอกอันดับที่ของสิ่งต่าง ๆ
8.3 การแสดงสิ่งต่าง ๆ ตามตำแหน่งและอันดับที่
8.4 การนำไปใช้ และแบบฝึกท้าทาย

ชื่อ .....

ชั้น ป.1/ ..... เลขที่ ..... โรงเรียน .....



ชื่อ ..... ชั้น ป.1/ ..... เลขที่ .....

8.1 การบอกตำแหน่งของสิ่งต่าง ๆ

1 ดูภาพ แล้วเติมชื่อสัตว์ (ข้างซ้าย ข้างขวา ดูจากมือของเราเมื่อมองภาพ)



เป็ด | กระต่าย | แมว | หมี | หมู | ลิง

..... อยู่ข้างขวาของกระต่าย

..... อยู่ข้างซ้ายของหมู

..... อยู่ระหว่างแมวกับหมู

แมวอยู่ระหว่าง ..... กับ .....

..... อยู่ข้างซ้ายสุด

..... อยู่ข้างขวาสุด

2 ดูภาพ แล้วเติมคำตอบ (ข้างหน้า ข้างหลัง ข้างซ้าย ข้างขวา ระหว่าง)

แถวหลัง

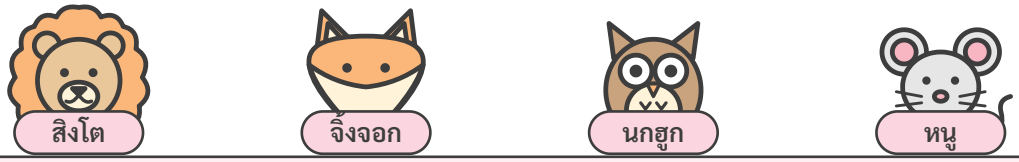

สิงโต | จิ้งจอก | นกฮูก | หนู

แถวหน้า



สุนัข | แมว | ช้าง | ลูกเจี๊ยบ

..... อยู่ข้างหลังของแมว

..... อยู่ข้างหน้าของนกฮูก

..... อยู่ข้างซ้ายของช้าง

นกฮูกอยู่ระหว่าง ..... กับ .....

สิงโตอยู่ข้าง ..... ของสุนัข

ลูกเจี๊ยบอยู่ข้าง ..... ของหนู

ชื่อ ..... ชั้น ป.1/ ..... เลขที่ .....

8.1 การบอกตำแหน่งของสิ่งต่าง ๆ

1 ดูชั้นวางของ แล้วเติมคำตอบ

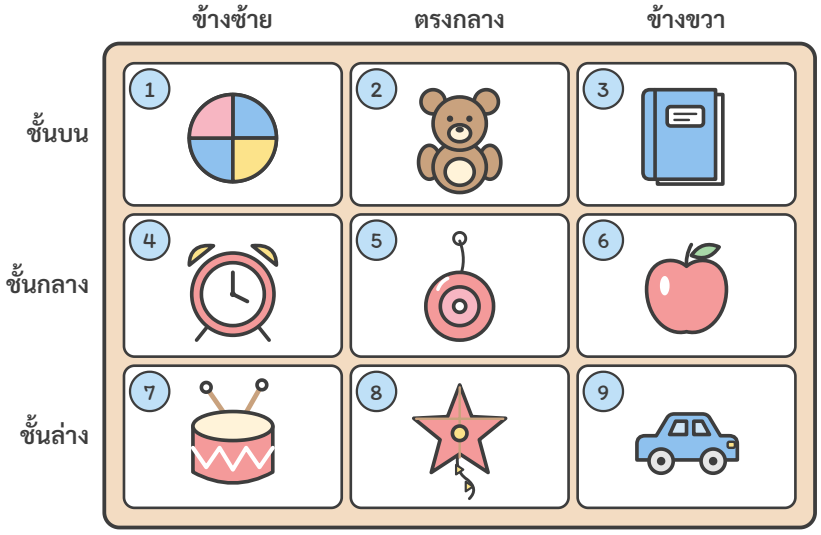

ลูกบอลอยู่ ....

แอปเปิลอยู่ ....

ว่าวอยู่ ....

ของที่อยู่ชั้นกลาง ตรงกลาง คือ .....

ของที่อยู่ชั้นบน ข้างขวา คือ .....

นาฬิกาอยู่ช่องหมายเลข .....

รถของเล่นอยู่ช่องหมายเลข .....

2 วาดรูปลงในช่องของชั้นวางตามที่กำหนด

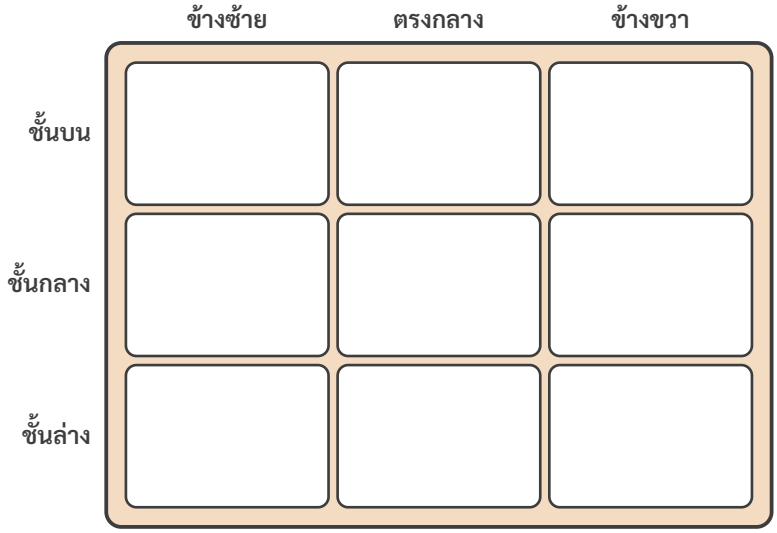

1. ○ ชั้นบน ข้างขวา
2. △ ชั้นล่าง ตรงกลาง
3. □ ชั้นกลาง ข้างซ้าย
4. ♡ ชั้นล่าง ข้างขวา

ชื่อ ..... ชั้น ป.1/ ..... เลขที่ .....

8.2 การบอกอันดับที่ของสิ่งต่าง ๆ

1 สัตว์ห้าตัววิ่งแข่งไปที่เส้นชัย ตัวที่ใกล้เส้นชัยที่สุดได้อันดับที่ 1 เติมอันดับที่



กระต่าย ได้อันดับที่ .....

เต่า ได้อันดับที่ .....

แมว ได้อันดับที่ .....

สุนัข ได้อันดับที่ .....

เป็ด ได้อันดับที่ .....

2 เติมคำตอบจากการแข่งขัน

ผู้ที่ได้อันดับที่ 1 คือ .....

ผู้ที่ได้อันดับที่ 3 คือ .....

ผู้ที่ได้อันดับสุดท้าย คือ .....

แมวได้อันดับดีกว่า ..... แต่ช้ากว่า .....

ชื่อ ..... ชั้น ป.1/ ..... เลขที่ .....

8.2 การบอกอันดับที่ของสิ่งต่าง ๆ

1 สัตว์ต่อแถวซื้อไอศกรีม เติมคำตอบ



หันหน้าเข้าหาร้าน ตัวที่อยู่หน้าสุดคืออันดับที่ 1

หมูอยู่อันดับที่ .....

กระต่ายอยู่อันดับที่ .....

หนูอยู่อันดับที่ .....

อันดับที่ 4 คือ .....

อันดับที่ 6 คือ .....

นกฮูกอยู่ระหว่าง ..... กับ .....

2 จำนวน กับ อันดับที่ ไม่เหมือนกันนะ นับจากซ้ายไปขวา

ขีด × ที่แอปเปิล 3 ผล



ขีด × ที่แอปเปิลผลที่ 3



ขีด × ที่แอปเปิล 5 ผล



ขีด × ที่แอปเปิลผลที่ 5



ชื่อ ..... ชั้น ป.1/ ..... เลขที่ .....

8.3 การแสดงสิ่งต่าง ๆ ตามตำแหน่งและอันดับที่

1 ดูอาคาร แล้วเติมคำตอบ



แมวอยู่ชั้นที่ ..... ห้องที่ .....
กระต่ายอยู่ชั้นที่ ..... ห้องที่ .....
ลิงอยู่ชั้นที่ ..... ห้องที่ .....
ชั้นที่ 3 ห้องที่ 3 คือ .....
ชั้นที่ 1 ห้องที่ 1 คือ .....
หนูอยู่ชั้นที่ ..... ห้องที่ .....
ห้องที่ 2 ว่างที่ชั้นที่ .....

นับชั้นจากล่างขึ้นบน นับห้องจากซ้ายไปขวา

2 ตู้ของเล่นนับชั้นจากล่างขึ้นบน นับช่องจากซ้ายไปขวา เติมคำตอบ

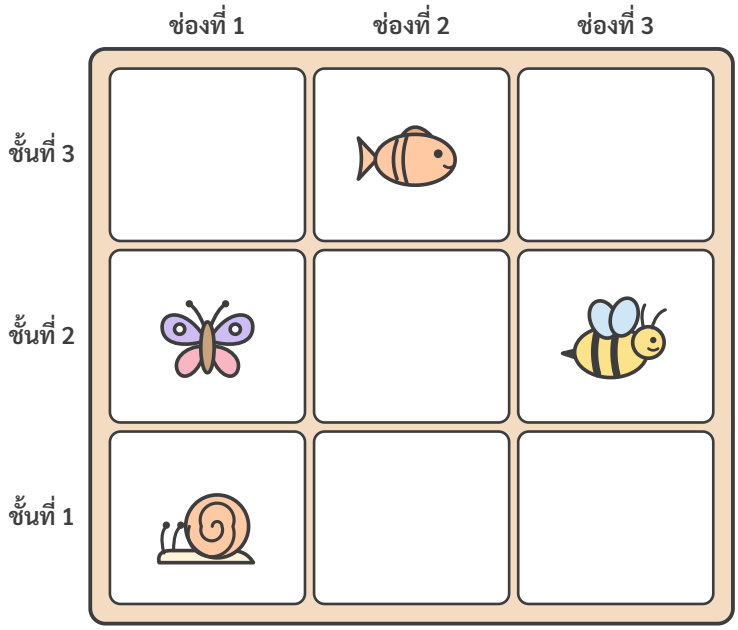

ปลาอยู่ชั้นที่ ..... ช่องที่ .....
ผึ้งอยู่ชั้นที่ ..... ช่องที่ .....
หอยทากอยู่ชั้นที่ ..... ช่องที่ .....
ผีเสื้ออยู่ชั้นที่ ..... ช่องที่ .....
หอยทากอยู่ใต้ .....

ชื่อ ..... ชั้น ป.1/ ..... เลขที่ .....

8.3 การแสดงสิ่งต่าง ๆ ตามตำแหน่งและอันดับที่

1 สัตว์มาดูละคร (แถว ก อยู่ใกล้เวทีที่สุด นับคนที่จากซ้าย) เติมคำตอบ

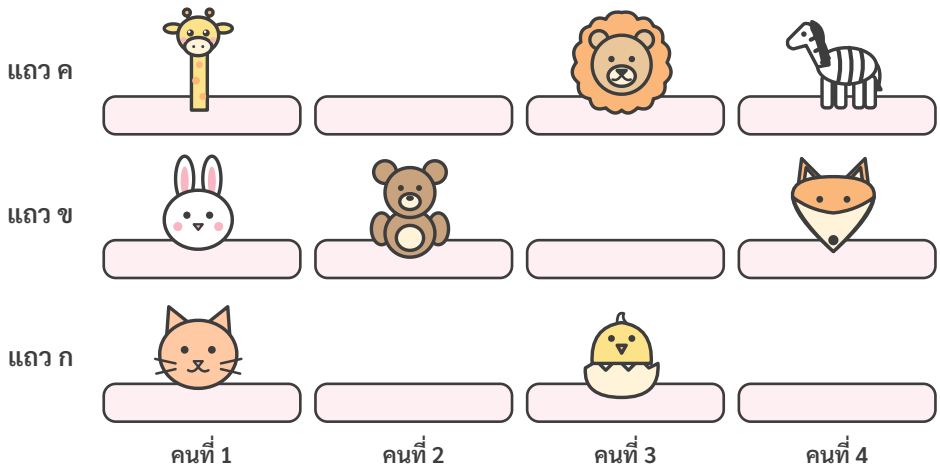

แถว ข คนที่ 2 คือ .....

ลูกเจี๊ยบนั่งแถว ..... คนที่ .....

แมวนั่งข้างหน้าของ .....

แถว ค คนที่ 3 คือ .....

ม้าลายนั่งแถว ..... คนที่ .....

ยีราฟนั่งข้างหลังของ .....

2 ที่นั่งว่าง วาดรูปลงบนที่นั่งตามที่กำหนด

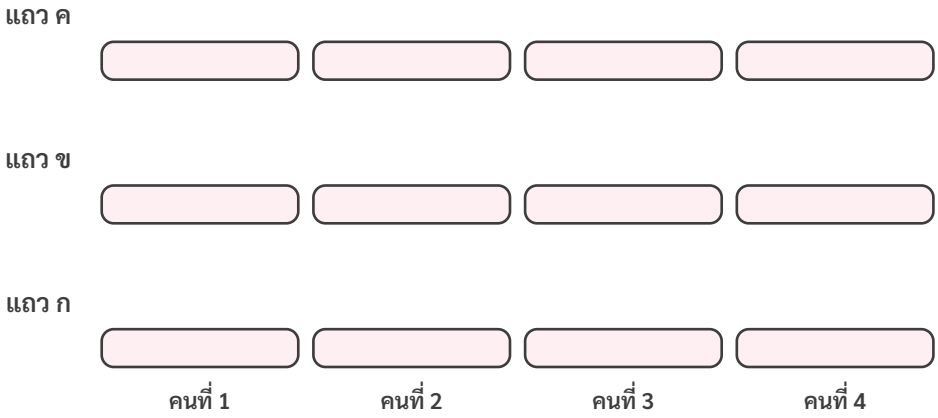

1. ☆ แถว ค คนที่ 1
2. ○ แถว ก คนที่ 4
3. ♡ แถว ข คนที่ 3
4. △ แถว ก คนที่ 2
5. □ แถว ค คนที่ 4

ชื่อ ..... ชั้น ป.1/ ..... เลขที่ .....

8.4 การนำไปใช้

1 เกมโยนบอลลงกล่อง โยนลงกล่องได้ 1, 2 หรือ 3 คะแนน รวมคะแนนแล้วเติมอันดับที่

ทีม	คะแนนที่โยนได้ 6 ครั้ง	คะแนนรวม	อันดับที่ คะแนนมากเป็นที่ 1	อันดับที่ คะแนนน้อยเป็นที่ 1
ทีมสีแดง	3 2 2 1 3 1	.....	.....	.....
ทีมสีฟ้า	1 2 1 2 1 2	.....	.....	.....
ทีมสีเขียว	3 3 2 3 2 2	.....	.....	.....
ทีมสีเหลือง	2 2 1 3 1 2	.....	.....	.....

ทีมที่ได้อันดับที่ 1 เมื่อคะแนนมากเป็นที่ 1 คือ .....

2 แข่งว่ายน้ำไปทางขวา ใครถึงเส้นชัยก่อนได้อันดับดีกว่า เติมคำตอบ



สัตว์ในลู่ที่ 2 คือ ..... ได้อันดับที่ .....

สัตว์ในลู่ที่ 4 คือ ..... ได้อันดับที่ .....

ปลาว่ายอยู่ลู่ที่ ..... ได้อันดับที่ .....

ผู้ที่ได้อันดับสุดท้ายคือ ..... อยู่ลู่ที่ .....

ชื่อ ..... ชั้น ป.1/ ..... เลขที่ .....

8.4 แบบฝึกท้าทาย

1 แบบฝึกท้าทาย: อ่านคำใบ้ แล้วเขียนชื่อของลงในตู้ และเติมหมายเลขช่อง

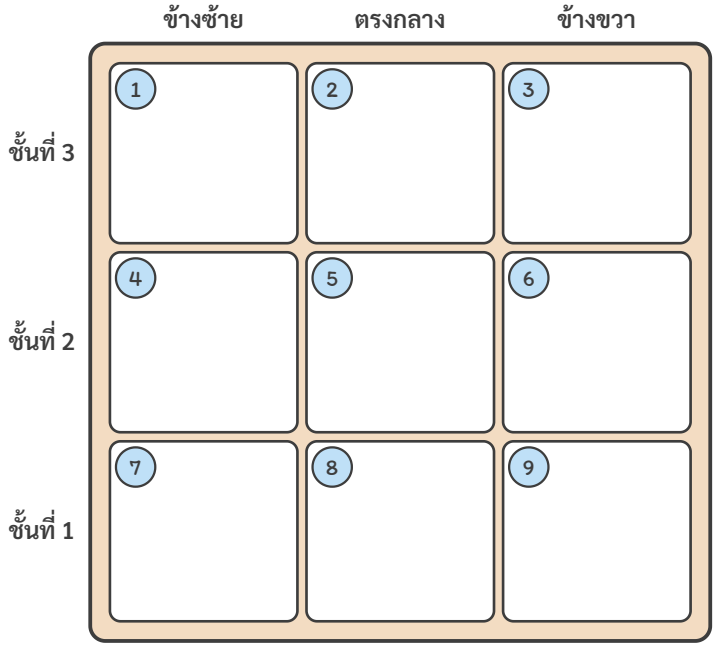

ลูกบอลอยู่ช่องหมายเลข .....
ตุ๊กตาอยู่ช่องหมายเลข .....
ว่าวอยู่ช่องหมายเลข .....
หนังสืออยู่ช่องหมายเลข .....
กลองอยู่ช่องหมายเลข .....

1. ลูกบอลอยู่ชั้นที่ 3 ข้างขวา
2. ตุ๊กตาอยู่ใต้ลูกบอลพอดี
3. ว่าวอยู่ชั้นที่ 1 ตรงกลาง
4. หนังสืออยู่ข้างซ้ายของว่าว
5. กลองอยู่ช่องตรงกลางของตู้

2 สิงโตวิ่งเร็วที่สุด เสือช้ากว่าสิงโตแต่เร็วกว่าม้าลาย เขียนชื่อสัตว์บนแท่นรับรางวัล แล้วเติมคำตอบ

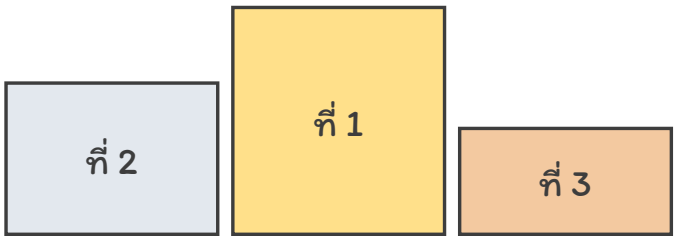

สิงโตยืนบนแท่นที่ .....
เสือยืนบนแท่นที่ .....
ม้าลายยืนบนแท่นที่ .....