ชั้นประถมศึกษาปีที่ 2 · คณิตศาสตร์ · หน่วยที่ 5

การคูณ

ความหมายของการคูณ สูตรคูณ ตั้งคูณ และโจทย์ปัญหา

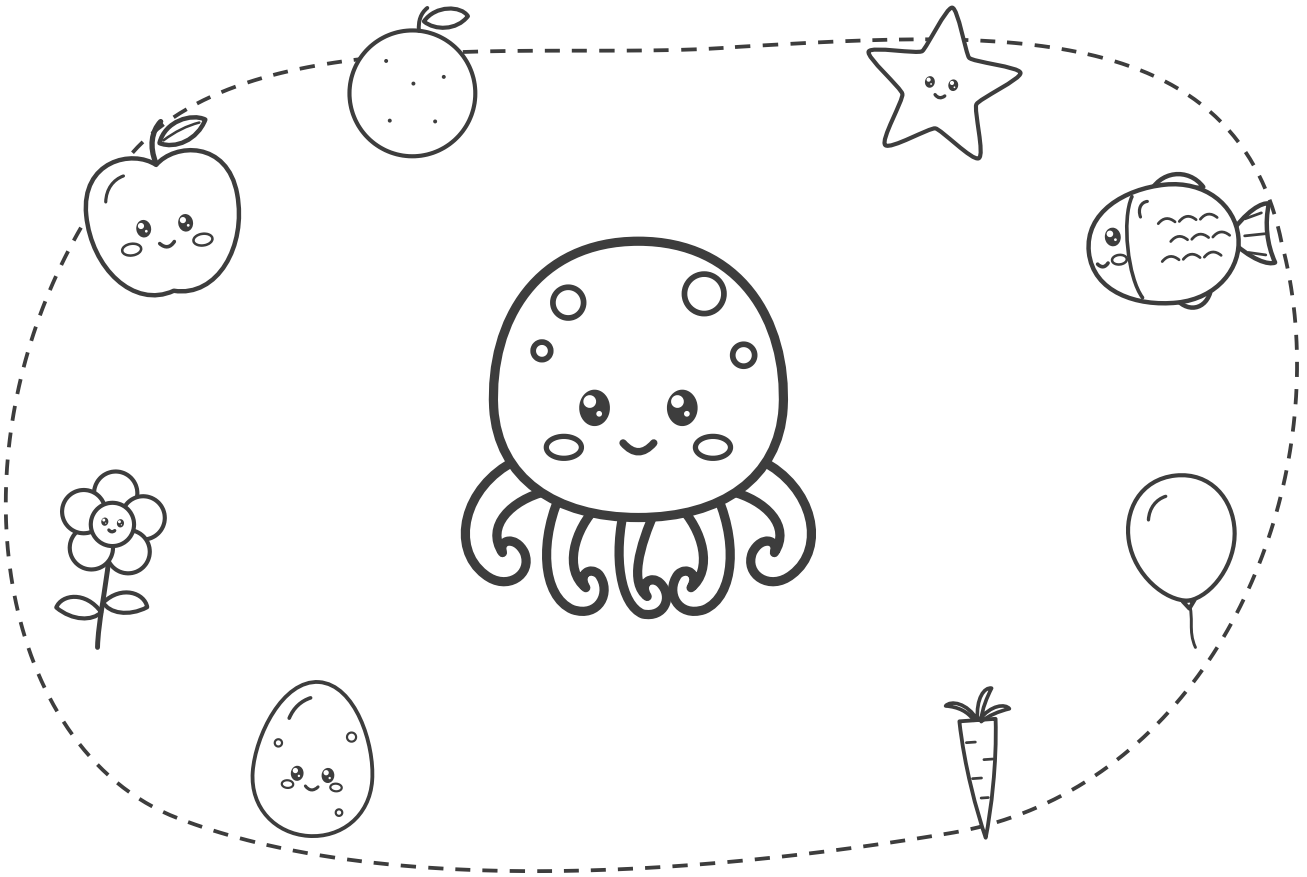

8 กิจกรรม · ตัวอย่างแสดงวิธีทำ 8 หน้า | แบบฝึก 128 ข้อ · 4 ระดับ | ฉบับนักเรียน | พิมพ์ขาว-ดำได้

หนังสือของ ..... ชั้น ป.2/ .....

คำแนะนำสำหรับครูและผู้ปกครอง

แบบฝึกชุด **การคูณ** ชั้น ป.2 แต่ละกิจกรรมเริ่มด้วยหน้าตัวอย่างแสดงวิธีทำ แล้วให้เด็กค่อย ๆ ปีนขึ้นไปทีละระดับ จากก้าวแรกที่มีตัวช่วยครบ ไปจนถึงพิชิตยอดเขาที่ต้องคิดเอง

1 ในชุดนี้มีอะไรบ้าง

กิจกรรม 1 · ความหมายของการคูณ	หน้า 3–11	**16 ข้อ (ข้อ 1–16)**
กิจกรรม 2 · หนึ่งและศูนย์กับการคูณ และสูตรคูณแม่ 2 ถึง 5	หน้า 12–20	**16 ข้อ (ข้อ 17–32)**
กิจกรรม 3 · สูตรคูณแม่ 6 ถึง 9	หน้า 21–29	**16 ข้อ (ข้อ 33–48)**
กิจกรรม 4 · การคูณจำนวนหนึ่งหลักกับ 10 20 30 … 90	หน้า 30–38	**16 ข้อ (ข้อ 49–64)**
กิจกรรม 5 · ตั้งคูณ	หน้า 39–47	**16 ข้อ (ข้อ 65–80)**
กิจกรรม 6 · เปรียบเทียบผลคูณและหาจำนวนที่ไม่ทราบค่า	หน้า 48–56	**16 ข้อ (ข้อ 81–96)**
กิจกรรม 7 · โจทย์ปัญหาการคูณ	หน้า 57–65	**16 ข้อ (ข้อ 97–112)**
กิจกรรม 8 · สร้างโจทย์ปัญหาการคูณ	หน้า 66–74	**16 ข้อ (ข้อ 113–128)**

2 ระดับการเรียนรู้ในทุกกิจกรรม

ระดับ 1 ก้าวแรก ★
มีตัวช่วยครบทุกขั้น เติมในช่องว่างได้เลย

ระดับ 2 ออกเดินทาง ★★
มีคำใบ้บอกว่าต้องทำอะไร ลองคิดเองมากขึ้น

ระดับ 3 ปีนให้สูงขึ้น ★★★
คำใบ้เหลือแค่สั้น ๆ ต้องเลือกวิธีเอง

ระดับ 4 พิชิตยอดเขา ★★★★
ไม่มีคำใบ้แล้ว โจทย์ปัญหาและข้อท้าทาย

3 ทำอย่างไรให้ได้ผล

- เริ่มทุกกิจกรรมจากหน้า **ตัวอย่างแสดงวิธีทำ** อ่านไปพร้อมกับเด็กให้ครบทุกขั้นก่อนลงมือทำ
- แต่ละกิจกรรมมีแบบฝึก 4 ระดับ ระดับละ 4 ข้อ หน้าละ 2 ข้อ ตัวช่วยค่อย ๆ ลดลงเมื่อขึ้นระดับ
- ครูเลือกระดับเริ่มต้นให้เด็กแต่ละคนได้ เด็กที่คล่องแล้วเริ่มที่ระดับ 2 หรือ 3 ได้
- ถ้าเด็กติดข้อใด ให้ย้อนไปดูหน้าตัวอย่างหรือข้อในระดับก่อนหน้า
- ให้เด็กเขียนคำตอบในบรรทัด **ตอบ** ทุกครั้ง แล้วชวนตรวจกลับ
- จบหน่วยแล้วให้เด็กทำหน้า **ถึงยอดเขาแล้ว!** (หน้า 75) เพื่อประเมินตัวเอง

4 สัญลักษณ์ในเล่ม

★ ตัวอย่าง — หน้าตัวอย่างแสดงวิธีทำ ดูก่อนลงมือ

ข้อ 1 — เลขข้อแบบฝึก ตรงกับเลขข้อในเฉลย

คำใบ้ — คำใบ้ (มีในระดับ 2 และ 2 ข้อแรกของระดับ 3)

★ ตอบ — บรรทัดสำหรับเขียนคำตอบ

ชุดนี้มี 8 กิจกรรม อยู่หน้า 3–74 หน้าประเมินตัวเองหน้า 75 เฉลยและแนวพิจารณาอยู่ท้ายเล่ม หน้า 76–88 (เฉพาะฉบับครู)

ชื่อ ..... ชั้น ป.2/ ..... เลขที่ .....

★ ตัวอย่างแสดงวิธีทำ



กิจกรรม 1

ความหมายของการคูณ

★ ดูตัวอย่างทีละขั้น แล้วลองทำเองต่อ

โจทย์ มีแอปเปิล 4 กลุ่ม กลุ่มละ 3 ผล มีแอปเปิลทั้งหมดกี่ผล



อธิบายวิธีคิดทีละขั้น

1. มีแอปเปิล 4 กลุ่ม แต่ละกลุ่มมี 3 ผลเท่ากัน
2. บวกซ้ำได้ 3 + 3 + 3 + 3 = 12
3. การบวกจำนวนที่เท่ากันซ้ำ ๆ เขียนเป็นการคูณได้ คือ จำนวนกลุ่ม × จำนวนในแต่ละกลุ่ม
4. เขียนเป็น 4 × 3 = 12 อ่านว่า สี่คูณสามเท่ากับสิบสอง

★ ตอบ 4 × 3 = 12 มีแอปเปิล 12 ผล

เคล็ดลับ: สิ่งของที่จัดเป็นแถว แถวละเท่ากัน ก็เขียนเป็นการคูณได้ คือ จำนวนแถว × จำนวนในแต่ละแถว

ต่อไปลองปีนเอง 4 ระดับ ข้อ 1–16 →

สู้ ๆ นะ!



ระบายสีฉันได้นะ

ชื่อ ..... ชั้น ป.2/ ..... เลขที่ .....

ข้อ 1–2

กิจกรรม 1

ความหมายของการคูณ



ระดับ 1

ก้าวแรก ★

มีตัวช่วยครบทุกขั้น เติมในช่องว่างได้เลย

ค่อย ๆ ทำทีละขั้นนะ



ข้อ 1 เขียนประโยคสัญลักษณ์การคูณจากภาพ มีแอปเปิลทั้งหมดกี่ผล



ชวนคิด นับว่ามีกี่กลุ่ม แล้วนับว่าแต่ละกลุ่มมีกี่ผล

วิธีทำ

..... กลุ่ม กลุ่มละ ..... บวกซ้ำ ..... + ... + ... = ...

เขียนเป็นการคูณ ..... × ..... = ...

★ ตอบ _____

ข้อ 2 เขียนประโยคสัญลักษณ์การคูณจากภาพ มีดาวทั้งหมดกี่ดวง

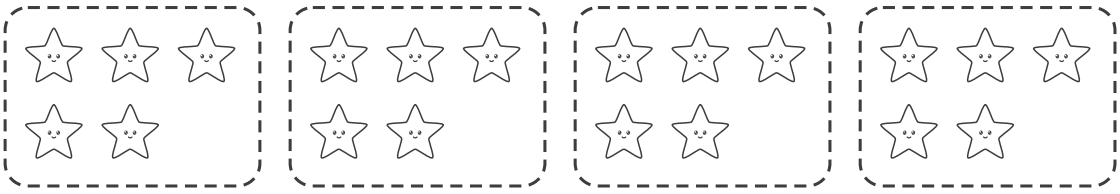

ชวนคิด บวก 5 ซ้ำกัน 4 ครั้ง

วิธีทำ

..... กลุ่ม กลุ่มละ ..... บวกซ้ำ ..... + ... + ... = ...

เขียนเป็นการคูณ ..... × ..... = ...

★ ตอบ _____

ชื่อ ..... ชั้น ป.2/ ..... เลขที่ .....

123 คณิตศาสตร์ ป.2 · การคูณ

ข้อ 3–4

กิจกรรม 1

ความหมายของการคูณ

ระดับ 1 ก้าวแรก ★ (ต่อ)

ข้อ 3 เขียนประโยคสัญลักษณ์การคูณจากภาพ มีปลาทั้งหมดกี่ตัว

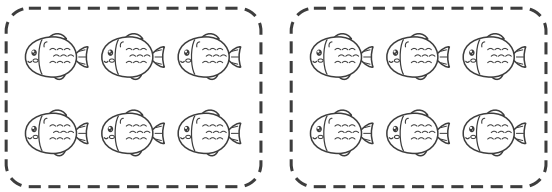

ชวนคิด จำนวนกลุ่มเขียนไว้หน้าเครื่องหมาย ×

วิธีทำ

..... กลุ่ม กลุ่มละ ..... บวกซ้ำ ..... + ... + ... = ...

เขียนเป็นการคูณ ..... × ..... = ...

★ ตอบ _____

ข้อ 4 เขียนประโยคสัญลักษณ์การคูณจากภาพ มีดอกไม้ทั้งหมดกี่ดอก



ชวนคิด บวก 3 ซ้ำกัน 5 ครั้ง

วิธีทำ

..... กลุ่ม กลุ่มละ ..... บวกซ้ำ ..... + ... + ... = ...

เขียนเป็นการคูณ ..... × ..... = ...

★ ตอบ _____

ชื่อ ..... ชั้น ป.2/ ..... เลขที่ .....

ข้อ 5–6

กิจกรรม 1

ความหมายของการคูณ



ระดับ 2

ออกเดินทาง ★★

มีคำใบ้บอกว่าต้องทำอะไร ลองคิดเองมากขึ้น

อ่านคำใบ้ก่อนลงมือนะ



ข้อ 5 เขียนประโยคสัญลักษณ์การคูณจากภาพ มีจุดทั้งหมดกี่จุด

1 ○○○○
2 ○○○○
3 ○○○○

คำใบ้ นับแถวจากบนลงล่าง

วิธีทำ

_____ แถว แถวละ _____

เขียนเป็นการคูณ _____ × _____ = _____

★ ตอบ _____

ข้อ 6 เขียนประโยคสัญลักษณ์การคูณจากภาพ มีจุดทั้งหมดกี่จุด

1 ○○○○○○○
2 ○○○○○○○

คำใบ้ แถวละ 7 จุด

วิธีทำ

_____ แถว แถวละ _____

เขียนเป็นการคูณ _____ × _____ = _____

★ ตอบ _____

ชื่อ ..... ชั้น ป.2/ ..... เลขที่ .....

ข้อ 7–8

กิจกรรม 1

ความหมายของการคูณ



ระดับ 2 ออกเดินทาง ★ ★ (ต่อ)

ข้อ 7 เขียนประโยคสัญลักษณ์การคูณจากภาพ มีจุดทั้งหมดกี่จุด

1 ○○○○○○
2 ○○○○○○
3 ○○○○○○
4 ○○○○○○

คำใบ้ จำนวนแถว × จำนวนในแต่ละแถว

วิธีทำ

_____ แถว แถวละ _____

เขียนเป็นการคูณ _____ × _____ = _____

★ ตอบ _____

ข้อ 8 เขียนประโยคสัญลักษณ์การคูณจากภาพ มีจุดทั้งหมดกี่จุด

1 ○○○○○
2 ○○○○○
3 ○○○○○
4 ○○○○○
5 ○○○○○

คำใบ้ 5 แถว แถวละ 5

วิธีทำ

_____ แถว แถวละ _____

เขียนเป็นการคูณ _____ × _____ = _____

★ ตอบ _____

ชื่อ ..... ชั้น ป.2/ ..... เลขที่ .....

ข้อ 9–10

กิจกรรม 1

ความหมายของการคูณ



ระดับ 3

ปีนให้สูงขึ้น ★ ★ ★

คำใบ้เหลือแค่สั้น ๆ ต้องเลือกวิธีเอง

ข้อหลังไม่มีคำใบ้แล้วนะ



ข้อ 9 เขียนเป็นประโยคสัญลักษณ์การคูณ แล้วหาผลคูณ

6 + 6 + 6 + 6 = ☐

ใบ้สั้น ๆ นับว่าบวก 6 ซ้ำกันกี่ครั้ง

วิธีทำ

★ ตอบ _____

ข้อ 10 เขียน 3 × 7 เป็นการบวก แล้วหาผลคูณ

ใบ้สั้น ๆ 3 กลุ่ม กลุ่มละ 7

วิธีทำ

★ ตอบ _____

ชื่อ ..... ชั้น ป.2/ ..... เลขที่ .....

ข้อ 11–12

กิจกรรม 1

ความหมายของการคูณ

ระดับ 3 ปีนให้สูงขึ้น ★ ★ ★ (ต่อ)

ข้อ 11 เขียนประโยคสัญลักษณ์การคูณจากภาพ มีแครอททั้งหมดกี่หัว

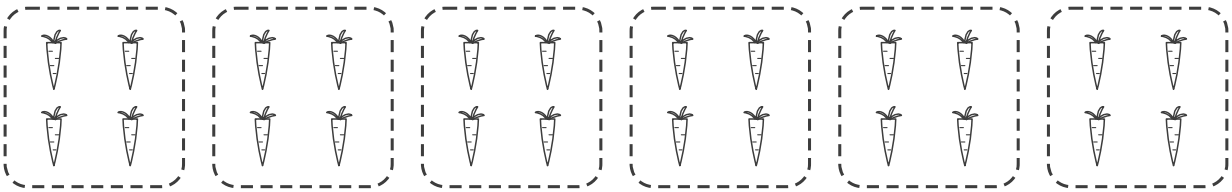

วิธีทำ

★ ตอบ _____

ข้อ 12 เขียนประโยคสัญลักษณ์การคูณจากภาพ มีจุดทั้งหมดกี่จุด



วิธีทำ

★ ตอบ _____

ชื่อ ..... ชั้น ป.2/ ..... เลขที่ .....

ข้อ 13–14

กิจกรรม 1

ความหมายของการคูณ

ระดับ 4

พิชิตยอดเขา ★ ★ ★ ★

ไม่มีคำใบ้แล้ว โจทย์ปัญหาและข้อท้าทาย

คิดเองได้ สู้ ๆ!

ข้อ 13 วาดภาพแทน 4 × 3 แล้วหาผลคูณ

วิธีทำ

วาดในกรอบนี้

★ ตอบ _____

ข้อ 14 น้องฟ้าดูภาพ 3 กลุ่ม กลุ่มละ 4 แล้วเขียนว่า 3 + 4 = 7 ถูกหรือไม่ ถ้าไม่ถูกเขียนให้ถูก



วิธีทำ

★ ตอบ _____

ชื่อ ..... ชั้น ป.2/ ..... เลขที่ .....

ข้อ 15–16



กิจกรรม 1

ความหมายของการคูณ

ระดับ 4 พิชิตยอดเขา ★ ★ ★ ★ (ต่อ)

ข้อ 15 3 × 5 กับ 5 × 3 ได้ผลคูณเท่ากันหรือไม่ วาดภาพหรืออธิบาย

วิธีทำ

★ ตอบ _____

ข้อ 16 จัดเก้าอี้ 24 ตัว เป็นแถว แถวละเท่า ๆ กัน จัดได้แบบไหนบ้าง เขียนให้ได้ 2 แบบ

วิธีทำ

★ ตอบ _____

ชื่อ ..... ชั้น ป.2/ ..... เลขที่ .....

★ ตัวอย่างแสดงวิธีทำ

กิจกรรม 2

หนึ่งและศูนย์กับการคูณ และสูตรคูณแม่ 2 ถึง 5



★ ดูตัวอย่างทีละขั้น แล้วลองทำเองต่อ

โจทย์ **หาผลคูณโดยนับเพิ่มทีละ 5**

$6 \times 5 =$ ☐

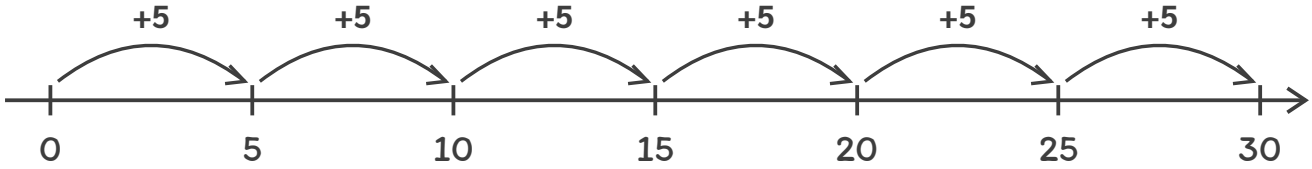

อธิบายวิธีคิดทีละขั้น

1. 6×5 คือ 6 กลุ่ม กลุ่มละ 5 จึงนับเพิ่มทีละ 5 ไป 6 ครั้ง
2. 5, 10, 15, 20, 25, 30
3. ดังนั้น $6 \times 5 = 30$ เป็นสูตรคูณแม่ 5
4. จำนวนใดคูณกับ 1 ได้จำนวนนั้น เช่น $7 \times 1 = 7$ · จำนวนใดคูณกับ 0 ได้ 0 เช่น $4 \times 0 = 0$

★ ตอบ $6 \times 5 = 30$

เคล็ดลับ: ผลคูณในสูตรคูณแม่ 5 มีหลักหน่วยเป็น 0 หรือ 5 เสมอ

ต่อไปลองปีนเอง 4 ระดับ ข้อ 17–32 →

สู้ ๆ นะ!



ระบายสีฉันได้นะ

ชื่อ ..... ชั้น ป.2/ ..... เลขที่ .....

ข้อ 17–18

กิจกรรม 2

หนึ่งและศูนย์กับการคูณ และสูตรคูณแม่ 2 ถึง 5



ระดับ 1

ก้าวแรก ★

มีตัวช่วยครบทุกขั้น เติมในช่องว่างได้เลย

ค่อย ๆ ทำทีละขั้นนะ



ข้อ 17 นับเพิ่มทีละ 2 บนเส้นจำนวน แล้วเขียนประโยคสัญลักษณ์การคูณ

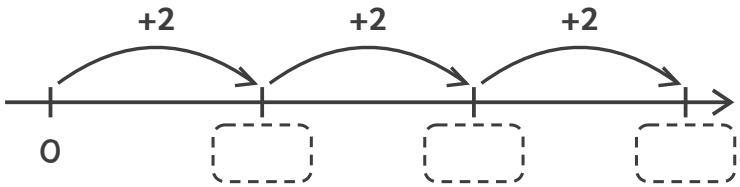

ชวนคิด กระโดดทีละ 2 สามครั้ง

วิธีทำ

นับทีละ _____ ไป _____ ครั้ง _____ × _____ = _____

★ ตอบ _____

ข้อ 18 นับเพิ่มทีละ 5 บนเส้นจำนวน แล้วเขียนประโยคสัญลักษณ์การคูณ

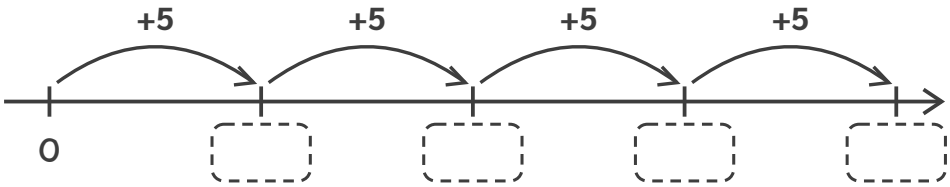

ชวนคิด กระโดดทีละ 5 สี่ครั้ง

วิธีทำ

นับทีละ _____ ไป _____ ครั้ง _____ × _____ = _____

★ ตอบ _____

ชื่อ ..... ชั้น ป.2/ ..... เลขที่ .....

ข้อ 19–20

กิจกรรม 2

หนึ่งและศูนย์กับการคูณ และสูตรคูณแม่ 2 ถึง 5



ระดับ 1 ก้าวแรก ★ (ต่อ)

ข้อ 19 นับเพิ่มทีละ 3 บนเส้นจำนวน แล้วเขียนประโยคสัญลักษณ์การคูณ

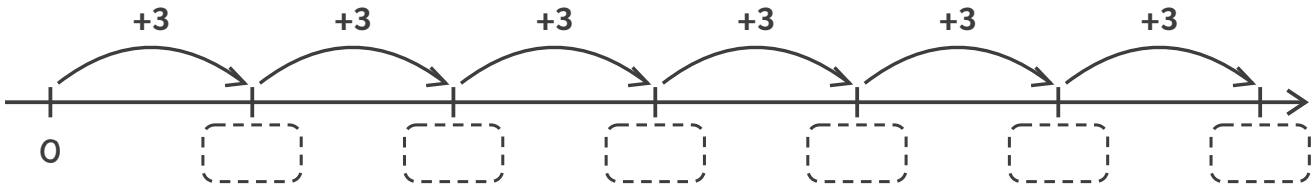

ชวนคิด กระโดดทีละ 3 หกครั้ง

วิธีทำ

นับทีละ ..... ไป ..... ครั้ง ..... × ..... = ...

★ ตอบ _____

ข้อ 20 นับเพิ่มทีละ 4 บนเส้นจำนวน แล้วเขียนประโยคสัญลักษณ์การคูณ

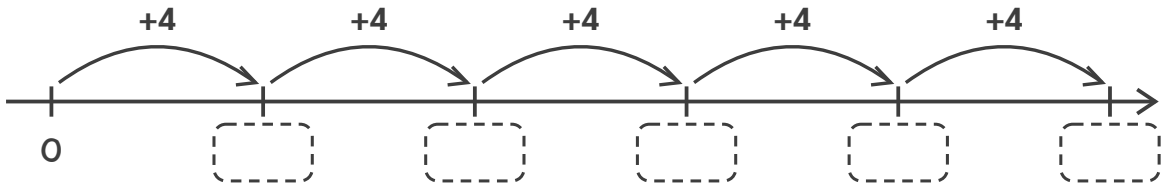

ชวนคิด กระโดดทีละ 4 ห้าครั้ง

วิธีทำ

นับทีละ ..... ไป ..... ครั้ง ..... × ..... = ...

★ ตอบ _____

ชื่อ ..... ชั้น ป.2/ ..... เลขที่ .....

ข้อ 21–22

กิจกรรม 2

หนึ่งและศูนย์กับการคูณ และสูตรคูณแม่ 2 ถึง 5



ระดับ 2

ออกเดินทาง ★★

มีคำใบ้บอกว่าต้องทำอะไร ลองคิดเองมากขึ้น

อ่านคำใบ้ก่อนลงมือนะ



ข้อ 21 หาผลคูณ

$7 \times 1 =$ ☐ $1 \times 6 =$ ☐ $4 \times 1 =$ ☐

คำใบ้ จำนวนใดคูณกับ 1 ได้จำนวนนั้น

วิธีทำ

★ ตอบ _____

ข้อ 22 หาผลคูณ

$0 \times 9 =$ ☐ $5 \times 0 =$ ☐ $0 \times 1 =$ ☐

คำใบ้ จำนวนใดคูณกับ 0 ได้ 0

วิธีทำ

★ ตอบ _____

ชื่อ ..... ชั้น ป.2/ ..... เลขที่ .....

ข้อ 23–24

กิจกรรม 2

หนึ่งและศูนย์กับการคูณ และสูตรคูณแม่ 2 ถึง 5



ระดับ 2 ออกเดินทาง ★ ★ (ต่อ)

ข้อ 23 หาผลคูณ

$8 \times 2 =$ ☐ $9 \times 2 =$ ☐ $7 \times 3 =$ ☐

คำใบ้ นับเพิ่มทีละ 2 หรือทีละ 3

วิธีทำ

★ ตอบ _____

ข้อ 24 หาผลคูณ

$9 \times 5 =$ ☐ $7 \times 4 =$ ☐ $8 \times 5 =$ ☐

คำใบ้ หลักหน่วยของแม่ 5 เป็น 0 หรือ 5

วิธีทำ

★ ตอบ _____

ชื่อ ..... ชั้น ป.2/ ..... เลขที่ .....

123 คณิตศาสตร์ ป.2 · การคูณ

ข้อ 25–26

กิจกรรม 2

หนึ่งและศูนย์กับการคูณ และสูตรคูณแม่ 2 ถึง 5



ระดับ 3

ปีนให้สูงขึ้น ★ ★ ★

คำใบ้เหลือแค่สั้น ๆ ต้องเลือกวิธีเอง

ข้อหลังไม่มีคำใบ้แล้วนะ



ข้อ 25 เติมสูตรคูณแม่ 3 ที่หายไป

1 × 3	2 × 3	3 × 3	4 × 3	5 × 3	6 × 3	7 × 3	8 × 3	9 × 3
3	6		12		18			27

ใบ้สั้น ๆ นับเพิ่มทีละ 3

วิธีทำ

★ ตอบ _____

ข้อ 26 เติมสูตรคูณแม่ 4 ที่หายไป

1 × 4	2 × 4	3 × 4	4 × 4	5 × 4	6 × 4	7 × 4	8 × 4	9 × 4
4		12	16	20			32	

ใบ้สั้น ๆ นับเพิ่มทีละ 4

วิธีทำ

★ ตอบ _____

ชื่อ ..... ชั้น ป.2/ ..... เลขที่ .....

กิจกรรม 2

หนึ่งและศูนย์กับการคูณ และสูตรคูณแม่ 2 ถึง 5



ระดับ 3 ปีนให้สูงขึ้น ★ ★ ★ (ต่อ)

ข้อ 27 เติมสูตรคูณแม่ 2 ที่หายไป

1 × 2	2 × 2	3 × 2	4 × 2	5 × 2	6 × 2	7 × 2	8 × 2	9 × 2
2	4	6			12	14		

วิธีทำ

★ ตอบ _____

ข้อ 28 เติมสูตรคูณแม่ 5 ที่หายไป

1 × 5	2 × 5	3 × 5	4 × 5	5 × 5	6 × 5	7 × 5	8 × 5	9 × 5
5	10			25			40	45

วิธีทำ

★ ตอบ _____

ชื่อ ..... ชั้น ป.2/ ..... เลขที่ .....

ข้อ 29–30

กิจกรรม 2

หนึ่งและศูนย์กับการคูณ และสูตรคูณแม่ 2 ถึง 5



ระดับ 4

พิชิตยอดเขา ★ ★ ★ ★

ไม่มีคำใบ้แล้ว โจทย์ปัญหาและข้อท้าทาย

คิดเองได้ สู้ ๆ!



ข้อ 29 8 × 0 กับ 0 × 8 ได้ผลคูณเท่ากันหรือไม่ อธิบาย

วิธีทำ

★ ตอบ _____

ข้อ 30 หาจำนวนที่เติมใน ☐

☐ × 5 = 35

วิธีทำ

★ ตอบ _____

ชื่อ ..... ชั้น ป.2/ ..... เลขที่ .....

ข้อ 31–32

กิจกรรม 2

หนึ่งและศูนย์กับการคูณ และสูตรคูณแม่ 2 ถึง 5



ระดับ 4 พิชิตยอดเขา ★ ★ ★ ★ (ต่อ)

ข้อ 31 ถุงเท้า 9 คู่ มีถุงเท้าทั้งหมดกี่ข้าง

วิธีทำ

★ ตอบ _____

ข้อ 32 น้องภูท่องสูตรคูณแม่ 4 ว่า 4, 8, 12, 15, 20 ผิดตรงไหน เขียนให้ถูก

วิธีทำ

★ ตอบ _____

ชื่อ ..... ชั้น ป.2/ ..... เลขที่ .....

★ ตัวอย่างแสดงวิธีทำ



กิจกรรม 3

สูตรคูณแม่ 6 ถึง 9

★ ดูตัวอย่างทีละขั้น แล้วลองทำเองต่อ

โจทย์ รู้ว่า 6 × 6 = 36 หาผลคูณ

7 × 6 = ☐



อธิบายวิธีคิดทีละขั้น

1. 7 × 6 คือ 7 แถว แถวละ 6 จุด
2. 6 แถวแรกคือ 6 × 6 = 36
3. เพิ่มอีก 1 แถว (แถวสีชมพู) มี 6 จุด ได้ 36 + 6 = 42
4. ดังนั้น 7 × 6 = 42

★ ตอบ 7 × 6 = 42

เคล็ดลับ: ถ้าจำสูตรคูณข้อใดไม่ได้ ให้ใช้ข้อที่จำได้ แล้วบวกหรือลบอีกหนึ่งกลุ่ม

ต่อไปลองปีนเอง 4 ระดับ ข้อ 33–48 →

สู้ ๆ นะ!



ระบายสีฉันได้นะ

ชื่อ ..... ชั้น ป.2/ ..... เลขที่ .....

ข้อ 33–34

กิจกรรม 3

สูตรคูณแม่ 6 ถึง 9

ระดับ 1

ก้าวแรก ★

มีตัวช่วยครบทุกขั้น เติมในช่องว่างได้เลย

ค่อย ๆ ทำทีละขั้นนะ



ข้อ 33 นับเพิ่มทีละ 6 บนเส้นจำนวน แล้วเขียนประโยคสัญลักษณ์การคูณ

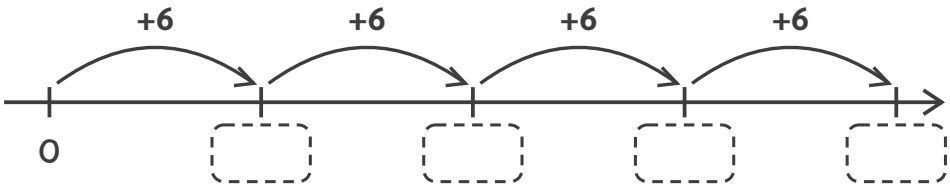

ชวนคิด กระโดดทีละ 6 สี่ครั้ง

วิธีทำ

นับทีละ _____ ไป _____ ครั้ง _____ × _____ = _____

★ ตอบ _____

ข้อ 34 นับเพิ่มทีละ 7 บนเส้นจำนวน แล้วเขียนประโยคสัญลักษณ์การคูณ

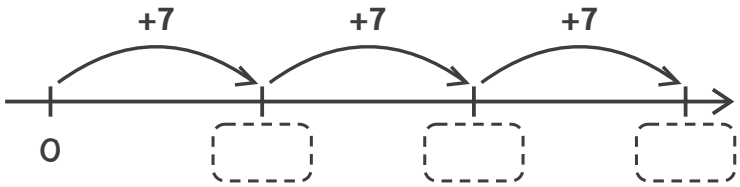

ชวนคิด กระโดดทีละ 7 สามครั้ง

วิธีทำ

นับทีละ _____ ไป _____ ครั้ง _____ × _____ = _____

★ ตอบ _____

ชื่อ ..... ชั้น ป.2/ ..... เลขที่ .....

ข้อ 35–36

กิจกรรม 3

สูตรคูณแม่ 6 ถึง 9

ระดับ 1 ก้าวแรก ★ (ต่อ)

ข้อ 35 นับเพิ่มทีละ 8 บนเส้นจำนวน แล้วเขียนประโยคสัญลักษณ์การคูณ

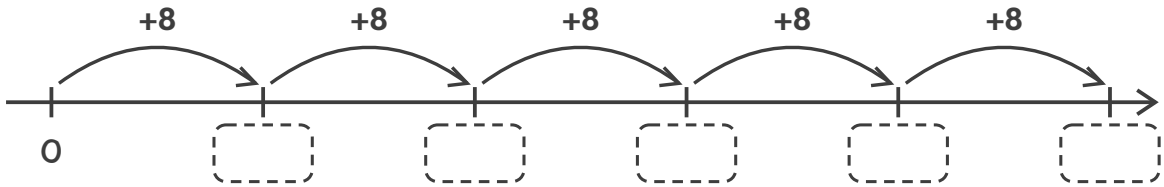

ชวนคิด กระโดดทีละ 8 ห้าครั้ง

วิธีทำ

นับทีละ ..... ไป ..... ครั้ง ..... × ..... = ...

★ ตอบ _____

ข้อ 36 นับเพิ่มทีละ 9 บนเส้นจำนวน แล้วเขียนประโยคสัญลักษณ์การคูณ

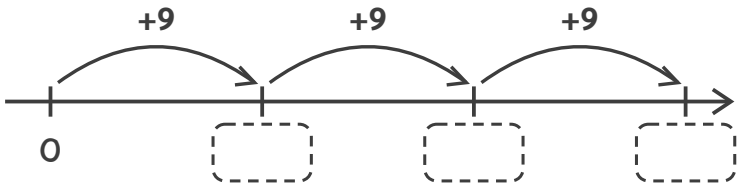

ชวนคิด กระโดดทีละ 9 สามครั้ง

วิธีทำ

นับทีละ ..... ไป ..... ครั้ง ..... × ..... = ...

★ ตอบ _____

ชื่อ ..... ชั้น ป.2/ ..... เลขที่ .....

ข้อ 37–38

กิจกรรม 3

สูตรคูณแม่ 6 ถึง 9



ระดับ 2

ออกเดินทาง ★★

มีคำใบ้บอกว่าต้องทำอะไร ลองคิดเองมากขึ้น

อ่านคำใบ้ก่อนลงมือนะ



ข้อ 37 รู้ว่า 5 × 6 = 30 หาผลคูณ

6 × 6 = ☐

คำใบ้ เพิ่มอีก 1 กลุ่ม กลุ่มละ 6

วิธีทำ

6 × 6 มีมากกว่า 5 × 6 อยู่ ..... กลุ่ม

..... + ... = ...

★ ตอบ _____

ข้อ 38 รู้ว่า 4 × 7 = 28 หาผลคูณ

5 × 7 = ☐

คำใบ้ เพิ่มอีก 1 กลุ่ม กลุ่มละ 7

วิธีทำ

5 × 7 มีมากกว่า 4 × 7 อยู่ ..... กลุ่ม

..... + ... = ...

★ ตอบ _____

ชื่อ ..... ชั้น ป.2/ ..... เลขที่ .....

ข้อ 39–40

กิจกรรม 3

สูตรคูณแม่ 6 ถึง 9



ระดับ 2 ออกเดินทาง ★ ★ (ต่อ)

ข้อ 39 รู้ว่า 6 × 8 = 48 หาผลคูณ

7 × 8 = ☐

คำใบ้ เพิ่มอีก 1 กลุ่ม กลุ่มละ 8

วิธีทำ

7 × 8 มีมากกว่า 6 × 8 อยู่ ..... กลุ่ม

..... + ... = ...

★ ตอบ _____

ข้อ 40 รู้ว่า 8 × 9 = 72 หาผลคูณ

9 × 9 = ☐

คำใบ้ เพิ่มอีก 1 กลุ่ม กลุ่มละ 9

วิธีทำ

9 × 9 มีมากกว่า 8 × 9 อยู่ ..... กลุ่ม

..... + ... = ...

★ ตอบ _____

ชื่อ ..... ชั้น ป.2/ ..... เลขที่ .....

ข้อ 41–42

กิจกรรม 3

สูตรคูณแม่ 6 ถึง 9



ระดับ 3

ปีนให้สูงขึ้น ★ ★ ★

คำใบ้เหลือแค่สั้น ๆ ต้องเลือกวิธีเอง

ข้อหลังไม่มีคำใบ้แล้วนะ



ข้อ 41 หาผลคูณ

6 × 7 = ☐ 8 × 6 = ☐ 9 × 4 = ☐

ใบ้สั้น ๆ ท่องสูตรคูณแม่ 6 และแม่ 7

วิธีทำ

★ ตอบ _____

ข้อ 42 หาผลคูณ

7 × 7 = ☐ 9 × 8 = ☐ 6 × 9 = ☐

ใบ้สั้น ๆ 7 × 7 คือ 6 × 7 แล้วบวกอีก 7

วิธีทำ

★ ตอบ _____

ชื่อ ..... ชั้น ป.2/ ..... เลขที่ .....

ข้อ 43–44

กิจกรรม 3

สูตรคูณแม่ 6 ถึง 9



ระดับ 3 ปีนให้สูงขึ้น ★ ★ ★ (ต่อ)

ข้อ 43 หาผลคูณ

$8 \times 8 =$ ☐ $7 \times 9 =$ ☐ $9 \times 6 =$ ☐

วิธีทำ

★ ตอบ _____

ข้อ 44 หาผลคูณ

$5 \times 9 =$ ☐ $8 \times 7 =$ ☐ $6 \times 6 =$ ☐

วิธีทำ

★ ตอบ _____

ชื่อ ..... ชั้น ป.2/ ..... เลขที่ .....

ข้อ 45–46

กิจกรรม 3

สูตรคูณแม่ 6 ถึง 9



ระดับ 4

พิชิตยอดเขา ★ ★ ★ ★

ไม่มีคำใบ้แล้ว โจทย์ปัญหาและข้อท้าทาย

คิดเองได้ สู้ ๆ!



ข้อ 45 สังเกตผลคูณในสูตรคูณแม่ 9 เมื่อนำเลขโดดของผลคูณมาบวกกัน ได้เท่าไร

1 × 9	2 × 9	3 × 9	4 × 9	5 × 9	6 × 9	7 × 9	8 × 9	9 × 9
9	18	27	36	45	54	63	72	81

วิธีทำ

★ ตอบ _____

ข้อ 46 น้องต้นตอบว่า 7 × 9 ได้ 72 ถูกหรือไม่ ถ้าไม่ถูก เขียนให้ถูก

วิธีทำ

★ ตอบ _____

ชื่อ ..... ชั้น ป.2/ ..... เลขที่ .....

ข้อ 47–48



กิจกรรม 3

สูตรคูณแม่ 6 ถึง 9

ระดับ 4 พิชิตยอดเขา ★ ★ ★ ★ (ต่อ)

ข้อ 47 เติม > < หรือ = ลงใน ☐

6 × 8 ☐ 7 × 7

วิธีทำ

★ ตอบ _____

ข้อ 48 ขนมกล่องละ 8 ชิ้น 6 กล่อง มีขนมทั้งหมดกี่ชิ้น

วิธีทำ

★ ตอบ _____

ชื่อ ..... ชั้น ป.2/ ..... เลขที่ .....

★ ตัวอย่างแสดงวิธีทำ

กิจกรรม 4

การคูณจำนวนหนึ่งหลักกับ 10 20 30 ... 90



★ ดูตัวอย่างทีละขั้น แล้วลองทำเองต่อ

โจทย์ หาผลคูณ

$3 \times 20 =$ ☐

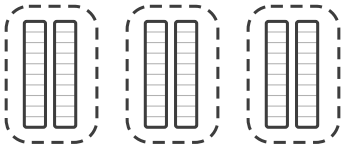

20 20 20

อธิบายวิธีคิดทีละขั้น

1. 3 × 20 คือ 3 กลุ่ม กลุ่มละ 20 หรือ 20 + 20 + 20 = 60
2. แต่ละกลุ่มมีแท่งสิบ 2 แท่ง รวม 3 × 2 = 6 แท่ง
3. แท่งสิบ 6 แท่ง คือ 60
4. วิธีลัด: 3 × 2 = 6 แล้วเติม 0 ข้างหลัง ได้ 60

★ ตอบ $3 \times 20 = 60$

เคล็ดลับ: คูณด้วย 10 20 30 ... 90 ให้คูณเลขหน้าก่อน แล้วเติม 0 หนึ่งตัวข้างหลัง

ต่อไปลองปีนเอง 4 ระดับ ข้อ 49–64 →

สู้ ๆ นะ!



ระบายสีฉันได้นะ

ชื่อ ..... ชั้น ป.2/ ..... เลขที่ .....

123 คณิตศาสตร์ ป.2 · การคูณ

ข้อ 49–50

กิจกรรม 4

การคูณจำนวนหนึ่งหลักกับ 10 20 30 ... 90



ระดับ 1

ก้าวแรก ★

มีตัวช่วยครบทุกขั้น เติมในช่องว่างได้เลย

ค่อย ๆ ทำทีละขั้นนะ



ข้อ 49 หาผลคูณจากภาพ

$2 \times 30 =$ ☐

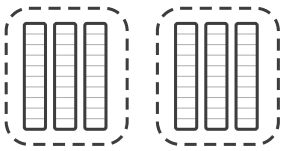

30 30

ชวนคิด 2 กลุ่ม กลุ่มละ 30

วิธีทำ

2 × 3 = ... เติม 0 ข้างหลัง ได้ .....

★ ตอบ _____

ข้อ 50 หาผลคูณจากภาพ

$4 \times 20 =$ ☐

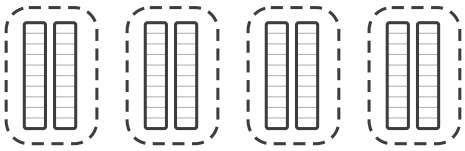

20 20 20 20

ชวนคิด นับแท่งสิบทั้งหมด

วิธีทำ

4 × 2 = ... เติม 0 ข้างหลัง ได้ .....

★ ตอบ _____

ชื่อ ..... ชั้น ป.2/ ..... เลขที่ .....

ข้อ 51–52

กิจกรรม 4

การคูณจำนวนหนึ่งหลักกับ 10 20 30 ... 90



ระดับ 1 ก้าวแรก ★ (ต่อ)

ข้อ 51 หาผลคูณจากภาพ

3 × 30 = ☐

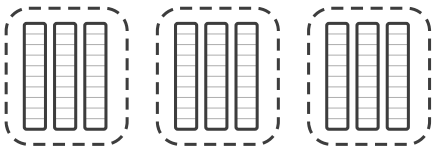

ชวนคิด 3 × 3 = 9 แล้วเติม 0

วิธีทำ

3 × 3 = ... เติม 0 ข้างหลัง ได้ .....

★ ตอบ _____

ข้อ 52 หาผลคูณจากภาพ

5 × 10 = ☐

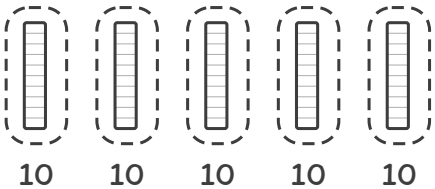

ชวนคิด 5 กลุ่ม กลุ่มละ 10

วิธีทำ

5 × 1 = ... เติม 0 ข้างหลัง ได้ .....

★ ตอบ _____

ชื่อ ..... ชั้น ป.2/ ..... เลขที่ .....

ข้อ 53–54

กิจกรรม 4

การคูณจำนวนหนึ่งหลักกับ 10 20 30 ... 90



ระดับ 2

ออกเดินทาง ★★

มีคำใบ้บอกว่าต้องทำอะไร ลองคิดเองมากขึ้น

อ่านคำใบ้ก่อนลงมือนะ



ข้อ 53 หาผลคูณ

$4 \times 10 =$ ☐ $6 \times 10 =$ ☐ $9 \times 10 =$ ☐

คำใบ้ คูณด้วย 10 เติม 0 หนึ่งตัว

วิธีทำ

★ ตอบ _____

ข้อ 54 หาผลคูณ

$3 \times 20 =$ ☐ $4 \times 30 =$ ☐ $2 \times 40 =$ ☐

คำใบ้ $3 \times 2 = 6$ แล้วเติม 0

วิธีทำ

★ ตอบ _____

กิจกรรม 4

การคูณจำนวนหนึ่งหลักกับ 10 20 30 ... 90



ระดับ 2 ออกเดินทาง ★ ★ (ต่อ)

ข้อ 55 หาผลคูณ

$5 \times 50 =$ ☐ $6 \times 40 =$ ☐ $7 \times 30 =$ ☐

คำใบ้ 5 × 5 = 25 แล้วเติม 0

วิธีทำ

★ ตอบ _____

ข้อ 56 หาผลคูณ

$8 \times 20 =$ ☐ $9 \times 30 =$ ☐ $6 \times 70 =$ ☐

คำใบ้ 8 × 2 = 16 แล้วเติม 0

วิธีทำ

★ ตอบ _____

ชื่อ ..... ชั้น ป.2/ ..... เลขที่ .....

ข้อ 57–58

กิจกรรม 4

การคูณจำนวนหนึ่งหลักกับ 10 20 30 ... 90



ระดับ 3

ปีนให้สูงขึ้น ★ ★ ★

คำใบ้เหลือแค่สั้น ๆ ต้องเลือกวิธีเอง

ข้อหลังไม่มีคำใบ้แล้วนะ



ข้อ 57 หาผลคูณ

$7 \times 80 =$ ☐ $9 \times 60 =$ ☐ $8 \times 50 =$ ☐

ใบ้สั้น ๆ $7 \times 8 = 56$

วิธีทำ

★ ตอบ _____

ข้อ 58 หาผลคูณ

$40 \times 6 =$ ☐ $60 \times 3 =$ ☐ $90 \times 9 =$ ☐

ใบ้สั้น ๆ 40×6 ได้เท่ากับ 6×40

วิธีทำ

★ ตอบ _____

ชื่อ ..... ชั้น ป.2/ ..... เลขที่ .....

ข้อ 59–60

กิจกรรม 4

การคูณจำนวนหนึ่งหลักกับ 10 20 30 ... 90



ระดับ 3 ปีนให้สูงขึ้น ★ ★ ★ (ต่อ)

ข้อ 59 หาผลคูณ

$6 \times 90 =$ ☐ $5 \times 80 =$ ☐ $9 \times 40 =$ ☐

วิธีทำ

★ ตอบ _____

ข้อ 60 หาผลคูณ

$70 \times 7 =$ ☐ $30 \times 8 =$ ☐ $50 \times 4 =$ ☐

วิธีทำ

★ ตอบ _____

ชื่อ ..... ชั้น ป.2/ ..... เลขที่ .....

ข้อ 61–62

กิจกรรม 4

การคูณจำนวนหนึ่งหลักกับ 10 20 30 ... 90



ระดับ 4

พิชิตยอดเขา ★ ★ ★ ★

ไม่มีคำใบ้แล้ว โจทย์ปัญหาและข้อท้าทาย

คิดเองได้ สู้ ๆ!



ข้อ 61 ดินสอกล่องละ 20 แท่ง 7 กล่อง มีดินสอทั้งหมดกี่แท่ง

วิธีทำ

★ ตอบ _____

ข้อ 62 หาจำนวนที่เติมใน ☐

$4 \times \square = 280$

วิธีทำ

★ ตอบ _____

ชื่อ ..... ชั้น ป.2/ ..... เลขที่ .....

ข้อ 63–64

กิจกรรม 4

การคูณจำนวนหนึ่งหลักกับ 10 20 30 ... 90



ระดับ 4 พิชิตยอดเขา ★ ★ ★ ★ (ต่อ)

ข้อ 63 เติม > < หรือ = ลงใน ☐

6 × 40 ☐ 4 × 60

วิธีทำ

★ ตอบ _____

ข้อ 64 น้องฟ้าตอบว่า 8 × 50 ได้ 40 ถูกหรือไม่ ถ้าไม่ถูก เขียนให้ถูก

วิธีทำ

★ ตอบ _____

ชื่อ ..... ชั้น ป.2/ ..... เลขที่ .....

★ ตัวอย่างแสดงวิธีทำ



กิจกรรม 5

ตั้งคูณ

★ ดูตัวอย่างทีละขั้น แล้วลองทำเองต่อ

โจทย์ ตั้งคูณหาผลคูณ 26 × 3 = ...

ร้อย	สิบ	หน่วย
	1	
	2	6
		3 ×
	7	8

อธิบายวิธีคิดทีละขั้น

1. เขียน 3 ไว้ใต้หลักหน่วยของ 26 แล้วเขียนเครื่องหมาย × ไว้ด้านขวามือ
2. คูณหลักหน่วยก่อน 6 × 3 = 18 เขียน 8 ทด 1 ไว้เหนือหลักสิบ
3. คูณหลักสิบ 2 × 3 = 6 แล้วรวมตัวทด 6 + 1 = 7
4. ดังนั้น 26 × 3 = 78

★ ตอบ 26 × 3 = 78

เคล็ดลับ: คูณหลักหน่วยก่อนเสมอ ผลคูณครบสิบเมื่อไรให้ทดไปหลักสิบ

ต่อไปลองปีนเอง 4 ระดับ ข้อ 65–80 →

สู้ ๆ นะ!



ระบายสีฉันได้นะ

ชื่อ ..... ชั้น ป.2/ ..... เลขที่ .....

123 คณิตศาสตร์ ป.2 · การคูณ

ข้อ 65–66

กิจกรรม 5

ตั้งคูณ



ระดับ 1

ก้าวแรก ★

มีตัวช่วยครบทุกขั้น เติมในช่องว่างได้เลย

ค่อย ๆ ทำทีละขั้นนะ



ข้อ 65 ตั้งคูณแล้วหาผลคูณ 23 × 3 = ...

ร้อย	สิบ	หน่วย
	☐	
	2	3
		3 ×
	☐	☐

ชวนคิด คูณหลักหน่วย แล้วคูณหลักสิบ

วิธีทำ

★ ตอบ _____

ข้อ 66 ตั้งคูณแล้วหาผลคูณ 41 × 2 = ...

ร้อย	สิบ	หน่วย
	☐	
	4	1
		2 ×
	☐	☐

ชวนคิด 1 × 2 แล้ว 4 × 2

วิธีทำ

★ ตอบ _____

ชื่อ ..... ชั้น ป.2/ ..... เลขที่ .....

ข้อ 67–68



กิจกรรม 5

ตั้งคูณ

ระดับ 1 ก้าวแรก ★ (ต่อ)

ข้อ 67 ตั้งคูณแล้วหาผลคูณ 32 × 3 = ...

ร้อย	สิบ	หน่วย
	☐	
	3	2
		3 ×
	☐	☐

ชวนคิด ไม่มีการทด

วิธีทำ

★ ตอบ _____

ข้อ 68 ตั้งคูณแล้วหาผลคูณ 12 × 4 = ...

ร้อย	สิบ	หน่วย
	☐	
	1	2
		4 ×
	☐	☐

ชวนคิด 2 × 4 = 8 ไม่ต้องทด

วิธีทำ

★ ตอบ _____

ชื่อ ..... ชั้น ป.2/ ..... เลขที่ .....

ข้อ 69–70

กิจกรรม 5

ตั้งคูณ



ระดับ 2

ออกเดินทาง ★★

มีคำใบ้บอกว่าต้องทำอะไร ลองคิดเองมากขึ้น

อ่านคำใบ้ก่อนลงมือนะ



ข้อ 69 ตั้งคูณแล้วหาผลคูณ 16 × 4 = ...

$$\begin{array}{r} \square \\ 16 \\ \times\ 4 \\ \hline \square\square \\ \hline\hline \end{array}$$

คำใบ้ 6 × 4 = 24 เขียน 4 ทด 2

วิธีทำ

★ ตอบ _____

ข้อ 70 ตั้งคูณแล้วหาผลคูณ 27 × 3 = ...

$$\begin{array}{r} \square \\ 27 \\ \times\ 3 \\ \hline \square\square \\ \hline\hline \end{array}$$

คำใบ้ 7 × 3 = 21 เขียน 1 ทด 2

วิธีทำ

★ ตอบ _____

ชื่อ ..... ชั้น ป.2/ ..... เลขที่ .....

ข้อ 71–72



กิจกรรม 5

ตั้งคูณ

ระดับ 2 ออกเดินทาง ★ ★ (ต่อ)

ข้อ 71 ตั้งคูณแล้วหาผลคูณ 15 × 6 = ...

$$\begin{array}{r} \square \\ 15 \\ \times\ 6 \\ \hline \square\square \end{array}$$

คำใบ้ 5 × 6 = 30 เขียน 0 ทด 3

วิธีทำ

★ ตอบ _____

ข้อ 72 ตั้งคูณแล้วหาผลคูณ 38 × 2 = ...

$$\begin{array}{r} \square \\ 38 \\ \times\ 2 \\ \hline \square\square \end{array}$$

คำใบ้ 8 × 2 = 16 เขียน 6 ทด 1

วิธีทำ

★ ตอบ _____

ชื่อ ..... ชั้น ป.2/ ..... เลขที่ .....

ข้อ 73–74

กิจกรรม 5

ตั้งคูณ



ระดับ 3

ปีนให้สูงขึ้น ★ ★ ★

คำใบ้เหลือแค่สั้น ๆ ต้องเลือกวิธีเอง

ข้อหลังไม่มีคำใบ้แล้วนะ



ข้อ 73 ตั้งคูณแล้วหาผลคูณ 45 × 6 = ...

$$\begin{array}{r} \square \\ 45 \\ \times\ 6 \\ \hline \square\square\square \end{array}$$

ใบ้สั้น ๆ ผลคูณเป็นจำนวนสามหลัก

วิธีทำ

★ ตอบ _____

ข้อ 74 ตั้งคูณแล้วหาผลคูณ 73 × 4 = ...

$$\begin{array}{r} \square \\ 73 \\ \times\ 4 \\ \hline \square\square\square \end{array}$$

ใบ้สั้น ๆ 7 × 4 = 28 เขียน 28 ได้เลย

วิธีทำ

★ ตอบ _____

ชื่อ ..... ชั้น ป.2/ ..... เลขที่ .....

ข้อ 75–76



กิจกรรม 5

ตั้งคูณ

ระดับ 3 ปีนให้สูงขึ้น ★ ★ ★ (ต่อ)

ข้อ 75 ตั้งคูณแล้วหาผลคูณ 58 × 7 = ...

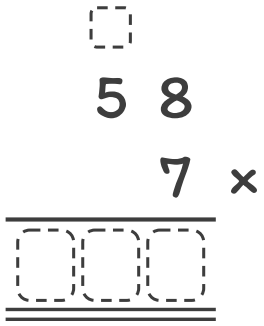

วิธีทำ

★ ตอบ _____

ข้อ 76 ตั้งคูณแล้วหาผลคูณ 96 × 9 = ...

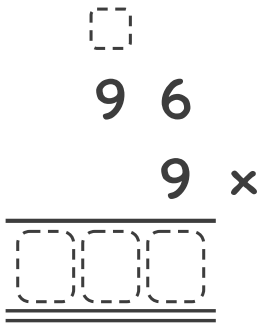

วิธีทำ

★ ตอบ _____

ชื่อ ..... ชั้น ป.2/ ..... เลขที่ .....

123 คณิตศาสตร์ ป.2 · การคูณ

ข้อ 77–78

กิจกรรม 5

ตั้งคูณ

ระดับ 4

พิชิตยอดเขา ★ ★ ★ ★

ไม่มีคำใบ้แล้ว โจทย์ปัญหาและข้อท้าทาย

คิดเองได้ สู้ ๆ!



ข้อ 77 หาเลขโดดที่หายไป แล้วเขียนประโยคสัญลักษณ์

$$\begin{array}{r} \square \\ 2\square \\ \times\ \ 4 \\ \hline 92 \end{array}$$

วิธีทำ

ตอบ .....

ข้อ 78 หาเลขโดดที่หายไป แล้วเขียนประโยคสัญลักษณ์

$$\begin{array}{r} \square \\ \square 7 \\ \times\ \ 3 \\ \hline 141 \end{array}$$

วิธีทำ

ตอบ .....

ชื่อ ..... ชั้น ป.2/ ..... เลขที่ .....

ข้อ 79–80

กิจกรรม 5

ตั้งคูณ



ระดับ 4 พิชิตยอดเขา ★ ★ ★ ★ (ต่อ)

ข้อ 79 น้องภูตั้งคูณ 34 × 5 ได้ 150 น้องภูทำผิดตรงไหน ตั้งคูณให้ถูก

$$\begin{array}{r} 34 \\ \times\ 5 \\ \hline 150 \end{array}$$

วิธีทำ

★ ตอบ _____

ข้อ 80 ใช้บัตร 3 5 7 ใบละครั้ง ให้ได้ผลคูณมากที่สุด

▢▢ × ▢ = ...

3	5	7

วิธีทำ

★ ตอบ _____

ชื่อ ..... ชั้น ป.2/ ..... เลขที่ .....

★ ตัวอย่างแสดงวิธีทำ

กิจกรรม 6

เปรียบเทียบผลคูณและหาจำนวนที่ไม่ทราบค่า



★ ดูตัวอย่างทีละขั้น แล้วลองทำเองต่อ

โจทย์ หาจำนวนที่เติมใน ☐

$4 \times \square = 28$

อธิบายวิธีคิดทีละขั้น

1. $4 \times \square = 28$ หมายถึง 4 กลุ่ม กลุ่มละเท่าไรจึงได้ 28
2. ท่องสูตรคูณ $4 \times 5 = 20 \cdot 4 \times 6 = 24 \cdot 4 \times 7 = 28$
3. ดังนั้น $\square = 7$
4. ตรวจคำตอบ $4 \times 7 = 28$ ถูกต้อง

★ ตอบ $\square = 7$

เคล็ดลับ: เปรียบเทียบผลคูณได้โดยไม่ต้องคูณ ถ้าจำนวนกลุ่มเท่ากัน กลุ่มที่มีสมาชิกมากกว่าจะได้ผลคูณมากกว่า

ต่อไปลองปีนเอง 4 ระดับ ข้อ 81–96 →

สู้ ๆ นะ!



ระบายสีฉันได้นะ

ชื่อ ..... ชั้น ป.2/ ..... เลขที่ .....

ข้อ 81–82

กิจกรรม 6

เปรียบเทียบผลคูณและหาจำนวนที่ไม่ทราบค่า



ระดับ 1

ก้าวแรก ★

มีตัวช่วยครบทุกขั้น เติมในช่องว่างได้เลย

ค่อย ๆ ทำทีละขั้นนะ



ข้อ 81 เติม > < หรือ = ลงใน ☐

$3 \times 6 \square 3 \times 8$

ชวนคิด จำนวนกลุ่มเท่ากัน ดูจำนวนในแต่ละกลุ่ม

วิธีทำ

จำนวนกลุ่มเท่ากัน · กลุ่มละ ..... กับกลุ่มละ .....

★ ตอบ _____

ข้อ 82 เติม > < หรือ = ลงใน ☐

$5 \times 4 \square 4 \times 5$

ชวนคิด สลับที่การคูณได้ผลคูณเท่าเดิม

วิธีทำ

..... × ..... กับ ..... × ..... สลับที่กัน

★ ตอบ _____

กิจกรรม 6

เปรียบเทียบผลคูณและหาจำนวนที่ไม่ทราบค่า



ระดับ 1 ก้าวแรก ★ (ต่อ)

ข้อ 83 เติม > < หรือ = ลงใน ☐

$7 \times 2 \quad \square \quad 6 \times 2$

ชวนคิด กลุ่มละ 2 เท่ากัน ดูจำนวนกลุ่ม

วิธีทำ

กลุ่มละเท่ากัน · ..... กลุ่ม กับ ..... กลุ่ม

★ ตอบ _____

ข้อ 84 เติม > < หรือ = ลงใน ☐

$9 \times 0 \quad \square \quad 1 \times 0$

ชวนคิด คูณด้วย 0 ได้ 0

วิธีทำ

..... × 0 = ... × 0 = ...

★ ตอบ _____

ชื่อ ..... ชั้น ป.2/ ..... เลขที่ .....

ข้อ 85–86

กิจกรรม 6

เปรียบเทียบผลคูณและหาจำนวนที่ไม่ทราบค่า



ระดับ 2

ออกเดินทาง ★★

มีคำใบ้บอกว่าต้องทำอะไร ลองคิดเองมากขึ้น

อ่านคำใบ้ก่อนลงมือนะ



ข้อ 85 หาจำนวนที่เติมใน ☐

☐ × 6 = 30

คำใบ้ ท่องสูตรคูณแม่ 6

วิธีทำ

☐ = ... ตรวจคำตอบ .....

★ ตอบ _____

ข้อ 86 หาจำนวนที่เติมใน ☐

3 × ☐ = 24

คำใบ้ 3 กลุ่ม กลุ่มละเท่าไรได้ 24

วิธีทำ

☐ = ... ตรวจคำตอบ .....

★ ตอบ _____

ชื่อ ..... ชั้น ป.2/ ..... เลขที่ .....

ข้อ 87–88

กิจกรรม 6

เปรียบเทียบผลคูณและหาจำนวนที่ไม่ทราบค่า



ระดับ 2 ออกเดินทาง ★ ★ (ต่อ)

ข้อ 87 หาจำนวนที่เติมใน ☐

☐ × 9 = 54

คำใบ้ ท่องสูตรคูณแม่ 9

วิธีทำ

☐ = ... ตรวจคำตอบ .....

★ ตอบ _____

ข้อ 88 หาจำนวนที่เติมใน ☐

7 × ☐ = 0

คำใบ้ คูณกับจำนวนใดจึงได้ 0

วิธีทำ

☐ = ... ตรวจคำตอบ .....

★ ตอบ _____

ชื่อ ..... ชั้น ป.2/ ..... เลขที่ .....

ข้อ 89–90

กิจกรรม 6

เปรียบเทียบผลคูณและหาจำนวนที่ไม่ทราบค่า



ระดับ 3

ปีนให้สูงขึ้น ★ ★ ★

คำใบ้เหลือแค่สั้น ๆ ต้องเลือกวิธีเอง

ข้อหลังไม่มีคำใบ้แล้วนะ



ข้อ 89 หาจำนวนที่เติมใน ☐

$8 \times \square = 56$

ใบ้สั้น ๆ 8 × 7 กับ 7 × 8 ได้ผลคูณเท่ากัน

วิธีทำ

☐ = ... ตรวจคำตอบ .....

★ ตอบ _____

ข้อ 90 หาจำนวนที่เติมใน ☐

$\square \times 7 = 63$

ใบ้สั้น ๆ ท่องสูตรคูณแม่ 7

วิธีทำ

☐ = ... ตรวจคำตอบ .....

★ ตอบ _____

ชื่อ ..... ชั้น ป.2/ ..... เลขที่ .....

ข้อ 91–92

กิจกรรม 6

เปรียบเทียบผลคูณและหาจำนวนที่ไม่ทราบค่า



ระดับ 3 ปีนให้สูงขึ้น ★ ★ ★ (ต่อ)

ข้อ 91 หาจำนวนที่เติมใน ☐

$40 = 5 \times$ ☐

วิธีทำ

☐ = _____ ตรวจคำตอบ _____

★ ตอบ _____

ข้อ 92 หาจำนวนที่เติมใน ☐

☐ $\times 30 = 120$

วิธีทำ

☐ = _____ ตรวจคำตอบ _____

★ ตอบ _____

ชื่อ ..... ชั้น ป.2/ ..... เลขที่ .....

ข้อ 93–94

กิจกรรม 6

เปรียบเทียบผลคูณและหาจำนวนที่ไม่ทราบค่า



ระดับ 4

พิชิตยอดเขา ★ ★ ★ ★

ไม่มีคำใบ้แล้ว โจทย์ปัญหาและข้อท้าทาย

คิดเองได้ สู้ ๆ!



ข้อ 93 เติมจำนวนหนึ่งหลักให้ได้ 3 แบบ

☐ × ☐ = 24

วิธีทำ

★ ตอบ _____

ข้อ 94 28 × 3 มากกว่า 100 หรือไม่ ตอบโดยไม่ต้องหาผลคูณ แล้วอธิบาย

วิธีทำ

★ ตอบ _____

ชื่อ ..... ชั้น ป.2/ ..... เลขที่ .....

ข้อ 95–96

กิจกรรม 6

เปรียบเทียบผลคูณและหาจำนวนที่ไม่ทราบค่า



ระดับ 4 พิชิตยอดเขา ★ ★ ★ ★ (ต่อ)

ข้อ 95 เติม > < หรือ = ลงใน ☐

25×4 ☐ 26×4

วิธีทำ

★ ตอบ _____

ข้อ 96 จำนวนหนึ่งหลักใดคูณกับ 7 แล้วได้ผลคูณระหว่าง 40 กับ 50

วิธีทำ

★ ตอบ _____

★ ตัวอย่างแสดงวิธีทำ



กิจกรรม 7

โจทย์ปัญหาการคูณ

★ ดูตัวอย่างทีละขั้น แล้วลองทำเองต่อ

โจทย์ มีจาน 4 ใบ ใส่ส้มใบละ 6 ผล มีส้มทั้งหมดกี่ผล



อธิบายวิธีคิดทีละขั้น

1. โจทย์บอกว่า มีจาน 4 ใบ แต่ละใบมีส้ม 6 ผลเท่ากัน
2. โจทย์ถามว่า มีส้มทั้งหมดกี่ผล
3. 4 กลุ่ม กลุ่มละ 6 เขียนเป็น 4 × 6 = ☐
4. 4 × 6 = 24 ตรวจด้วยการบวก 6 + 6 + 6 + 6 = 24

★ ตอบ มีส้มทั้งหมด 24 ผล

เคล็ดลับ: โจทย์ที่มีกลุ่มเท่า ๆ กัน และถามว่าทั้งหมดเท่าไร ใช้การคูณ

ต่อไปลองปีนเอง 4 ระดับ ข้อ 97–112 →

สู้ ๆ นะ!



ระบายสีฉันได้นะ

ชื่อ ..... ชั้น ป.2/ ..... เลขที่ .....

ข้อ 97–98

กิจกรรม 7

โจทย์ปัญหาการคูณ



ระดับ 1

ก้าวแรก ★

มีตัวช่วยครบทุกขั้น เติมในช่องว่างได้เลย

ค่อย ๆ ทำทีละขั้นนะ



ข้อ 97 แจกันดอกไม้ 5 แจกัน แจกันละ 4 ดอก มีดอกไม้ทั้งหมดกี่ดอก



ชวนคิด 5 กลุ่ม กลุ่มละ 4

วิธีทำ

..... กลุ่ม กลุ่มละ ..... ประโยคสัญลักษณ์ ..... × ..... = ☐

☐ = ...

★ ตอบ .....

ข้อ 98 ใส่ส้มถุงละ 3 ผล 6 ถุง มีส้มทั้งหมดกี่ผล

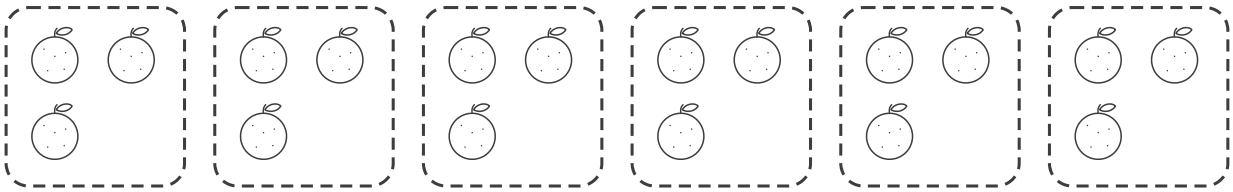

ชวนคิด 6 กลุ่ม กลุ่มละ 3

วิธีทำ

..... กลุ่ม กลุ่มละ ..... ประโยคสัญลักษณ์ ..... × ..... = ☐

☐ = ...

★ ตอบ .....

ชื่อ ..... ชั้น ป.2/ ..... เลขที่ .....

ข้อ 99–100

กิจกรรม 7

โจทย์ปัญหาการคูณ

ระดับ 1 ก้าวแรก ★ (ต่อ)

ข้อ 99 มีบ่อปลา 4 บ่อ บ่อละ 7 ตัว มีปลาทั้งหมดกี่ตัว

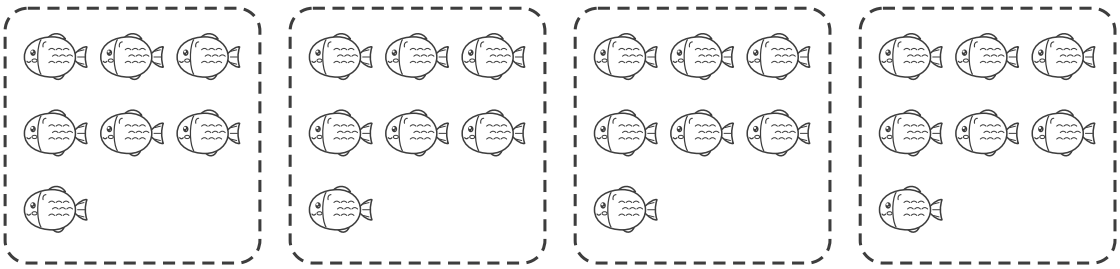

ชวนคิด 4 กลุ่ม กลุ่มละ 7

วิธีทำ

..... กลุ่ม กลุ่มละ ..... ประโยคสัญลักษณ์ ..... × ..... = ☐

☐ = ...

★ ตอบ .....

ข้อ 100 มีลูกโป่ง 3 มัด มัดละ 8 ลูก มีลูกโป่งทั้งหมดกี่ลูก



ชวนคิด 3 กลุ่ม กลุ่มละ 8

วิธีทำ

..... กลุ่ม กลุ่มละ ..... ประโยคสัญลักษณ์ ..... × ..... = ☐

☐ = ...

★ ตอบ .....

ชื่อ ..... ชั้น ป.2/ ..... เลขที่ .....

ข้อ 101–102

กิจกรรม 7

โจทย์ปัญหาการคูณ



ระดับ 2

ออกเดินทาง ★★

มีคำใบ้บอกว่าต้องทำอะไร ลองคิดเองมากขึ้น

อ่านคำใบ้ก่อนลงมือนะ



ข้อ 101 นักเรียนนั่งเป็นแถว 6 แถว แถวละ 8 คน มีนักเรียนทั้งหมดกี่คน

คำใบ้ จำนวนแถว × จำนวนในแต่ละแถว

วิธีทำ

โจทย์บอกว่า .....

โจทย์ถามว่า .....

ประโยคสัญลักษณ์ .....

★ ตอบ _____

ข้อ 102 รถสามล้อ 1 คันมี 3 ล้อ รถสามล้อ 9 คันมีกี่ล้อ

คำใบ้ 9 กลุ่ม กลุ่มละ 3

วิธีทำ

โจทย์บอกว่า .....

โจทย์ถามว่า .....

ประโยคสัญลักษณ์ .....

★ ตอบ _____

ชื่อ ..... ชั้น ป.2/ ..... เลขที่ .....

ข้อ 103–104

กิจกรรม 7

โจทย์ปัญหาการคูณ



ระดับ 2 ออกเดินทาง ★ ★ (ต่อ)

ข้อ 103 สมุด 7 แพ็ก แพ็กละ 10 เล่ม มีสมุดทั้งหมดกี่เล่ม

คำใบ้ คูณด้วย 10 เติม 0

วิธีทำ

โจทย์บอกว่า .....

โจทย์ถามว่า .....

ประโยคสัญลักษณ์ .....

★ ตอบ _____

ข้อ 104 แมงมุม 1 ตัวมี 8 ขา แมงมุม 5 ตัวมีกี่ขา

คำใบ้ 5 กลุ่ม กลุ่มละ 8

วิธีทำ

โจทย์บอกว่า .....

โจทย์ถามว่า .....

ประโยคสัญลักษณ์ .....

★ ตอบ _____

ชื่อ ..... ชั้น ป.2/ ..... เลขที่ .....

ข้อ 105–106

กิจกรรม 7

โจทย์ปัญหาการคูณ



ระดับ 3

ปีนให้สูงขึ้น ★ ★ ★

คำใบ้เหลือแค่สั้น ๆ ต้องเลือกวิธีเอง

ข้อหลังไม่มีคำใบ้แล้วนะ



ข้อ 105 ไข่ไก่ 4 แผง แผงละ 30 ฟอง มีไข่ไก่ทั้งหมดกี่ฟอง

ใบ้สั้น ๆ 4 × 3 = 12 แล้วเติม 0

วิธีทำ

★ ตอบ _____

ข้อ 106 โรงเรียนมี 8 ห้องเรียน ห้องละ 35 คน มีนักเรียนทั้งหมดกี่คน

ใบ้สั้น ๆ ตั้งคูณ 35 × 8

วิธีทำ

★ ตอบ _____

กิจกรรม 7

โจทย์ปัญหาการคูณ

ระดับ 3 ปีนให้สูงขึ้น ★ ★ ★ (ต่อ)

ข้อ 107 ดินสอสี 6 กล่อง กล่องละ 24 แท่ง มีดินสอสีทั้งหมดกี่แท่ง

วิธีทำ

★ ตอบ _____

ข้อ 108 ปลาหมึก 1 ตัวมี 8 หนวด ปลาหมึก 9 ตัวมีกี่หนวด

วิธีทำ

★ ตอบ _____

กิจกรรม 7

โจทย์ปัญหาการคูณ



ระดับ 4

พิชิตยอดเขา ★ ★ ★ ★

ไม่มีคำใบ้แล้ว โจทย์ปัญหาและข้อท้าทาย

คิดเองได้ สู้ ๆ!



ข้อ 109 รถตู้ 1 คันนั่งได้ 12 คน รถตู้ 7 คันนั่งได้กี่คน

วิธีทำ

★ ตอบ _____

ข้อ 110 ตะเกียบ 1 คู่มี 2 อัน มีตะเกียบ 46 คู่ มีตะเกียบกี่อัน

วิธีทำ

★ ตอบ _____

ชื่อ ..... ชั้น ป.2/ ..... เลขที่ .....

ข้อ 111–112

กิจกรรม 7

โจทย์ปัญหาการคูณ



ระดับ 4 พิชิตยอดเขา ★ ★ ★ ★ (ต่อ)

ข้อ 111 โต๊ะ 1 ตัวมี 4 ขา โต๊ะ 25 ตัวมีกี่ขา

วิธีทำ

★ ตอบ _____

ข้อ 112 ข้าวสาร 1 ถุงหนัก 5 กก. ข้าวสาร 8 ถุงหนักกี่กิโลกรัม

วิธีทำ

★ ตอบ _____

★ ตัวอย่างแสดงวิธีทำ



กิจกรรม 8

สร้างโจทย์ปัญหาการคูณ

★ ดูตัวอย่างทีละขั้น แล้วลองทำเองต่อ

โจทย์ สร้างโจทย์ปัญหาการคูณจากภาพ แล้วหาคำตอบ



อธิบายวิธีคิดทีละขั้น

1. ดูภาพ มีส้ม 3 กลุ่ม กลุ่มละ 5 ผล
2. โจทย์ต้องมีส่วนที่บอก และส่วนที่ถาม
3. โจทย์: มีจาน 3 ใบ ใส่ส้มใบละ 5 ผล มีส้มทั้งหมดกี่ผล
4. ประโยคสัญลักษณ์ 3 × 5 = ☐ ได้ 3 × 5 = 15

★ ตอบ **มีส้มทั้งหมด 15 ผล**

เคล็ดลับ: โจทย์การคูณต้องบอกว่ามีกี่กลุ่ม และแต่ละกลุ่มมีเท่าไร

ต่อไปลองปีนเอง 4 ระดับ ข้อ 113–128 →

สู้ ๆ นะ!



ระบายสีฉันได้นะ

ชื่อ ..... ชั้น ป.2/ ..... เลขที่ .....

ข้อ 113–114

กิจกรรม 8

สร้างโจทย์ปัญหาการคูณ



ระดับ 1

ก้าวแรก ★

มีตัวช่วยครบทุกขั้น เติมในช่องว่างได้เลย

ค่อย ๆ ทำทีละขั้นนะ



ข้อ 113 เติมคำและตัวเลขให้เป็นโจทย์ปัญหาการคูณจากภาพ แล้วหาคำตอบ



ชวนคิด 4 กลุ่ม กลุ่มละ 2

วิธีทำ

มี .... แต่ละ ..... มี ....

มี ..... ทั้งหมดกี่ ..... ประโยคสัญลักษณ์ .....

★ ตอบ _____

ข้อ 114 เติมคำและตัวเลขให้เป็นโจทย์ปัญหาการคูณจากภาพ แล้วหาคำตอบ



ชวนคิด 3 กลุ่ม กลุ่มละ 6

วิธีทำ

มี .... แต่ละ ..... มี ....

มี ..... ทั้งหมดกี่ ..... ประโยคสัญลักษณ์ .....

★ ตอบ _____

ชื่อ ..... ชั้น ป.2/ ..... เลขที่ .....

ข้อ 115–116

กิจกรรม 8

สร้างโจทย์ปัญหาการคูณ

ระดับ 1 ก้าวแรก ★ (ต่อ)

ข้อ 115 เติมคำและตัวเลขให้เป็นโจทย์ปัญหาการคูณจากภาพ แล้วหาคำตอบ



ชวนคิด 5 กลุ่ม กลุ่มละ 5

วิธีทำ

มี .... แต่ละ ..... มี ....

มี ..... ทั้งหมดกี่ ..... ประโยคสัญลักษณ์ .....

★ ตอบ .....

ข้อ 116 เติมคำและตัวเลขให้เป็นโจทย์ปัญหาการคูณจากภาพ แล้วหาคำตอบ

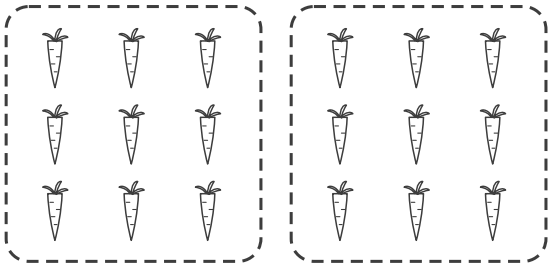

ชวนคิด 2 กลุ่ม กลุ่มละ 9

วิธีทำ

มี .... แต่ละ ..... มี ....

มี ..... ทั้งหมดกี่ ..... ประโยคสัญลักษณ์ .....

★ ตอบ .....

ชื่อ ..... ชั้น ป.2/ ..... เลขที่ .....

ข้อ 117–118

กิจกรรม 8

สร้างโจทย์ปัญหาการคูณ

ระดับ 2

ออกเดินทาง ★★

มีคำใบ้บอกว่าต้องทำอะไร ลองคิดเองมากขึ้น

อ่านคำใบ้ก่อนลงมือนะ

ข้อ 117 สร้างโจทย์ปัญหาการคูณจากภาพ แล้วหาคำตอบ

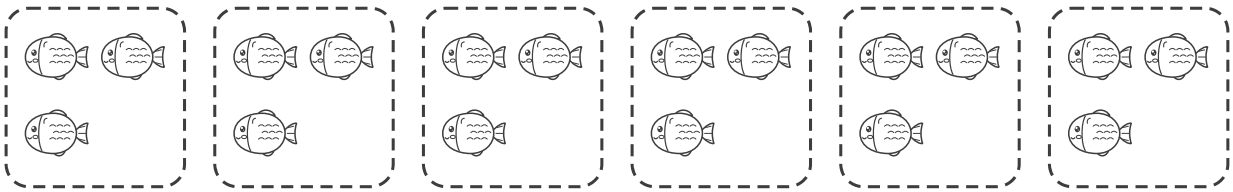

คำใบ้ บอกจำนวนกลุ่มและจำนวนในแต่ละกลุ่ม

วิธีทำ

โจทย์ของฉัน .....

ประโยคสัญลักษณ์ .....

★ ตอบ _____

ข้อ 118 สร้างโจทย์ปัญหาการคูณจากภาพ แล้วหาคำตอบ



คำใบ้ คำถามใช้คำว่า ทั้งหมด

วิธีทำ

โจทย์ของฉัน .....

ประโยคสัญลักษณ์ .....

★ ตอบ _____

ชื่อ ..... ชั้น ป.2/ ..... เลขที่ .....

ข้อ 119–120

กิจกรรม 8

สร้างโจทย์ปัญหาการคูณ

ระดับ 2 ออกเดินทาง ★ ★ (ต่อ)

ข้อ 119 สร้างโจทย์ปัญหาการคูณจากภาพ แล้วหาคำตอบ

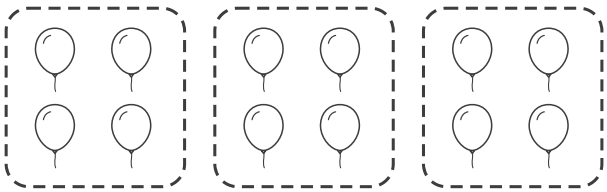

คำใบ้ 3 กลุ่ม กลุ่มละ 4

วิธีทำ

โจทย์ของฉัน .....

ประโยคสัญลักษณ์ .....

★ ตอบ _____

ข้อ 120 สร้างโจทย์ปัญหาการคูณจากภาพ แล้วหาคำตอบ



คำใบ้ 5 กลุ่ม กลุ่มละ 2

วิธีทำ

โจทย์ของฉัน .....

ประโยคสัญลักษณ์ .....

★ ตอบ _____

ชื่อ ..... ชั้น ป.2/ ..... เลขที่ .....

ข้อ 121–122

กิจกรรม 8

สร้างโจทย์ปัญหาการคูณ



ระดับ 3

ปีนให้สูงขึ้น ★ ★ ★

คำใบ้เหลือแค่สั้น ๆ ต้องเลือกวิธีเอง

ข้อหลังไม่มีคำใบ้แล้วนะ



ข้อ 121 สร้างโจทย์ปัญหาจากประโยคสัญลักษณ์ แล้วหาคำตอบ

$6 \times 7 =$ ☐

ใบ้สั้น ๆ 6 กลุ่ม กลุ่มละ 7

วิธีทำ

โจทย์ของฉัน .....

ประโยคสัญลักษณ์ .....

★ ตอบ _____

ข้อ 122 สร้างโจทย์ปัญหาจากประโยคสัญลักษณ์ แล้วหาคำตอบ

$8 \times 25 =$ ☐

ใบ้สั้น ๆ 8 กลุ่ม กลุ่มละ 25

วิธีทำ

โจทย์ของฉัน .....

ประโยคสัญลักษณ์ .....

★ ตอบ _____

ชื่อ ..... ชั้น ป.2/ ..... เลขที่ .....

ข้อ 123–124



กิจกรรม 8 สร้างโจทย์ปัญหาการคูณ

ระดับ 3 ปีนให้สูงขึ้น ★ ★ ★ (ต่อ)

ข้อ 123 สร้างโจทย์ปัญหาจากประโยคสัญลักษณ์ แล้วหาคำตอบ

$4 \times 30 =$ ☐

วิธีทำ

โจทย์ของฉัน .....

ประโยคสัญลักษณ์ .....

★ ตอบ _____

ข้อ 124 สร้างโจทย์ปัญหาจากประโยคสัญลักษณ์ แล้วหาคำตอบ

$9 \times 9 =$ ☐

วิธีทำ

โจทย์ของฉัน .....

ประโยคสัญลักษณ์ .....

★ ตอบ _____

ชื่อ ..... ชั้น ป.2/ ..... เลขที่ .....

ข้อ 125–126

กิจกรรม 8

สร้างโจทย์ปัญหาการคูณ



ระดับ 4

พิชิตยอดเขา ★ ★ ★ ★

ไม่มีคำใบ้แล้ว โจทย์ปัญหาและข้อท้าทาย

คิดเองได้ สู้ ๆ!



ข้อ 125 แต่งโจทย์ปัญหาการคูณที่มีคำตอบเป็น 36 แล้วแสดงวิธีหาคำตอบ

วิธีทำ

โจทย์ของฉัน .....

ประโยคสัญลักษณ์ .....

★ ตอบ _____

ข้อ 126 แต่งโจทย์ปัญหาการคูณที่มีคำตอบเป็น 48 แล้วแสดงวิธีหาคำตอบ

วิธีทำ

โจทย์ของฉัน .....

ประโยคสัญลักษณ์ .....

★ ตอบ _____

ชื่อ ..... ชั้น ป.2/ ..... เลขที่ .....

ข้อ 127–128

กิจกรรม 8

สร้างโจทย์ปัญหาการคูณ



ระดับ 4 พิชิตยอดเขา ★ ★ ★ ★ (ต่อ)

ข้อ 127 โจทย์ของเพื่อน: “มีดินสอ 6 กล่อง มีดินสอทั้งหมดกี่แท่ง” โจทย์นี้ขาดอะไร แก้ให้ถูก แล้วหาคำตอบ

วิธีทำ

โจทย์ของฉัน .....

ประโยคสัญลักษณ์ .....

★ ตอบ _____

ข้อ 128 แต่งโจทย์ปัญหาจากประโยคสัญลักษณ์ แล้วหาคำตอบ

$5 \times 12 = \square$

วิธีทำ

โจทย์ของฉัน .....

ประโยคสัญลักษณ์ .....

★ ตอบ _____

ชื่อ ..... ชั้น ป.2/ ..... เลขที่ .....

★ ประเมินตัวเอง



ถึงยอดเขาแล้ว!

ทบทวนความคิดของฉัน

กิจกรรมที่ฉันชอบที่สุดคือกิจกรรม ___ เพราะ _____

ข้อที่ยากที่สุดสำหรับฉันคือข้อ ___ เพราะ _____

สิ่งที่ฉันทำได้ดีขึ้นคือ _____

★ ประเมินตัวเองหลังจบหน่วย

ระบายดาวตามความมั่นใจ · 1 ดวง = ยังไม่ค่อยเข้าใจ · 2 ดวง = เข้าใจแล้ว · 3 ดวง = เข้าใจดีมาก

	ระดับ 1 ก้าวแรก	**ระดับ 2** ออกเดินทาง	**ระดับ 3** ปีนให้สูงขึ้น	**ระดับ 4** พิชิตยอดเขา
กิจกรรม 1 ความหมายของการคูณ	☆ ☆ ☆	☆ ☆ ☆	☆ ☆ ☆	☆ ☆ ☆
กิจกรรม 2 หนึ่งและศูนย์กับการคูณ และสูตรคูณแม่ 2 ถึง 5	☆ ☆ ☆	☆ ☆ ☆	☆ ☆ ☆	☆ ☆ ☆
กิจกรรม 3 สูตรคูณแม่ 6 ถึง 9	☆ ☆ ☆	☆ ☆ ☆	☆ ☆ ☆	☆ ☆ ☆
กิจกรรม 4 การคูณจำนวนหนึ่งหลักกับ 10 20 30 ... 90	☆ ☆ ☆	☆ ☆ ☆	☆ ☆ ☆	☆ ☆ ☆
กิจกรรม 5 ตั้งคูณ	☆ ☆ ☆	☆ ☆ ☆	☆ ☆ ☆	☆ ☆ ☆
กิจกรรม 6 เปรียบเทียบผลคูณและหาจำนวนที่ไม่ทราบค่า	☆ ☆ ☆	☆ ☆ ☆	☆ ☆ ☆	☆ ☆ ☆
กิจกรรม 7 โจทย์ปัญหาการคูณ	☆ ☆ ☆	☆ ☆ ☆	☆ ☆ ☆	☆ ☆ ☆
กิจกรรม 8 สร้างโจทย์ปัญหาการคูณ	☆ ☆ ☆	☆ ☆ ☆	☆ ☆ ☆	☆ ☆ ☆

ทำถูก ..... ข้อ จากทั้งหมด 128 ข้อ