ชั้นประถมศึกษาปีที่ 2 · คณิตศาสตร์ · หน่วยที่ 7

เวลา

ปฏิทิน วัน เดือน ปี การบอกเวลา ระยะเวลา และโจทย์ปัญหา



7 กิจกรรม · ตัวอย่างแสดงวิธีทำ 7 หน้า | แบบฝึก 112 ข้อ · 4 ระดับ | ฉบับนักเรียน | พิมพ์ขาว-ดำได้

หนังสือของ ..... ชั้น ป.2/ .....

คำแนะนำสำหรับครูและผู้ปกครอง

แบบฝึกชุด **เวลา** ชั้น ป.2 แต่ละกิจกรรมเริ่มด้วยหน้าตัวอย่างแสดงวิธีทำ แล้วให้เด็กค่อย ๆ ปีนขึ้นไปทีละระดับ จากก้าวแรกที่มีตัวช่วยครบ ไปจนถึงพิชิตยอดเขาที่ต้องคิดเอง

1 ในชุดนี้มีอะไรบ้าง

กิจกรรม 1 · อ่านปฏิทิน	หน้า 3–11	**16 ข้อ (ข้อ 1–16)**
กิจกรรม 2 · เขียนแสดงวัน เดือน ปี	หน้า 12–20	**16 ข้อ (ข้อ 17–32)**
กิจกรรม 3 · บอกเวลาเป็นนาฬิกา	หน้า 21–29	**16 ข้อ (ข้อ 33–48)**
กิจกรรม 4 · บอกเวลาเป็นนาฬิกาและนาที	หน้า 30–38	**16 ข้อ (ข้อ 49–64)**
กิจกรรม 5 · บอกระยะเวลาเป็นชั่วโมงหรือนาที	หน้า 39–47	**16 ข้อ (ข้อ 65–80)**
กิจกรรม 6 · บอกเวลาจากนาฬิกาแบบตัวเลข	หน้า 48–56	**16 ข้อ (ข้อ 81–96)**
กิจกรรม 7 · โจทย์ปัญหาเกี่ยวกับเวลา	หน้า 57–65	**16 ข้อ (ข้อ 97–112)**

2 ระดับการเรียนรู้ในทุกกิจกรรม

ระดับ 1 ก้าวแรก ★
มีภาพและตัวช่วยครบทุกขั้น เติมในช่องว่างได้เลย

ระดับ 2 ออกเดินทาง ★★
มีคำใบ้บอกว่าต้องทำอะไร ลองคิดเองมากขึ้น

ระดับ 3 ปีนให้สูงขึ้น ★★★
คำใบ้เหลือแค่สั้น ๆ ในสองข้อแรก ต้องเลือกวิธีเอง

ระดับ 4 พิชิตยอดเขา ★★★★
ไม่มีคำใบ้แล้ว โจทย์ปัญหา หาข้อผิด และข้อท้าทาย

3 ทำอย่างไรให้ได้ผล

- เริ่มทุกกิจกรรมจากหน้า **ตัวอย่างแสดงวิธีทำ** อ่านไปพร้อมกับเด็กให้ครบทุกขั้นก่อนลงมือทำ
- แต่ละกิจกรรมมีแบบฝึก 4 ระดับ ระดับละ 4 ข้อ หน้าละ 2 ข้อ ตัวช่วยค่อย ๆ ลดลงเมื่อขึ้นระดับ
- ครูเลือกระดับเริ่มต้นให้เด็กแต่ละคนได้ เด็กที่คล่องแล้วเริ่มที่ระดับ 2 หรือ 3 ได้
- ถ้าเด็กติดข้อใด ให้ย้อนไปดูหน้าตัวอย่างหรือข้อในระดับก่อนหน้า
- ให้เด็กเขียนคำตอบในบรรทัด **ตอบ** ทุกครั้ง แล้วชวนตรวจกลับ
- จบหน่วยแล้วให้เด็กทำหน้า **ถึงยอดเขาแล้ว!** (หน้า 66) เพื่อประเมินตัวเอง

4 สัญลักษณ์ในเล่ม

★ ตัวอย่าง	หน้าตัวอย่างแสดงวิธีทำ ดูก่อนลงมือ
ข้อ 1	เลขข้อแบบฝึก ตรงกับเลขข้อในเฉลย
คำใบ้	คำใบ้ (มีในระดับ 2 และ 2 ข้อแรกของระดับ 3)
★ ตอบ	บรรทัดสำหรับเขียนคำตอบ

ชุดนี้มี 7 กิจกรรม อยู่หน้า 3–65 หน้าประเมินตัวเองหน้า 66 เฉลยและแนวพิจารณาอยู่ท้ายเล่ม หน้า 67–78 (เฉพาะฉบับครู)

ชื่อ ..... ชั้น ป.2/ ..... เลขที่ .....

★ ตัวอย่างแสดงวิธีทำ



กิจกรรม 1

อ่านปฏิทิน

★ ดูตัวอย่างทีละขั้น แล้วลองทำเองต่อ

โจทย์ วันที่ 5 พฤศจิกายน พ.ศ. 2569 ตรงกับวันอะไร และเดือนนี้มีกี่วัน

พฤศจิกายน พ.ศ. 2569

อา.	จ.	อ.	พ.	พฤ.	ศ.	ส.
1	2	3	4	5	6	7
8	9	10	11	12	13	14
15	16	17	18	19	20	21
22	23	24	25	26	27	28
29	30					

อธิบายวิธีคิดทีละขั้น

1. ปฏิทินบอกชื่อเดือนและปีไว้ด้านบน แถวบนสุดบอกชื่อวันในสัปดาห์ เริ่มจากวันอาทิตย์
2. หาเลข 5 ในปฏิทิน แล้วมองขึ้นไปที่หัวแถว ตรงกับ พฤ. คือวันพฤหัสบดี
3. วันที่สุดท้ายของเดือนนี้คือวันที่ 30 เดือนพฤศจิกายนจึงมี 30 วัน
4. 1 สัปดาห์มี 7 วัน · 1 ปีมี 12 เดือน

★ ตอบ วันพฤหัสบดี · เดือนพฤศจิกายนมี 30 วัน

เคล็ดลับ: เดือนที่ลงท้ายด้วย คม มี 31 วัน เดือนที่ลงท้ายด้วย ยน มี 30 วัน เดือนกุมภาพันธ์มี 28 หรือ 29 วัน

ต่อไปลองปีนเอง 4 ระดับ ข้อ 1–16 →

สู้ ๆ นะ!



ระบายสีฉันได้นะ

ชื่อ ..... ชั้น ป.2/ ..... เลขที่ .....

ข้อ 1–2

กิจกรรม 1

อ่านปฏิทิน



ระดับ 1

ก้าวแรก ★

มีภาพและตัวช่วยครบทุกขั้น เติมในช่องว่างได้เลย

ค่อย ๆ ทำทีละขั้นนะ



ข้อ 1 วันที่ 5 ธันวาคม พ.ศ. 2569 ตรงกับวันอะไร

วิธีทำ

ธันวาคม พ.ศ. 2569

อา.	จ.	อ.	พ.	พฤ.	ศ.	ส.
		1	2	3	4	5
6	7	8	9	10	11	12
13	14	15	16	17	18	19
20	21	22	23	24	25	26
27	28	29	30	31		

หาวันที่ ..... ในปฏิทิน

มองขึ้นไปที่หัวแถว ตรงกับวัน

.....

★ ตอบ _____

ข้อ 2 วันที่ 16 มกราคม พ.ศ. 2570 ตรงกับวันอะไร

วิธีทำ

มกราคม พ.ศ. 2570

อา.	จ.	อ.	พ.	พฤ.	ศ.	ส.
					1	2
3	4	5	6	7	8	9
10	11	12	13	14	15	16
17	18	19	20	21	22	23
24	25	26	27	28	29	30
31						

หาวันที่ ..... ในปฏิทิน

มองขึ้นไปที่หัวแถว ตรงกับวัน

.....

★ ตอบ _____

ชื่อ ..... ชั้น ป.2/ ..... เลขที่ .....

ข้อ 3–4



กิจกรรม 1

อ่านปฏิทิน

ระดับ 1 ก้าวแรก ★ (ต่อ)

ข้อ 3 เดือนกุมภาพันธ์ พ.ศ. 2570 มีกี่วัน

วิธีทำ

กุมภาพันธ์ พ.ศ. 2570

อา.	จ.	อ.	พ.	พฤ.	ศ.	ส.
	1	2	3	4	5	6
7	8	9	10	11	12	13
14	15	16	17	18	19	20
21	22	23	24	25	26	27
28						

วันที่สุดท้ายในปฏิทินคือวันที่ .....

เดือนกุมภาพันธ์มี ..... วัน

★ ตอบ _____

ข้อ 4 เดือนมีนาคม พ.ศ. 2570 มีวันอาทิตย์กี่วัน ตรงกับวันที่อะไรบ้าง

วิธีทำ

มีนาคม พ.ศ. 2570

อา.	จ.	อ.	พ.	พฤ.	ศ.	ส.
	1	2	3	4	5	6
7	8	9	10	11	12	13
14	15	16	17	18	19	20
21	22	23	24	25	26	27
28	29	30	31			

แถววันอาทิตย์ มีวันที่

.....

นับได้ ..... วัน

★ ตอบ _____

ชื่อ ..... ชั้น ป.2/ ..... เลขที่ .....

ข้อ 5–6



กิจกรรม 1

อ่านปฏิทิน

ระดับ 2

ออกเดินทาง ★★

มีคำใบ้บอกว่าต้องทำอะไร ลองคิดเองมากขึ้น

อ่านคำใบ้ก่อนลงมือนะ



ข้อ 5 วันเด็กแห่งชาติตรงกับวันเสาร์ที่ 2 ของเดือนมกราคม ปี พ.ศ. 2570 วันเด็กตรงกับวันที่เท่าไร

คำใบ้ ดูแถววันเสาร์ แล้วนับวันเสาร์ที่ 1 และที่ 2

มกราคม พ.ศ. 2570

อา.	จ.	อ.	พ.	พฤ.	ศ.	ส.
					1	2
3	4	5	6	7	8	9
10	11	12	13	14	15	16
17	18	19	20	21	22	23
24	25	26	27	28	29	30
31						

วิธีทำ

ตอบ _____

ข้อ 6 เดือนเมษายน พ.ศ. 2570 มีวันศุกร์กี่วัน ตรงกับวันที่อะไรบ้าง

คำใบ้ ดูแถวที่หัวแถวเขียนว่า ศ.

เมษายน พ.ศ. 2570

อา.	จ.	อ.	พ.	พฤ.	ศ.	ส.
				1	2	3
4	5	6	7	8	9	10
11	12	13	14	15	16	17
18	19	20	21	22	23	24
25	26	27	28	29	30	

วิธีทำ

ตอบ _____

ชื่อ ..... ชั้น ป.2/ ..... เลขที่ .....

ข้อ 7–8



กิจกรรม 1

อ่านปฏิทิน

ระดับ 2 ออกเดินทาง ★ ★ (ต่อ)

ข้อ 7 วันจันทร์ที่ 1 ของเดือนพฤษภาคม พ.ศ. 2570 คือวันที่เท่าไร

คำใบ้ วันจันทร์แรกอยู่แถวไหน

วิธีทำ

พฤษภาคม พ.ศ. 2570

อา.	จ.	อ.	พ.	พฤ.	ศ.	ส.
						1
2	3	4	5	6	7	8
9	10	11	12	13	14	15
16	17	18	19	20	21	22
23	24	25	26	27	28	29
30	31					

★ ตอบ .....

ข้อ 8 วันแม่แห่งชาติคือวันที่ 12 สิงหาคม ปี พ.ศ. 2570 ตรงกับวันอะไร

คำใบ้ หาเลข 12 ในปฏิทิน

วิธีทำ

สิงหาคม พ.ศ. 2570

อา.	จ.	อ.	พ.	พฤ.	ศ.	ส.
1	2	3	4	5	6	7
8	9	10	11	12	13	14
15	16	17	18	19	20	21
22	23	24	25	26	27	28
29	30	31				

★ ตอบ .....

ชื่อ ..... ชั้น ป.2/ ..... เลขที่ .....

ข้อ 9–10

กิจกรรม 1

อ่านปฏิทิน

ระดับ 3

ปีนให้สูงขึ้น ★ ★ ★

คำใบ้เหลือแค่สั้น ๆ ในสองข้อแรก ต้องเลือกวิธีเอง

ข้อหลังไม่มีคำใบ้แล้วนะ

ข้อ 9 วันที่ 8 มีนาคม พ.ศ. 2570 อีก 7 วัน จะเป็นวันที่เท่าไร ตรงกับวันอะไร

ใบ้สั้น ๆ 1 สัปดาห์มี 7 วัน

วิธีทำ

มีนาคม พ.ศ. 2570

อา.	จ.	อ.	พ.	พฤ.	ศ.	ส.
	1	2	3	4	5	6
7	8	9	10	11	12	13
14	15	16	17	18	19	20
21	22	23	24	25	26	27
28	29	30	31			

★ ตอบ _____

ข้อ 10 วันนี้วันที่ 3 พฤศจิกายน อีกกี่วันจะถึงวันที่ 20 พฤศจิกายน

ใบ้สั้น ๆ นับต่อหรือใช้การลบ

วิธีทำ

★ ตอบ _____

ชื่อ ..... ชั้น ป.2/ ..... เลขที่ .....

123 คณิตศาสตร์ ป.2 · เวลา

ข้อ 11–12



กิจกรรม 1

อ่านปฏิทิน

ระดับ 3 ปีนให้สูงขึ้น ★ ★ ★ (ต่อ)

ข้อ 11 เดือนใดบ้างมี 30 วัน

วิธีทำ

★ ตอบ _____

ข้อ 12 เดือนที่อยู่ถัดจากเดือนตุลาคมไป 2 เดือน คือเดือนอะไร

วิธีทำ

★ ตอบ _____

ชื่อ ..... ชั้น ป.2/ ..... เลขที่ .....

ข้อ 13–14

กิจกรรม 1

อ่านปฏิทิน

ระดับ 4

พิชิตยอดเขา ★ ★ ★ ★

ไม่มีคำใบ้แล้ว โจทย์ปัญหา หาข้อผิด และข้อท้าทาย

คิดเองได้ สู้ ๆ!



ข้อ 13 แก้มบอกว่าเดือนมิถุนายนมี 31 วัน ถูกหรือไม่ อธิบาย

วิธีทำ

★ ตอบ _____

ข้อ 14 วันนี้วันจันทร์ที่ 1 มีนาคม พ.ศ. 2570 อีก 2 สัปดาห์จะเป็นวันที่เท่าไร ตรงกับวันอะไร

วิธีทำ

★ ตอบ _____

ชื่อ ..... ชั้น ป.2/ ..... เลขที่ .....

ข้อ 15–16



กิจกรรม 1

อ่านปฏิทิน

ระดับ 4 พิชิตยอดเขา ★ ★ ★ ★ (ต่อ)

ข้อ 15 วันศุกร์ที่ 3 ของเดือนเมษายน พ.ศ. 2570 คือวันที่เท่าไร

วิธีทำ

เมษายน พ.ศ. 2570

อา.	จ.	อ.	พ.	พฤ.	ศ.	ส.
				1	2	3
4	5	6	7	8	9	10
11	12	13	14	15	16	17
18	19	20	21	22	23	24
25	26	27	28	29	30	

★ ตอบ _____

ข้อ 16 ถ้าวันที่ 1 ของเดือนหนึ่งเป็นวันพุธ วันที่ 29 ของเดือนนั้นเป็นวันอะไร อธิบาย

วิธีทำ

★ ตอบ _____

ชื่อ ..... ชั้น ป.2/ ..... เลขที่ .....

★ ตัวอย่างแสดงวิธีทำ

กิจกรรม 2

เขียนแสดงวัน เดือน ปี



★ ดูตัวอย่างทีละขั้น แล้วลองทำเองต่อ

โจทย์ เขียนแบบย่อ และเป็นตัวเลข
2 มกราคม พ.ศ. 2570

1	มกราคม	ม.ค.
2	กุมภาพันธ์	ก.พ.
3	มีนาคม	มี.ค.
4	เมษายน	เม.ย.
5	พฤษภาคม	พ.ค.
6	มิถุนายน	มิ.ย.

7	กรกฎาคม	ก.ค.
8	สิงหาคม	ส.ค.
9	กันยายน	ก.ย.
10	ตุลาคม	ต.ค.
11	พฤศจิกายน	พ.ย.
12	ธันวาคม	ธ.ค.

อธิบายวิธีคิดทีละขั้น

1. มกราคมเป็นเดือนที่ 1 ชื่อย่อคือ ม.ค.
2. ปี พ.ศ. 2570 เขียนย่อโดยใช้สองหลักท้าย คือ 70
3. แบบย่อเขียนว่า 2 ม.ค. 70
4. เป็นตัวเลขเขียนเป็น วันที่/เดือนที่/ปี ใช้ตัวเลขสองหลักทุกช่อง ได้ 02/01/70

★ ตอบ 2 ม.ค. 70 · 02/01/70

เคล็ดลับ: บนฉลากสินค้า MFG หรือ MFD หมายถึงวันผลิต EXP หมายถึงวันหมดอายุ

ต่อไปลองปีนเอง 4 ระดับ ข้อ 17–32 →

สู้ ๆ นะ!



ระบายสีฉันได้นะ

ชื่อ ..... ชั้น ป.2/ ..... เลขที่ .....

ข้อ 17–18

กิจกรรม 2

เขียนแสดงวัน เดือน ปี



ระดับ 1

ก้าวแรก ★

มีภาพและตัวช่วยครบทุกขั้น เติมในช่องว่างได้เลย

ค่อย ๆ ทำทีละขั้นนะ



ข้อ 17 เขียนวันที่ต่อไปนี้เป็นตัวเลข

5 ธันวาคม พ.ศ. 2569

1	มกราคม	ม.ค.	7	กรกฎาคม	ก.ค.
2	กุมภาพันธ์	ก.พ.	8	สิงหาคม	ส.ค.
3	มีนาคม	มี.ค.	9	กันยายน	ก.ย.
4	เมษายน	เม.ย.	10	ตุลาคม	ต.ค.
5	พฤษภาคม	พ.ค.	11	พฤศจิกายน	พ.ย.
6	มิถุนายน	มิ.ย.	12	ธันวาคม	ธ.ค.

วิธีทำ

ธันวาคมเป็นเดือนที่ ..... ชื่อย่อ ..... ปี 2569 เขียนย่อเป็น .....

เป็นตัวเลข .....

★ ตอบ _____

ข้อ 18 เขียนวันที่ต่อไปนี้เป็นตัวเลข

16 มกราคม พ.ศ. 2570

1	มกราคม	ม.ค.	7	กรกฎาคม	ก.ค.
2	กุมภาพันธ์	ก.พ.	8	สิงหาคม	ส.ค.
3	มีนาคม	มี.ค.	9	กันยายน	ก.ย.
4	เมษายน	เม.ย.	10	ตุลาคม	ต.ค.
5	พฤษภาคม	พ.ค.	11	พฤศจิกายน	พ.ย.
6	มิถุนายน	มิ.ย.	12	ธันวาคม	ธ.ค.

วิธีทำ

มกราคมเป็นเดือนที่ ..... ชื่อย่อ ..... ปี 2570 เขียนย่อเป็น .....

เป็นตัวเลข .....

★ ตอบ _____



กิจกรรม 2

เขียนแสดงวัน เดือน ปี

ระดับ 1 ก้าวแรก ★ (ต่อ)

ข้อ 19 เขียนวันที่ต่อไปนี้แบบย่อ

12 สิงหาคม พ.ศ. 2570

1	มกราคม	ม.ค.	7	กรกฎาคม	ก.ค.
2	กุมภาพันธ์	ก.พ.	8	สิงหาคม	ส.ค.
3	มีนาคม	มี.ค.	9	กันยายน	ก.ย.
4	เมษายน	เม.ย.	10	ตุลาคม	ต.ค.
5	พฤษภาคม	พ.ค.	11	พฤศจิกายน	พ.ย.
6	มิถุนายน	มิ.ย.	12	ธันวาคม	ธ.ค.

วิธีทำ

สิงหาคมเป็นเดือนที่ ..... ชื่อย่อ ..... ปี 2570 เขียนย่อเป็น .....

แบบย่อ .....

★ ตอบ _____

ข้อ 20 เขียนวันที่ต่อไปนี้แบบย่อ และเป็นตัวเลข

1 เมษายน พ.ศ. 2570

1	มกราคม	ม.ค.	7	กรกฎาคม	ก.ค.
2	กุมภาพันธ์	ก.พ.	8	สิงหาคม	ส.ค.
3	มีนาคม	มี.ค.	9	กันยายน	ก.ย.
4	เมษายน	เม.ย.	10	ตุลาคม	ต.ค.
5	พฤษภาคม	พ.ค.	11	พฤศจิกายน	พ.ย.
6	มิถุนายน	มิ.ย.	12	ธันวาคม	ธ.ค.

วิธีทำ

เมษายนเป็นเดือนที่ ..... ชื่อย่อ ..... ปี 2570 เขียนย่อเป็น .....

แบบย่อ ..... · เป็นตัวเลข .....

★ ตอบ _____

ชื่อ ..... ชั้น ป.2/ ..... เลขที่ .....

123 คณิตศาสตร์ ป.2 · เวลา

ข้อ 21–22



กิจกรรม 2

เขียนแสดงวัน เดือน ปี

ระดับ 2

ออกเดินทาง ★★

มีคำใบ้บอกว่าต้องทำอะไร ลองคิดเองมากขึ้น

อ่านคำใบ้ก่อนลงมือนะ



ข้อ 21 เขียนวันที่ต่อไปนี้แบบเต็ม

14/02/70

1	มกราคม	ม.ค.	7	กรกฎาคม	ก.ค.
2	กุมภาพันธ์	ก.พ.	8	สิงหาคม	ส.ค.
3	มีนาคม	มี.ค.	9	กันยายน	ก.ย.
4	เมษายน	เม.ย.	10	ตุลาคม	ต.ค.
5	พฤษภาคม	พ.ค.	11	พฤศจิกายน	พ.ย.
6	มิถุนายน	มิ.ย.	12	ธันวาคม	ธ.ค.

คำใบ้ 02 คือเดือนที่ 2

วิธีทำ

★ ตอบ _____

ข้อ 22 เขียนวันที่ต่อไปนี้แบบเต็ม

03/11/69

1	มกราคม	ม.ค.	7	กรกฎาคม	ก.ค.
2	กุมภาพันธ์	ก.พ.	8	สิงหาคม	ส.ค.
3	มีนาคม	มี.ค.	9	กันยายน	ก.ย.
4	เมษายน	เม.ย.	10	ตุลาคม	ต.ค.
5	พฤษภาคม	พ.ค.	11	พฤศจิกายน	พ.ย.
6	มิถุนายน	มิ.ย.	12	ธันวาคม	ธ.ค.

คำใบ้ ปี 69 คือ พ.ศ. 2569

วิธีทำ

★ ตอบ _____

ชื่อ ..... ชั้น ป.2/ ..... เลขที่ .....

123 คณิตศาสตร์ ป.2 · เวลา

ข้อ 23–24



กิจกรรม 2

เขียนแสดงวัน เดือน ปี

ระดับ 2 ออกเดินทาง ★ ★ (ต่อ)

ข้อ 23 เขียนวันที่ต่อไปนี้แบบเต็ม

25/06/70

1	มกราคม	ม.ค.	7	กรกฎาคม	ก.ค.
2	กุมภาพันธ์	ก.พ.	8	สิงหาคม	ส.ค.
3	มีนาคม	มี.ค.	9	กันยายน	ก.ย.
4	เมษายน	เม.ย.	10	ตุลาคม	ต.ค.
5	พฤษภาคม	พ.ค.	11	พฤศจิกายน	พ.ย.
6	มิถุนายน	มิ.ย.	12	ธันวาคม	ธ.ค.

คำใบ้ เดือนที่ 6 คือมิถุนายน

วิธีทำ

★ ตอบ _____

ข้อ 24 เขียนวันที่ต่อไปนี้เป็นตัวเลข

9 ก.ย. 70

1	มกราคม	ม.ค.	7	กรกฎาคม	ก.ค.
2	กุมภาพันธ์	ก.พ.	8	สิงหาคม	ส.ค.
3	มีนาคม	มี.ค.	9	กันยายน	ก.ย.
4	เมษายน	เม.ย.	10	ตุลาคม	ต.ค.
5	พฤษภาคม	พ.ค.	11	พฤศจิกายน	พ.ย.
6	มิถุนายน	มิ.ย.	12	ธันวาคม	ธ.ค.

คำใบ้ ก.ย. เป็นเดือนที่ 9

วิธีทำ

★ ตอบ _____

ชื่อ ..... ชั้น ป.2/ ..... เลขที่ .....

ข้อ 25–26

กิจกรรม 2

เขียนแสดงวัน เดือน ปี



ระดับ 3

ปีนให้สูงขึ้น ★ ★ ★

คำใบ้เหลือแค่สั้น ๆ ในสองข้อแรก ต้องเลือกวิธีเอง

ข้อหลังไม่มีคำใบ้แล้วนะ



ข้อ 25 อ่านฉลากนมรสจืด แล้วเขียนวันผลิตและวันหมดอายุแบบเต็ม



นมรสจืด
ผลิต (MFG) 05/03/70
หมดอายุ (EXP) 05/09/70

ใบ้สั้น ๆ ผลิตดูที่ MFG หมดอายุดูที่ EXP

วิธีทำ

วันผลิต .....

วันหมดอายุ .....

★ ตอบ _____

ข้อ 26 อ่านฉลากไอศกรีมรสวานิลลา แล้วเขียนวันผลิตและวันหมดอายุแบบเต็ม



ไอศกรีมรสวานิลลา
ผลิต (MFG) 20/10/69
หมดอายุ (EXP) 20/04/70

ใบ้สั้น ๆ เดือนที่ 10 คือตุลาคม

วิธีทำ

วันผลิต .....

วันหมดอายุ .....

★ ตอบ _____

ชื่อ ..... ชั้น ป.2/ ..... เลขที่ .....

ข้อ 27–28

กิจกรรม 2

เขียนแสดงวัน เดือน ปี



ระดับ 3 ปีนให้สูงขึ้น ★ ★ ★ (ต่อ)

ข้อ 27 เขียนวันที่ต่อไปนี้แบบย่อ และเป็นตัวเลข
31 ตุลาคม พ.ศ. 2569

วิธีทำ

★ ตอบ _____

ข้อ 28 เขียนวันที่ต่อไปนี้แบบเต็ม
28/02/70

วิธีทำ

★ ตอบ _____

ชื่อ ..... ชั้น ป.2/ ..... เลขที่ .....

ข้อ 29–30

กิจกรรม 2

เขียนแสดงวัน เดือน ปี



ระดับ 4

พิชิตยอดเขา ★ ★ ★ ★

ไม่มีคำใบ้แล้ว โจทย์ปัญหา หาข้อผิด และข้อท้าทาย

คิดเองได้ สู้ ๆ!



ข้อ 29 ฝนเขียนวันที่ 7 กันยายน พ.ศ. 2570 เป็นตัวเลขว่า 07/08/70 ถูกหรือไม่ ถ้าไม่ถูก เขียนให้ถูก

วิธีทำ

★ ตอบ _____

ข้อ 30 ขนม 3 ชนิดหมดอายุ ก. 15/05/70 ข. 02/05/70 ค. 20/04/70 ชนิดใดหมดอายุก่อน และชนิดใดหมดอายุหลังสุด

วิธีทำ

★ ตอบ _____

ชื่อ ..... ชั้น ป.2/ ..... เลขที่ .....

ข้อ 31–32



กิจกรรม 2

เขียนแสดงวัน เดือน ปี

ระดับ 4 พิชิตยอดเขา ★ ★ ★ ★ (ต่อ)

ข้อ 31 ขนมปังหมดอายุ 05/11/69 วันนี้วันที่ 3 พฤศจิกายน พ.ศ. 2569 ขนมปังหมดอายุแล้วหรือยัง อีกกี่วันจะถึงวันหมดอายุ

วิธีทำ

★ ตอบ _____

ข้อ 32 เดือนที่ 12 คือเดือนอะไร และเดือนถัดไปคือเดือนอะไร

วิธีทำ

★ ตอบ _____

★ ตัวอย่างแสดงวิธีทำ



กิจกรรม 3

บอกเวลาเป็นนาฬิกา

★ ดูตัวอย่างทีละขั้น แล้วลองทำเองต่อ

โจทย์ นาฬิกานี้บอกเวลากลางวัน เป็นเวลาเท่าไร



กลางวัน

อธิบายวิธีคิดทีละขั้น

1. เข็มยาวชี้ที่เลข 12 แสดงว่าเป็นเวลาตรงนาฬิกา
2. เข็มสั้นชี้ที่เลข 3
3. เวลากลางวันคือ 6 นาฬิกา ถึง 17 นาฬิกา เวลากลางคืนคือ 18 นาฬิกา ถึง 5 นาฬิกา · หลังเที่ยงวัน (12 นาฬิกา) ให้นับต่อ 13, 14, 15
4. เวลากลางวันที่เข็มสั้นชี้ที่ 3 เป็นเวลาหลังเที่ยงวัน คือ 12 + 3 = 15 จึงเป็นเวลา 15 นาฬิกา

★ ตอบ **15 นาฬิกา**

เคล็ดลับ: 1 วันมี 24 ชั่วโมง เข็มสั้นเดินรอบหน้าปัด 2 รอบใน 1 วัน

ต่อไปลองปีนเอง 4 ระดับ ข้อ 33–48 →

ชื่อ ..... ชั้น ป.2/ ..... เลขที่ .....

123 คณิตศาสตร์ ป.2 · เวลา

ข้อ 33–34

กิจกรรม 3

บอกเวลาเป็นนาฬิกา

ระดับ 1

ก้าวแรก ★

มีภาพและตัวช่วยครบทุกขั้น เติมในช่องว่างได้เลย

ค่อย ๆ ทำทีละขั้นนะ

ข้อ 33 นาฬิกานี้บอกเวลากลางวัน เป็นเวลาเท่าไร

วิธีทำ



กลางวัน

เข็มสั้นชี้ที่เลข ..... เข็มยาวชี้ที่เลข .....

เวลากลางวัน จึงเป็นเวลา ..... นาฬิกา

★ ตอบ _____

ข้อ 34 นาฬิกานี้บอกเวลากลางวัน เป็นเวลาเท่าไร

วิธีทำ



กลางวัน

เข็มสั้นชี้ที่เลข ..... เข็มยาวชี้ที่เลข .....

เวลากลางวัน จึงเป็นเวลา ..... นาฬิกา

★ ตอบ _____



กิจกรรม 3

บอกเวลาเป็นนาฬิกา

ระดับ 1 ก้าวแรก ★ (ต่อ)

ข้อ 35 นาฬิกานี้บอกเวลากลางวัน เป็นเวลาเท่าไร

วิธีทำ



กลางวัน

เข็มสั้นชี้ที่เลข ..... เข็มยาวชี้ที่เลข .....

เวลากลางวัน จึงเป็นเวลา ..... นาฬิกา

★ ตอบ _____

ข้อ 36 นาฬิกานี้บอกเวลากลางวัน เป็นเวลาเท่าไร

วิธีทำ



กลางวัน

เข็มสั้นชี้ที่เลข ..... เข็มยาวชี้ที่เลข .....

เวลากลางวัน จึงเป็นเวลา ..... นาฬิกา

★ ตอบ _____

ชื่อ ..... ชั้น ป.2/ ..... เลขที่ .....

ข้อ 37–38

กิจกรรม 3

บอกเวลาเป็นนาฬิกา

ระดับ 2

ออกเดินทาง ★★

มีคำใบ้บอกว่าต้องทำอะไร ลองคิดเองมากขึ้น

อ่านคำใบ้ก่อนลงมือนะ

ข้อ 37 นาฬิกานี้บอกเวลากลางวัน เป็นเวลาเท่าไร

คำใบ้ หลังเที่ยงวันนับต่อ 13, 14, ...

วิธีทำ



กลางวัน

★ ตอบ _____

ข้อ 38 นาฬิกานี้บอกเวลากลางวัน เป็นเวลาเท่าไร

คำใบ้ กลางวัน เข็มสั้นชี้ที่ 4 คือ 12 + 4

วิธีทำ



กลางวัน

★ ตอบ _____

ชื่อ ..... ชั้น ป.2/ ..... เลขที่ .....

ข้อ 39–40

กิจกรรม 3

บอกเวลาเป็นนาฬิกา

ระดับ 2 ออกเดินทาง ★ ★ (ต่อ)

ข้อ 39 นาฬิกานี้บอกเวลากลางคืน เป็นเวลาเท่าไร

คำใบ้ 12 + 6 = 18

วิธีทำ



กลางคืน

★ ตอบ _____

ข้อ 40 นาฬิกานี้บอกเวลากลางคืน เป็นเวลาเท่าไร

คำใบ้ กลางคืน เข็มสั้นชี้ที่ 8 คือ 12 + 8

วิธีทำ



กลางคืน

★ ตอบ _____

ชื่อ ..... ชั้น ป.2/ ..... เลขที่ .....

ข้อ 41–42

กิจกรรม 3

บอกเวลาเป็นนาฬิกา

ระดับ 3

ปีนให้สูงขึ้น ★ ★ ★

คำใบ้เหลือแค่สั้น ๆ ในสองข้อแรก ต้องเลือกวิธีเอง

ข้อหลังไม่มีคำใบ้แล้วนะ

ข้อ 41 วาดเข็มสั้นและเข็มยาวให้แสดงเวลา 14 นาฬิกา

ใบ้สั้น ๆ 14 นาฬิกา เข็มสั้นชี้ที่ 2

วิธีทำ



★ ตอบ _____

ข้อ 42 วาดเข็มสั้นและเข็มยาวให้แสดงเวลา 8 นาฬิกา

ใบ้สั้น ๆ เข็มยาวชี้ที่ 12 เสมอ

วิธีทำ

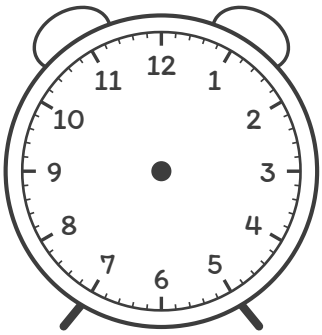

★ ตอบ _____



กิจกรรม 3

บอกเวลาเป็นนาฬิกา

ระดับ 3 ปีนให้สูงขึ้น ★ ★ ★ (ต่อ)

ข้อ 43 วาดเข็มสั้นและเข็มยาวให้แสดงเวลา 19 นาฬิกา

วิธีทำ

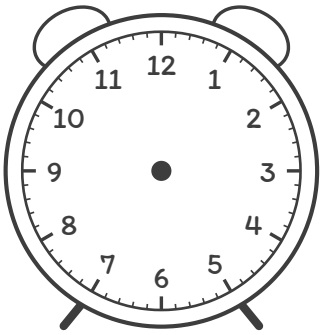

★ ตอบ _____

ข้อ 44 วาดเข็มสั้นและเข็มยาวให้แสดงเวลา 12 นาฬิกา

วิธีทำ



★ ตอบ _____

ชื่อ ..... ชั้น ป.2/ ..... เลขที่ .....

ข้อ 45–46

กิจกรรม 3

บอกเวลาเป็นนาฬิกา

ระดับ 4

พิชิตยอดเขา ★★★★

ไม่มีคำใบ้แล้ว โจทย์ปัญหา หาข้อผิด และข้อท้าทาย

คิดเองได้ สู้ ๆ!

ข้อ 45 นิดเห็นนาฬิกาเวลากลางวัน เข็มสั้นชี้ที่เลข 5 เข็มยาวชี้ที่เลข 12 แล้วบอกว่าเป็นเวลา 5 นาฬิกา ถูกหรือไม่ เขียนให้ถูก

วิธีทำ



กลางวัน

★ ตอบ .....

ข้อ 46 ตอนนี้เป็นเวลา 9 นาฬิกา อีก 3 ชั่วโมงจะเป็นเวลาเท่าไร

วิธีทำ

★ ตอบ .....

ชื่อ ..... ชั้น ป.2/ ..... เลขที่ .....

ข้อ 47–48

กิจกรรม 3

บอกเวลาเป็นนาฬิกา

ระดับ 4 พิชิตยอดเขา ★ ★ ★ ★ (ต่อ)

ข้อ 47 เวลา 21 นาฬิกา เข็มสั้นชี้ที่เลขอะไร เข็มยาวชี้ที่เลขอะไร

วิธีทำ

★ ตอบ _____

ข้อ 48 เวลากลางวัน เข็มสั้นและเข็มยาวชี้ที่เลข 12 ทั้งคู่ เป็นเวลาเท่าไร

วิธีทำ

★ ตอบ _____

★ ตัวอย่างแสดงวิธีทำ



กิจกรรม 4

บอกเวลาเป็นนาฬิกาและนาที

★ ดูตัวอย่างทีละขั้น แล้วลองทำเองต่อ

โจทย์ นาฬิกานี้บอกเวลากลางวัน เป็นเวลาเท่าไร



กลางวัน

อธิบายวิธีคิดทีละขั้น

1. เข็มสั้นเลยเลข 8 มาแล้ว แต่ยังไม่ถึงเลข 9 จึงเป็น 8 นาฬิกา
2. เข็มยาวชี้ที่เลข 5 นับทีละ 5 ได้ 5, 10, 15, 20, 25 คือ 25 นาที
3. เป็นเวลากลางวัน จึงเป็นเวลา 8 นาฬิกา 25 นาที
4. เข็มยาวเดินจากเลขหนึ่งไปเลขถัดไปใช้เวลา 5 นาที เดินครบ 1 รอบใช้เวลา 60 นาที หรือ 1 ชั่วโมง

★ ตอบ **8 นาฬิกา 25 นาที**

เคล็ดลับ: ดูเข็มสั้นเพื่อบอกนาฬิกา ดูเข็มยาวเพื่อบอกนาที

ต่อไปลองปีนเอง 4 ระดับ ข้อ 49–64 →

สู้ ๆ นะ!



ระบายสีฉันได้นะ

ชื่อ ..... ชั้น ป.2/ ..... เลขที่ .....

123 คณิตศาสตร์ ป.2 · เวลา

ข้อ 49–50

กิจกรรม 4

บอกเวลาเป็นนาฬิกาและนาที

ระดับ 1

ก้าวแรก ★

มีภาพและตัวช่วยครบทุกขั้น เติมในช่องว่างได้เลย

ค่อย ๆ ทำทีละขั้นนะ

ข้อ 49 นาฬิกานี้บอกเวลากลางวัน เป็นเวลาเท่าไร

วิธีทำ



กลางวัน

เข็มสั้นเลยเลข ..... เข็มยาวชี้ที่เลข .....

นับทีละ 5 ได้ ..... นาที เวลา ..... นาฬิกา ..... นาที

★ ตอบ _____

ข้อ 50 นาฬิกานี้บอกเวลากลางวัน เป็นเวลาเท่าไร

วิธีทำ



กลางวัน

เข็มสั้นเลยเลข ..... เข็มยาวชี้ที่เลข .....

นับทีละ 5 ได้ ..... นาที เวลา ..... นาฬิกา ..... นาที

★ ตอบ _____

กิจกรรม 4

บอกเวลาเป็นนาฬิกาและนาที

ระดับ 1 ก้าวแรก ★ (ต่อ)

ข้อ 51 นาฬิกานี้บอกเวลากลางวัน เป็นเวลาเท่าไร

วิธีทำ



กลางวัน

เข็มสั้นเลยเลข ..... เข็มยาวชี้ที่เลข .....

นับทีละ 5 ได้ ..... นาที เวลา ..... นาฬิกา ..... นาที

★ ตอบ _____

ข้อ 52 นาฬิกานี้บอกเวลากลางวัน เป็นเวลาเท่าไร

วิธีทำ



กลางวัน

เข็มสั้นเลยเลข ..... เข็มยาวชี้ที่เลข .....

นับทีละ 5 ได้ ..... นาที เวลา ..... นาฬิกา ..... นาที

★ ตอบ _____

ชื่อ ..... ชั้น ป.2/ ..... เลขที่ .....

ข้อ 53–54

กิจกรรม 4

บอกเวลาเป็นนาฬิกาและนาที

ระดับ 2

ออกเดินทาง ★★

มีคำใบ้บอกว่าต้องทำอะไร ลองคิดเองมากขึ้น

อ่านคำใบ้ก่อนลงมือนะ

ข้อ 53 นาฬิกานี้บอกเวลากลางวัน เป็นเวลาเท่าไร

คำใบ้ กลางวัน เข็มสั้นเลยเลข 2 คือ 12 + 2

วิธีทำ



กลางวัน

★ ตอบ _____

ข้อ 54 นาฬิกานี้บอกเวลากลางวัน เป็นเวลาเท่าไร

คำใบ้ เข็มยาวชี้ที่ 7 นับทีละ 5

วิธีทำ



กลางวัน

★ ตอบ _____

กิจกรรม 4

บอกเวลาเป็นนาฬิกาและนาที

ระดับ 2 ออกเดินทาง ★ ★ (ต่อ)

ข้อ 55 นาฬิกานี้บอกเวลากลางวัน เป็นเวลาเท่าไร

คำใบ้ เข็มสั้นใกล้ 12 แต่ยังไม่ถึง

วิธีทำ



กลางวัน

★ ตอบ _____

ข้อ 56 นาฬิกานี้บอกเวลากลางคืน เป็นเวลาเท่าไร

คำใบ้ เข็มยาวชี้ที่ 1 คือ 5 นาที

วิธีทำ



กลางคืน

★ ตอบ _____

ชื่อ ..... ชั้น ป.2/ ..... เลขที่ .....

ข้อ 57–58

กิจกรรม 4

บอกเวลาเป็นนาฬิกาและนาที

ระดับ 3

ปีนให้สูงขึ้น ★ ★ ★

คำใบ้เหลือแค่สั้น ๆ ในสองข้อแรก ต้องเลือกวิธีเอง

ข้อหลังไม่มีคำใบ้แล้วนะ

ข้อ 57 วาดเข็มยาวให้แสดงเวลา 9 นาฬิกา 40 นาที

ใบ้สั้น ๆ 40 นาที นับทีละ 5 ได้ 8 ช่วง

วิธีทำ



★ ตอบ .....

ข้อ 58 วาดเข็มยาวให้แสดงเวลา 15 นาฬิกา 55 นาที

ใบ้สั้น ๆ 55 นาที เข็มยาวชี้ที่ 11

วิธีทำ

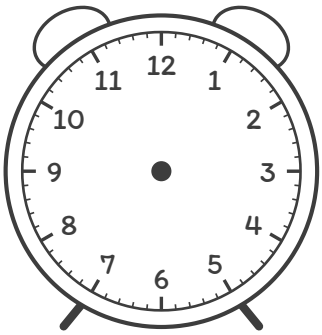

★ ตอบ .....

ชื่อ ..... ชั้น ป.2/ ..... เลขที่ .....

123 คณิตศาสตร์ ป.2 · เวลา

ข้อ 59–60

กิจกรรม 4

บอกเวลาเป็นนาฬิกาและนาที

ระดับ 3 ปีนให้สูงขึ้น ★ ★ ★ (ต่อ)

ข้อ 59 วาดเข็มยาวให้แสดงเวลา 7 นาฬิกา 5 นาที

วิธีทำ

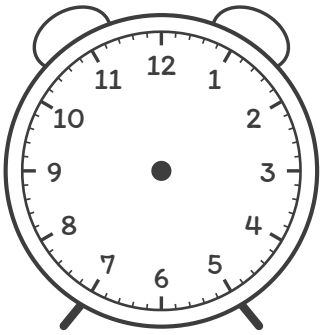

★ ตอบ _____

ข้อ 60 วาดเข็มยาวให้แสดงเวลา 13 นาฬิกา 20 นาที

วิธีทำ



★ ตอบ _____

ชื่อ ..... ชั้น ป.2/ ..... เลขที่ .....

ข้อ 61–62

กิจกรรม 4

บอกเวลาเป็นนาฬิกาและนาที

ระดับ 4

พิชิตยอดเขา ★ ★ ★ ★

ไม่มีคำใบ้แล้ว โจทย์ปัญหา หาข้อผิด และข้อท้าทาย

คิดเองได้ สู้ ๆ!

ข้อ 61 นาฬิกาเรือนนี้บอกเวลากลางวัน ปลาอ่านแล้วตอบว่า 3 นาฬิกา 4 นาที เพราะเข็มยาวชี้ที่เลข 4 ถูกหรือไม่ เขียนให้ถูก

วิธีทำ



กลางวัน

★ ตอบ .....

ข้อ 62 เวลากลางวัน เข็มสั้นอยู่ระหว่างเลข 10 กับ 11 เข็มยาวชี้ที่เลข 9 เป็นเวลาเท่าไร

วิธีทำ

★ ตอบ .....



กิจกรรม 4

บอกเวลาเป็นนาฬิกาและนาที

ระดับ 4 พิชิตยอดเขา ★ ★ ★ ★ (ต่อ)

ข้อ 63 เข็มยาวเดินครบ 1 รอบหน้าปัดใช้เวลากี่นาที และเท่ากับกี่ชั่วโมง

วิธีทำ

★ ตอบ _____

ข้อ 64 เรียงเวลาจากเช้าไปค่ำ: 15 นาฬิกา 10 นาที, 8 นาฬิกา 50 นาที, 12 นาฬิกา 5 นาที, 19 นาฬิกา 30 นาที

วิธีทำ

★ ตอบ _____

★ ตัวอย่างแสดงวิธีทำ

กิจกรรม 5

บอกระยะเวลาเป็นชั่วโมงหรือนาที

★ ดูตัวอย่างทีละขั้น แล้วลองทำเองต่อ

โจทย์ **น้องฝนเริ่มรดน้ำต้นไม้เวลา 16 นาฬิกา 10 นาที เสร็จเวลา 16 นาฬิกา 35 นาที ใช้เวลากี่นาที**



เริ่ม



เสร็จ

อธิบายวิธีคิดทีละขั้น

1. เวลาเริ่มกับเวลาเสร็จอยู่ใน 16 นาฬิกาเหมือนกัน ดูที่เข็มยาว
2. เข็มยาวเดินจากเลข 2 (10 นาที) ไปถึงเลข 7 (35 นาที)
3. นับทีละ 5 ได้ 15, 20, 25, 30, 35 คือ 5 ช่วง ช่วงละ 5 นาที
4. 35 – 10 = 25 น้องฝนใช้เวลารดน้ำต้นไม้ 25 นาที

★ ตอบ **25 นาที**

เคล็ดลับ: ถ้าเข็มยาวอยู่ที่เดิมแต่เข็มสั้นเดินไป ให้นับเป็นชั่วโมง เช่น 9 นาฬิกา ถึง 11 นาฬิกา ใช้เวลา 2 ชั่วโมง

ต่อไปลองปีนเอง 4 ระดับ ข้อ 65–80 →

สู้ ๆ นะ!



ระบายสีฉันได้นะ

ชื่อ ..... ชั้น ป.2/ ..... เลขที่ .....

ข้อ 65–66

กิจกรรม 5

บอกระยะเวลาเป็นชั่วโมงหรือนาที

ระดับ 1

ก้าวแรก ★

มีภาพและตัวช่วยครบทุกขั้น เติมในช่องว่างได้เลย

ค่อย ๆ ทำทีละขั้นนะ

ข้อ 65 ต้นกวาดห้อง เริ่มเวลา 8 นาฬิกา เสร็จเวลา 8 นาฬิกา 20 นาที ใช้เวลากี่นาที

วิธีทำ



เริ่ม



เสร็จ

เข็มยาวเดินจากเลข ..... ถึงเลข .....

นับทีละ 5 ได้ ..... ช่วง ใช้เวลา ..... นาที

★ ตอบ _____

ข้อ 66 นักเรียนเล่นเกม เริ่มเวลา 10 นาฬิกา 15 นาที เสร็จเวลา 10 นาฬิกา 45 นาที ใช้เวลากี่นาที

วิธีทำ



เริ่ม



เสร็จ

เข็มยาวเดินจากเลข ..... ถึงเลข .....

นับทีละ 5 ได้ ..... ช่วง ใช้เวลา ..... นาที

★ ตอบ _____

ชื่อ ..... ชั้น ป.2/ ..... เลขที่ .....

ข้อ 67–68

กิจกรรม 5

บอกระยะเวลาเป็นชั่วโมงหรือนาที

ระดับ 1 ก้าวแรก ★ (ต่อ)

ข้อ 67 แม่ทำขนม เริ่มเวลา 9 นาฬิกา เสร็จเวลา 11 นาฬิกา ใช้เวลากี่ชั่วโมง

วิธีทำ



เริ่ม



เสร็จ

เข็มสั้นเดินจากเลข ..... ถึงเลข .....

ใช้เวลา ..... ชั่วโมง

★ ตอบ _____

ข้อ 68 พ่อซ่อมรั้ว เริ่มเวลา 13 นาฬิกา เสร็จเวลา 16 นาฬิกา ใช้เวลากี่ชั่วโมง

วิธีทำ



เริ่ม



เสร็จ

เข็มสั้นเดินจากเลข ..... ถึงเลข .....

ใช้เวลา ..... ชั่วโมง

★ ตอบ _____

ชื่อ ..... ชั้น ป.2/ ..... เลขที่ .....

ข้อ 69–70

กิจกรรม 5

บอกระยะเวลาเป็นชั่วโมงหรือนาที

ระดับ 2

ออกเดินทาง ★★

มีคำใบ้บอกว่าต้องทำอะไร ลองคิดเองมากขึ้น

อ่านคำใบ้ก่อนลงมือนะ

ข้อ 69 ข้าวกินข้าวเช้า เริ่มเวลา 7 นาฬิกา 30 นาที เสร็จเวลา 7 นาฬิกา 55 นาที ใช้เวลากี่นาที

คำใบ้ ดูเข็มยาว นับทีละ 5

วิธีทำ



เริ่ม



เสร็จ

★ ตอบ _____

ข้อ 70 นักเรียนทำความสะอาดห้องเรียน เริ่มเวลา 14 นาฬิกา 5 นาที เสร็จเวลา 14 นาฬิกา 50 นาที ใช้เวลากี่นาที

คำใบ้ 50 – 5

วิธีทำ



เริ่ม



เสร็จ

★ ตอบ _____

ชื่อ ..... ชั้น ป.2/ ..... เลขที่ .....

ข้อ 71–72

กิจกรรม 5

บอกระยะเวลาเป็นชั่วโมงหรือนาที

ระดับ 2 ออกเดินทาง ★ ★ (ต่อ)

ข้อ 71 ครอบครัวดูภาพยนตร์ เริ่มเวลา 18 นาฬิกา เสร็จเวลา 20 นาฬิกา ใช้เวลากี่ชั่วโมง

คำใบ้ ดูเข็มสั้น

วิธีทำ





★ ตอบ .....

ข้อ 72 ชาวสวนเก็บผัก เริ่มเวลา 6 นาฬิกา เสร็จเวลา 10 นาฬิกา ใช้เวลากี่ชั่วโมง

คำใบ้ 10 – 6

วิธีทำ





★ ตอบ .....

กิจกรรม 5

บอกระยะเวลาเป็นชั่วโมงหรือนาที



ระดับ 3

ปีนให้สูงขึ้น ★ ★ ★

คำใบ้เหลือแค่สั้น ๆ ในสองข้อแรก ต้องเลือกวิธีเอง

ข้อหลังไม่มีคำใบ้แล้วนะ



ข้อ 73 นักเรียนสอบ เริ่มเวลา 9 นาฬิกา 10 นาที เสร็จเวลา 9 นาฬิกา 50 นาที ใช้เวลากี่นาที

ใบ้สั้น ๆ 50 – 10

วิธีทำ

★ ตอบ _____

ข้อ 74 นักเรียนทำงานศิลปะ เริ่มเวลา 13 นาฬิกา เสร็จเวลา 15 นาฬิกา ใช้เวลากี่ชั่วโมง

ใบ้สั้น ๆ นับเป็นชั่วโมง

วิธีทำ

★ ตอบ _____



กิจกรรม 5

บอกระยะเวลาเป็นชั่วโมงหรือนาที

ระดับ 3 ปีนให้สูงขึ้น ★ ★ ★ (ต่อ)

ข้อ 75 แป้งอาบน้ำ เริ่มเวลา 16 นาฬิกา 25 นาที เสร็จเวลา 16 นาฬิกา 40 นาที ใช้เวลากี่นาที

วิธีทำ

★ ตอบ _____

ข้อ 76 แม่ค้าขายของในตลาดนัด เริ่มเวลา 8 นาฬิกา เสร็จเวลา 12 นาฬิกา ใช้เวลากี่ชั่วโมง

วิธีทำ

★ ตอบ _____

ชื่อ ..... ชั้น ป.2/ ..... เลขที่ .....

ข้อ 77–78

กิจกรรม 5

บอกระยะเวลาเป็นชั่วโมงหรือนาที



ระดับ 4

พิชิตยอดเขา ★ ★ ★ ★

ไม่มีคำใบ้แล้ว โจทย์ปัญหา หาข้อผิด และข้อท้าทาย

คิดเองได้ สู้ ๆ!



ข้อ 77 ภูมิบอกว่า จาก 10 นาฬิกา 20 นาที ถึง 10 นาฬิกา 50 นาที ใช้เวลา 20 นาที ถูกหรือไม่ เขียนให้ถูก

วิธีทำ

★ ตอบ _____

ข้อ 78 พลอยเริ่มอ่านหนังสือเวลา 19 นาฬิกา 15 นาที อ่านนาน 30 นาที อ่านเสร็จเวลาเท่าไร

วิธีทำ

★ ตอบ _____

ชื่อ ..... ชั้น ป.2/ ..... เลขที่ .....

ข้อ 79–80

กิจกรรม 5

บอกระยะเวลาเป็นชั่วโมงหรือนาที



ระดับ 4 พิชิตยอดเขา ★ ★ ★ ★ (ต่อ)

ข้อ 79 เครื่องซักผ้าทำงาน 2 ชั่วโมง ซักเสร็จเวลา 11 นาฬิกา เครื่องเริ่มทำงานเวลาเท่าไร

วิธีทำ

★ ตอบ _____

ข้อ 80 จาก 8 นาฬิกา ถึง 9 นาฬิกา เป็นเวลากี่นาที อธิบาย

วิธีทำ

★ ตอบ _____

ชื่อ ..... ชั้น ป.2/ ..... เลขที่ .....

★ ตัวอย่างแสดงวิธีทำ

กิจกรรม 6

บอกเวลาจากนาฬิกาแบบตัวเลข



★ ดูตัวอย่างทีละขั้น แล้วลองทำเองต่อ

โจทย์ นาฬิกาแบบตัวเลขนี้บอกเวลาเท่าไร

3:05 และ 21:00





อธิบายวิธีคิดทีละขั้น

1. ตัวเลขหน้าเครื่องหมาย : แสดงเวลาเป็นนาฬิกา ตัวเลขหลังเครื่องหมาย : แสดงเวลาเป็นนาที
2. 3:05 อ่านว่า 3 นาฬิกา 5 นาที ตัวเลขที่บอกนาทีมีสองหลักเสมอ ถ้าไม่ถึง 10 นาทีจะมีเลข 0 ข้างหน้า
3. 21:00 อ่านว่า 21 นาฬิกา เพราะหลังเครื่องหมาย : เป็น 00 คือไม่มีนาที
4. นาฬิกาแบบตัวเลขบอกเวลาแบบ 24 ชั่วโมง ไม่ต้องดูว่าเป็นกลางวันหรือกลางคืน

★ ตอบ **3 นาฬิกา 5 นาที · 21 นาฬิกา**

เคล็ดลับ: เวลาบนนาฬิกาแบบตัวเลขกับนาฬิกาแบบเข็มเป็นเวลาเดียวกันได้ เช่น 16:30 คือเข็มสั้นเลยเลข 4 เข็มยาวชี้ที่เลข 6 เวลากลางวัน

ต่อไปลองปีนเอง 4 ระดับ ข้อ 81–96 →

ชื่อ ..... ชั้น ป.2/ ..... เลขที่ .....

ข้อ 81–82

กิจกรรม 6

บอกเวลาจากนาฬิกาแบบตัวเลข



ระดับ 1

ก้าวแรก ★

มีภาพและตัวช่วยครบทุกขั้น เติมในช่องว่างได้เลย

ค่อย ๆ ทำทีละขั้นนะ



ข้อ 81 นาฬิกาแบบตัวเลขนี้บอกเวลาเท่าไร



วิธีทำ

ตัวเลขหน้าเครื่องหมาย : คือ ..... นาฬิกา

ตัวเลขหลังเครื่องหมาย : คือ ..... นาที

★ ตอบ _____

ข้อ 82 นาฬิกาแบบตัวเลขนี้บอกเวลาเท่าไร



วิธีทำ

ตัวเลขหน้าเครื่องหมาย : คือ ..... นาฬิกา

ตัวเลขหลังเครื่องหมาย : คือ ..... นาที

★ ตอบ _____



กิจกรรม 6

บอกเวลาจากนาฬิกาแบบตัวเลข

ระดับ 1 ก้าวแรก ★ (ต่อ)

ข้อ 83 นาฬิกาแบบตัวเลขนี้บอกเวลาเท่าไร



วิธีทำ

ตัวเลขหน้าเครื่องหมาย : คือ ..... นาฬิกา

ตัวเลขหลังเครื่องหมาย : คือ ..... นาที

★ ตอบ _____

ข้อ 84 นาฬิกาแบบตัวเลขนี้บอกเวลาเท่าไร



วิธีทำ

ตัวเลขหน้าเครื่องหมาย : คือ ..... นาฬิกา

ตัวเลขหลังเครื่องหมาย : คือ ..... นาที

★ ตอบ _____

กิจกรรม 6

บอกเวลาจากนาฬิกาแบบตัวเลข



ระดับ 2

ออกเดินทาง ★★

มีคำใบ้บอกว่าต้องทำอะไร ลองคิดเองมากขึ้น

อ่านคำใบ้ก่อนลงมือนะ



ข้อ 85 นาฬิกาแบบตัวเลขนี้บอกเวลาเท่าไร



คำใบ้ ตัวเลขหน้า : บอกนาฬิกา

วิธีทำ

★ ตอบ _____

ข้อ 86 นาฬิกาแบบตัวเลขนี้บอกเวลาเท่าไร



คำใบ้ ตัวเลขหลัง : บอกนาที

วิธีทำ

★ ตอบ _____

ชื่อ ..... ชั้น ป.2/ ..... เลขที่ .....

ข้อ 87–88

กิจกรรม 6

บอกเวลาจากนาฬิกาแบบตัวเลข



ระดับ 2 ออกเดินทาง ★ ★ (ต่อ)

ข้อ 87 นาฬิกาแบบตัวเลขนี้บอกเวลาเท่าไร



คำใบ้ อ่านตัวเลขหน้า : ก่อน

วิธีทำ

★ ตอบ _____

ข้อ 88 นาฬิกาแบบตัวเลขนี้บอกเวลาเท่าไร



คำใบ้ 00 คือไม่มีนาที

วิธีทำ

★ ตอบ _____

ชื่อ ..... ชั้น ป.2/ ..... เลขที่ .....

ข้อ 89–90

กิจกรรม 6

บอกเวลาจากนาฬิกาแบบตัวเลข



ระดับ 3

ปีนให้สูงขึ้น ★ ★ ★

คำใบ้เหลือแค่สั้น ๆ ในสองข้อแรก ต้องเลือกวิธีเอง

ข้อหลังไม่มีคำใบ้แล้วนะ



ข้อ 89 เขียนเวลา 8 นาฬิกา 5 นาที บนนาฬิกาแบบตัวเลข

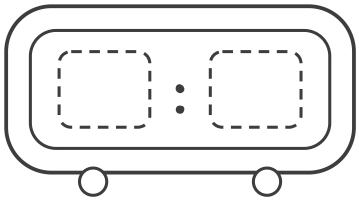

ใบ้สั้น ๆ นาทีต้องมีสองหลัก

วิธีทำ

ตอบ _____

ข้อ 90 เขียนเวลา 17 นาฬิกา 30 นาที บนนาฬิกาแบบตัวเลข

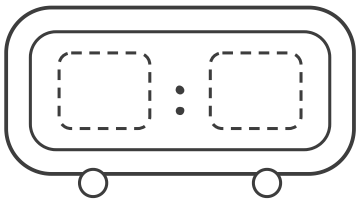

ใบ้สั้น ๆ 17 เขียนหน้าเครื่องหมาย :

วิธีทำ

ตอบ _____

ชื่อ ..... ชั้น ป.2/ ..... เลขที่ .....

ข้อ 91–92

กิจกรรม 6

บอกเวลาจากนาฬิกาแบบตัวเลข

ระดับ 3 ปีนให้สูงขึ้น ★ ★ ★ (ต่อ)

ข้อ 91 เขียนเวลา 11 นาฬิกา 55 นาที บนนาฬิกาแบบตัวเลข

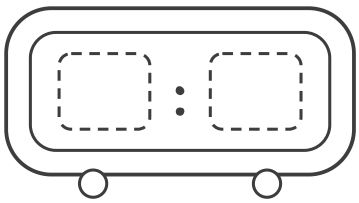

วิธีทำ

★ ตอบ _____

ข้อ 92 เขียนเวลา 19 นาฬิกา 25 นาที บนนาฬิกาแบบตัวเลข

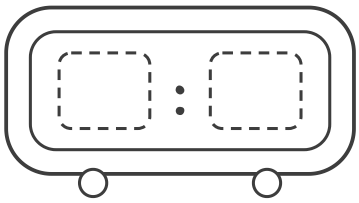

วิธีทำ

★ ตอบ _____

ชื่อ ..... ชั้น ป.2/ ..... เลขที่ .....

ข้อ 93–94

กิจกรรม 6

บอกเวลาจากนาฬิกาแบบตัวเลข

ระดับ 4

พิชิตยอดเขา ★ ★ ★ ★

ไม่มีคำใบ้แล้ว โจทย์ปัญหา หาข้อผิด และข้อท้าทาย

คิดเองได้ สู้ ๆ!

ข้อ 93 นาฬิกาแบบเข็มบอกเวลากลางวัน เขียนเวลานี้บนนาฬิกาแบบตัวเลข

วิธีทำ



กลางวัน

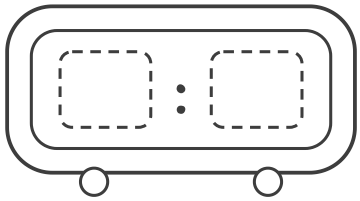

★ ตอบ _____

ข้อ 94 เอเขียนเวลา 9 นาฬิกา 5 นาที บนนาฬิกาแบบตัวเลขว่า 9:5 ถูกหรือไม่ เขียนให้ถูก

วิธีทำ

★ ตอบ _____

ชื่อ ..... ชั้น ป.2/ ..... เลขที่ .....

ข้อ 95–96



กิจกรรม 6

บอกเวลาจากนาฬิกาแบบตัวเลข

ระดับ 4 พิชิตยอดเขา ★ ★ ★ ★ (ต่อ)

ข้อ 95 นาฬิกาแบบตัวเลขบอกเวลา 14:30 อีก 15 นาทีจะเป็นเวลาเท่าไร เขียนแบบตัวเลข

วิธีทำ

★ ตอบ _____

ข้อ 96 นาฬิกาแบบตัวเลขบอกเวลา 18:55 อีก 5 นาทีจะเป็นเวลาเท่าไร เขียนแบบตัวเลข

วิธีทำ

★ ตอบ _____

★ ตัวอย่างแสดงวิธีทำ



กิจกรรม 7

โจทย์ปัญหาเกี่ยวกับเวลา

★ ดูตัวอย่างทีละขั้น แล้วลองทำเองต่อ

โจทย์ มะปรางอ่านหนังสือ 25 นาที แล้ววาดภาพต่ออีก 20 นาที มะปรางใช้เวลาทั้งหมดกี่นาที

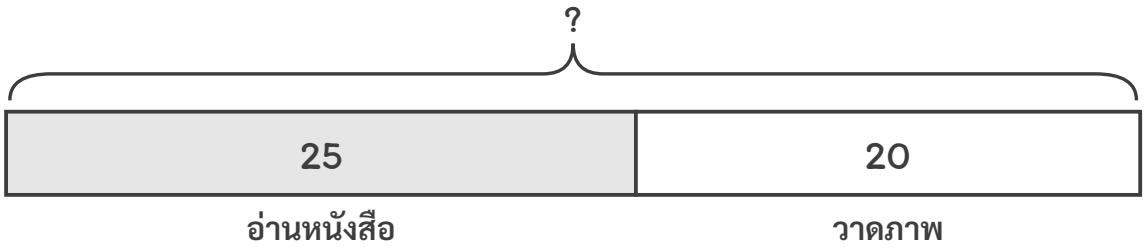

อธิบายวิธีคิดทีละขั้น

1. โจทย์ถาม: มะปรางใช้เวลาทั้งหมดกี่นาที
2. โจทย์บอก: อ่านหนังสือ 25 นาที วาดภาพ 20 นาที เวลาทั้งสองอย่างเป็นนาทีเหมือนกัน
3. หาเวลาทั้งหมดใช้การบวก เขียนประโยคสัญลักษณ์ 25 + 20 = ☐
4. 25 + 20 = 45 มะปรางใช้เวลาทั้งหมด 45 นาที

★ ตอบ 25 + 20 = 45 · ใช้เวลาทั้งหมด 45 นาที

เคล็ดลับ: ก่อนบวกหรือลบ ดูให้แน่ใจว่าเวลาทั้งสองจำนวนเป็นหน่วยเดียวกัน

ต่อไปลองปีนเอง 4 ระดับ ข้อ 97–112 →

สู้ ๆ นะ!



ระบายสีฉันได้นะ

ชื่อ ..... ชั้น ป.2/ ..... เลขที่ .....

ข้อ 97–98

กิจกรรม 7

โจทย์ปัญหาเกี่ยวกับเวลา

ระดับ 1

ก้าวแรก ★

มีภาพและตัวช่วยครบทุกขั้น เติมในช่องว่างได้เลย

ค่อย ๆ ทำทีละขั้นนะ

ข้อ 97 ต้นกล้าอายุ 8 ปี พี่สาวอายุมากกว่าต้นกล้า 4 ปี พี่สาวอายุกี่ปี

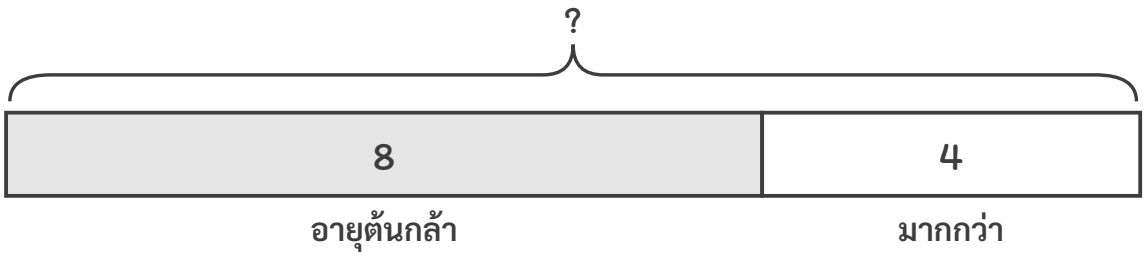

วิธีทำ

โจทย์ถาม .....

ประโยคสัญลักษณ์ .....

★ ตอบ _____

ข้อ 98 เดือนนี้มี 30 วัน ฝนตกไปแล้ว 12 วัน มีวันที่ฝนไม่ตกกี่วัน

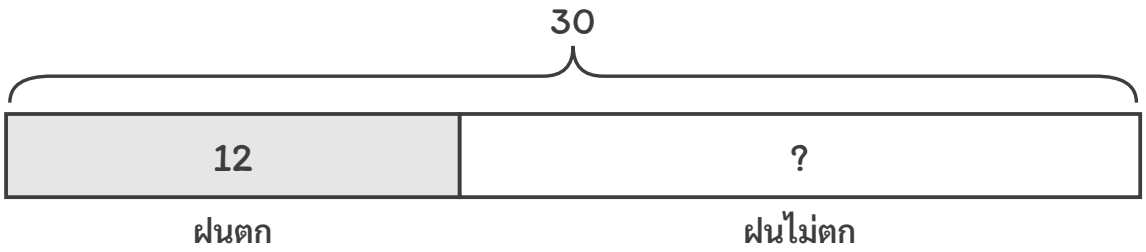

วิธีทำ

โจทย์ถาม .....

ประโยคสัญลักษณ์ .....

★ ตอบ _____

ชื่อ ..... ชั้น ป.2/ ..... เลขที่ .....

ข้อ 99–100

กิจกรรม 7 โจทย์ปัญหาเกี่ยวกับเวลา

ระดับ 1 ก้าวแรก ★ (ต่อ)

ข้อ 99 พ่อขับรถไปต่างจังหวัด 3 ชั่วโมง แล้วขับต่ออีก 2 ชั่วโมง พ่อขับรถรวมกี่ชั่วโมง

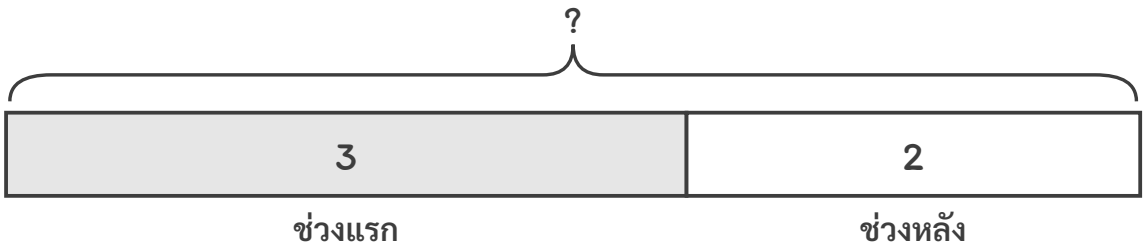

วิธีทำ

โจทย์ถาม .....

ประโยคสัญลักษณ์ .....

★ ตอบ _____

ข้อ 100 ภูมิใช้เวลาเดินไปโรงเรียน 45 นาที วันนี้ปั่นจักรยานใช้เวลา 15 นาที ปั่นจักรยานใช้เวลาน้อยกว่าเดินกี่นาที

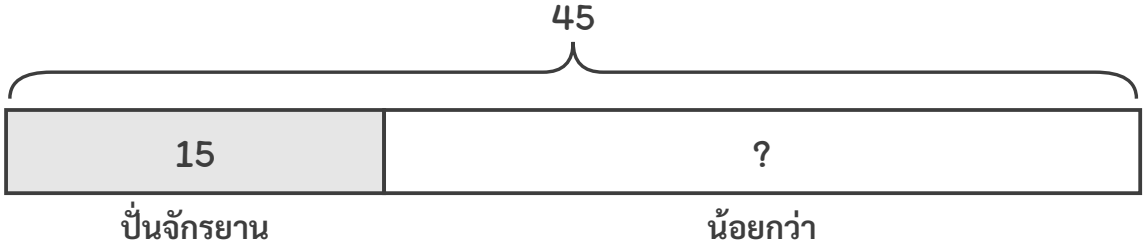

วิธีทำ

โจทย์ถาม .....

ประโยคสัญลักษณ์ .....

★ ตอบ _____

กิจกรรม 7

โจทย์ปัญหาเกี่ยวกับเวลา

ระดับ 2

ออกเดินทาง ★★

มีคำใบ้บอกว่าต้องทำอะไร ลองคิดเองมากขึ้น

อ่านคำใบ้ก่อนลงมือนะ

ข้อ 101 ไข่ไก่ใช้เวลาฟัก 21 วัน แม่ไก่ฟักไข่มาแล้ว 14 วัน อีกกี่วันลูกไก่จะออกจากไข่

คำใบ้ ใช้การลบ 21 – 14

วิธีทำ

★ ตอบ _____

ข้อ 102 ลูกไก่อายุ 15 วัน ลูกเป็ดอายุ 9 วัน ลูกไก่อายุมากกว่าลูกเป็ดกี่วัน

คำใบ้ หาผลต่างใช้การลบ

วิธีทำ

★ ตอบ _____



กิจกรรม 7

โจทย์ปัญหาเกี่ยวกับเวลา

ระดับ 2 ออกเดินทาง ★ ★ (ต่อ)

ข้อ 103 น้องแบมเรียนว่ายน้ำมาแล้ว 5 เดือน จะเรียนต่ออีก 4 เดือน รวมเรียนว่ายน้ำกี่เดือน

คำใบ้ เดือนกับเดือนบวกกันได้

วิธีทำ

★ ตอบ _____

ข้อ 104 คุณยายอายุ 72 ปี คุณแม่อายุ 38 ปี คุณยายอายุมากกว่าคุณแม่กี่ปี

คำใบ้ หาผลต่างใช้การลบ

วิธีทำ

★ ตอบ _____

กิจกรรม 7

โจทย์ปัญหาเกี่ยวกับเวลา



ระดับ 3

ปีนให้สูงขึ้น ★ ★ ★

คำใบ้เหลือแค่สั้น ๆ ในสองข้อแรก ต้องเลือกวิธีเอง

ข้อหลังไม่มีคำใบ้แล้วนะ



ข้อ 105 ขนมปังต้องอบ 35 นาที อบไปแล้ว 20 นาที ต้องอบต่ออีกกี่นาที

ใบ้สั้น ๆ ใช้การลบ

วิธีทำ

★ ตอบ _____

ข้อ 106 ต้นไม้ต้นหนึ่งปลูกไว้ 6 ปี ต้นมะม่วงปลูกก่อนต้นนี้ 5 ปี ต้นมะม่วงปลูกมาแล้วกี่ปี

ใบ้สั้น ๆ ปลูกก่อนแสดงว่ามากกว่า

วิธีทำ

★ ตอบ _____

ชื่อ ..... ชั้น ป.2/ ..... เลขที่ .....

ข้อ 107–108

กิจกรรม 7

โจทย์ปัญหาเกี่ยวกับเวลา



ระดับ 3 ปีนให้สูงขึ้น ★ ★ ★ (ต่อ)

ข้อ 107 ภาคเรียนหนึ่งมี 20 สัปดาห์ เรียนไปแล้ว 13 สัปดาห์ เหลืออีกกี่สัปดาห์

วิธีทำ

★ ตอบ _____

ข้อ 108 ต้นทำการบ้านวิชาคณิตศาสตร์ 30 นาที วิชาภาษาไทย 25 นาที ต้นทำการบ้านรวมกี่นาที

วิธีทำ

★ ตอบ _____

ชื่อ ..... ชั้น ป.2/ ..... เลขที่ .....

ข้อ 109–110

กิจกรรม 7

โจทย์ปัญหาเกี่ยวกับเวลา



ระดับ 4

พิชิตยอดเขา ★★★★

ไม่มีคำใบ้แล้ว โจทย์ปัญหา หาข้อผิด และข้อท้าทาย

คิดเองได้ สู้ ๆ!



ข้อ 109 โจทย์: หมูหยองอายุ 9 ปี น้องอายุน้อยกว่า 3 ปี น้องอายุกี่ปี เพื่อนตอบว่า 9 + 3 ได้ 12 ปี ถูกหรือไม่ เขียนให้ถูก

วิธีทำ

★ ตอบ _____

ข้อ 110 เตยเล่นดนตรี 40 นาที นานกว่าเวลาที่ทำงานบ้าน 15 นาที เตยทำงานบ้านกี่นาที

วิธีทำ

★ ตอบ _____

ชื่อ ..... ชั้น ป.2/ ..... เลขที่ .....

ข้อ 111–112



กิจกรรม 7 โจทย์ปัญหาเกี่ยวกับเวลา

ระดับ 4 พิชิตยอดเขา ★ ★ ★ ★ (ต่อ)

ข้อ 111 แต่งโจทย์ปัญหาเกี่ยวกับเวลาที่เป็นนาที แล้วหาคำตอบ

50 – 20 = ☐

วิธีทำ

★ ตอบ _____

ข้อ 112 พี่ฝึกเปียโน 50 นาที น้องฝึกเปียโน 35 นาที ใครฝึกนานกว่า และนานกว่ากี่นาที

วิธีทำ

★ ตอบ _____

ชื่อ ..... ชั้น ป.2/ ..... เลขที่ .....

★ ประเมินตัวเอง



ถึงยอดเขาแล้ว!

ทบทวนความคิดของฉัน

กิจกรรมที่ฉันชอบที่สุดคือกิจกรรม ___ เพราะ _____

ข้อที่ยากที่สุดสำหรับฉันคือข้อ ___ เพราะ _____

สิ่งที่ฉันทำได้ดีขึ้นคือ _____

★ ประเมินตัวเองหลังจบหน่วย

ระบายดาวตามความมั่นใจ · 1 ดวง = ยังไม่ค่อยเข้าใจ · 2 ดวง = เข้าใจแล้ว · 3 ดวง = เข้าใจดีมาก

	ระดับ 1 ก้าวแรก	ระดับ 2 ออกเดินทาง	ระดับ 3 ปีนให้สูงขึ้น	ระดับ 4 พิชิตยอดเขา
กิจกรรม 1 อ่านปฏิทิน	☆ ☆ ☆	☆ ☆ ☆	☆ ☆ ☆	☆ ☆ ☆
กิจกรรม 2 เขียนแสดงวัน เดือน ปี	☆ ☆ ☆	☆ ☆ ☆	☆ ☆ ☆	☆ ☆ ☆
กิจกรรม 3 บอกเวลาเป็นนาฬิกา	☆ ☆ ☆	☆ ☆ ☆	☆ ☆ ☆	☆ ☆ ☆
กิจกรรม 4 บอกเวลาเป็นนาฬิกาและนาที	☆ ☆ ☆	☆ ☆ ☆	☆ ☆ ☆	☆ ☆ ☆
กิจกรรม 5 บอกระยะเวลาเป็นชั่วโมงหรือนาที	☆ ☆ ☆	☆ ☆ ☆	☆ ☆ ☆	☆ ☆ ☆
กิจกรรม 6 บอกเวลาจากนาฬิกาแบบตัวเลข	☆ ☆ ☆	☆ ☆ ☆	☆ ☆ ☆	☆ ☆ ☆
กิจกรรม 7 โจทย์ปัญหาเกี่ยวกับเวลา	☆ ☆ ☆	☆ ☆ ☆	☆ ☆ ☆	☆ ☆ ☆

ทำถูก ..... ข้อ จากทั้งหมด 112 ข้อ

เก่งมาก! ปีนครบทั้ง 4 ระดับแล้ว

