ชั้นประถมศึกษาปีที่ 2 · คณิตศาสตร์ · หน่วยที่ 9

รูปเรขาคณิต

ทรงสามมิติ รูปหลายเหลี่ยม วงกลม วงรี การเขียนรูป และแบบรูปซ้ำ



6 กิจกรรม · ตัวอย่างแสดงวิธีทำ 6 หน้า | แบบฝึก 96 ข้อ · 4 ระดับ | ฉบับนักเรียน | พิมพ์ขาว-ดำได้

หนังสือของ _____ ชั้น ป.2/ _____

คำแนะนำสำหรับครูและผู้ปกครอง

แบบฝึกชุด **รูปเรขาคณิต** ชั้น ป.2 แต่ละกิจกรรมเริ่มด้วยหน้าตัวอย่างแสดงวิธีทำ แล้วให้เด็กค่อย ๆ ปีนขึ้นไปทีละระดับ จากก้าวแรกที่มีตัวช่วยครบ ไปจนถึงพิชิตยอดเขาที่ต้องคิดเอง

1 ในชุดนี้มีอะไรบ้าง

กิจกรรม 1 · ทรงสี่เหลี่ยมมุมฉากและทรงกลม	หน้า 3–11	**16 ข้อ (ข้อ 1–16)**
กิจกรรม 2 · รูปหลายเหลี่ยม	หน้า 12–20	**16 ข้อ (ข้อ 17–32)**
กิจกรรม 3 · วงกลมและวงรี	หน้า 21–29	**16 ข้อ (ข้อ 33–48)**
กิจกรรม 4 · จำแนกและนับรูปเรขาคณิตในภาพ	หน้า 30–38	**16 ข้อ (ข้อ 49–64)**
กิจกรรม 5 · เขียนรูปหลายเหลี่ยมบนกระดาษจุด	หน้า 39–47	**16 ข้อ (ข้อ 65–80)**
กิจกรรม 6 · แบบรูปซ้ำของรูปเรขาคณิต	หน้า 48–56	**16 ข้อ (ข้อ 81–96)**

2 ระดับการเรียนรู้ในทุกกิจกรรม

ระดับ 1 ก้าวแรก ★
มีภาพและตัวช่วยครบทุกขั้น เติมในช่องว่างได้เลย

ระดับ 2 ออกเดินทาง ★★
มีคำใบ้บอกว่าต้องทำอะไร ลองคิดเองมากขึ้น

ระดับ 3 ปีนให้สูงขึ้น ★★★
คำใบ้เหลือแค่สั้น ๆ ในสองข้อแรก ต้องเลือกวิธีเอง

ระดับ 4 พิชิตยอดเขา ★★★★
ไม่มีคำใบ้แล้ว โจทย์ปัญหา หาข้อผิด และข้อท้าทาย

3 ทำอย่างไรให้ได้ผล

- เริ่มทุกกิจกรรมจากหน้า **ตัวอย่างแสดงวิธีทำ** อ่านไปพร้อมกับเด็กให้ครบทุกขั้นก่อนลงมือทำ
- แต่ละกิจกรรมมีแบบฝึก 4 ระดับ ระดับละ 4 ข้อ หน้าละ 2 ข้อ ตัวช่วยค่อย ๆ ลดลงเมื่อขึ้นระดับ
- ครูเลือกระดับเริ่มต้นให้เด็กแต่ละคนได้ เด็กที่คล่องแล้วเริ่มที่ระดับ 2 หรือ 3 ได้
- ถ้าเด็กติดข้อใด ให้ย้อนไปดูหน้าตัวอย่างหรือข้อในระดับก่อนหน้า
- ให้เด็กเขียนคำตอบในบรรทัด **ตอบ** ทุกครั้ง แล้วชวนตรวจกลับ
- จบหน่วยแล้วให้เด็กทำหน้า **ถึงยอดเขาแล้ว!** (หน้า 57) เพื่อประเมินตัวเอง

4 สัญลักษณ์ในเล่ม

★ ตัวอย่าง	หน้าตัวอย่างแสดงวิธีทำ ดูก่อนลงมือ
ข้อ 1	เลขข้อแบบฝึก ตรงกับเลขข้อในเฉลย
คำใบ้	คำใบ้ (มีในระดับ 2 และ 2 ข้อแรกของระดับ 3)
★ ตอบ	บรรทัดสำหรับเขียนคำตอบ

ชุดนี้มี 6 กิจกรรม อยู่หน้า 3–56 หน้าประเมินตัวเองหน้า 57 เฉลยและแนวพิจารณาอยู่ท้ายเล่ม หน้า 58–67 (เฉพาะฉบับครู)

★ ตัวอย่างแสดงวิธีทำ

กิจกรรม 1

ทรงสี่เหลี่ยมมุมฉากและทรงกลม



★ ดูตัวอย่างทีละขั้น แล้วลองทำเองต่อ

โจทย์ ข้อใดเป็นทรงสี่เหลี่ยมมุมฉาก ข้อใดเป็นทรงกลม

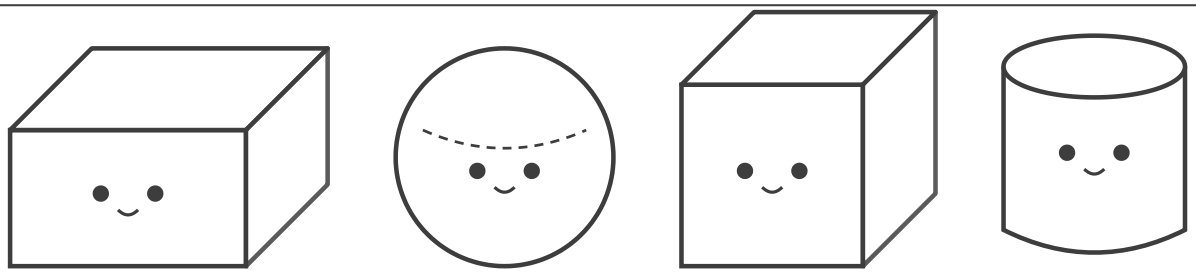

ก ข ค ง

อธิบายวิธีคิดทีละขั้น

1. ทรงสี่เหลี่ยมมุมฉากมีหน้า 6 หน้า ทุกหน้าเป็นรูปสี่เหลี่ยมมุมฉาก เช่น กล่องนม ลูกเต๋า
2. ทรงกลมมีผิวโค้งทั้งหมด ไม่มีหน้าที่แบนเรียบ กลิ้งได้ทุกทิศทาง เช่น ลูกบอล
3. ก และ ค เป็นทรงสี่เหลี่ยมมุมฉาก · ข เป็นทรงกลม
4. ง ไม่ใช่ทั้งสองแบบ เพราะมีหน้าเป็นวงกลมและมีผิวโค้ง เป็นทรงกระบอก

★ ตอบ ทรงสี่เหลี่ยมมุมฉาก ก, ค · ทรงกลม ข

เคล็ดลับ: นำหน้าของทรงสี่เหลี่ยมมุมฉากไปพิมพ์ จะได้รูปสี่เหลี่ยมมุมฉาก

ต่อไปลองปีนเอง 4 ระดับ ข้อ 1–16 →

สู้ ๆ นะ!



ระบายสีฉันได้นะ

ชื่อ ..... ชั้น ป.2/ ..... เลขที่ .....

ข้อ 1–2

กิจกรรม 1

ทรงสี่เหลี่ยมมุมฉากและทรงกลม



ระดับ 1

ก้าวแรก ★

มีภาพและตัวช่วยครบทุกขั้น เติมในช่องว่างได้เลย

ค่อย ๆ ทำทีละขั้นนะ



ข้อ 1 นำหน้าที่แบนเรียบของทรงสี่เหลี่ยมมุมฉากไปจุ่มสีแล้วกดลงบนกระดาษ จะได้รอยพิมพ์เป็นรูปอะไร

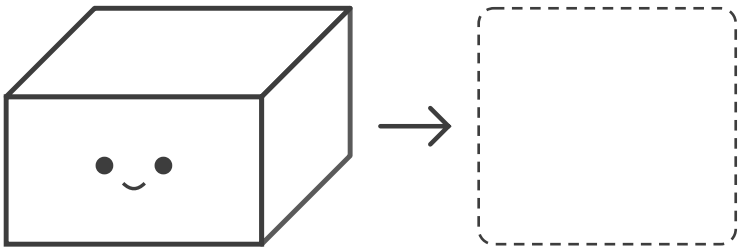

วิธีทำ

วาดรอยพิมพ์ลงในกรอบ

รอยพิมพ์เป็น .....

★ ตอบ _____

ข้อ 2 นำหน้าที่แบนเรียบของทรงสี่เหลี่ยมมุมฉากไปจุ่มสีแล้วกดลงบนกระดาษ จะได้รอยพิมพ์เป็นรูปอะไร

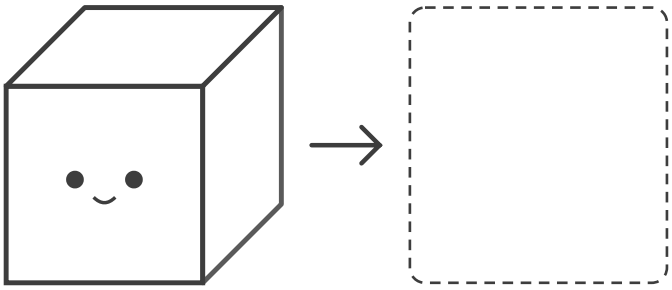

วิธีทำ

วาดรอยพิมพ์ลงในกรอบ

รอยพิมพ์เป็น .....

★ ตอบ _____

ชื่อ ..... ชั้น ป.2/ ..... เลขที่ .....

กิจกรรม 1

ทรงสี่เหลี่ยมมุมฉากและทรงกลม



ระดับ 1 ก้าวแรก ★ (ต่อ)

ข้อ 3 นำหน้าที่แบนเรียบของทรงกระบอกไปจุ่มสีแล้วกดลงบนกระดาษ จะได้รอยพิมพ์เป็นรูปอะไร

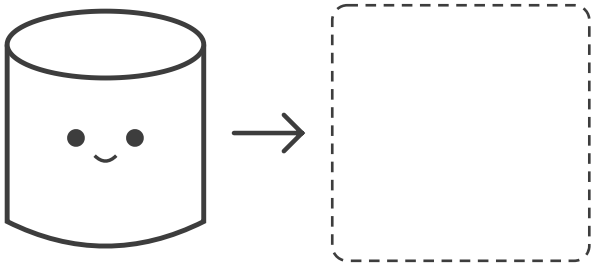

วิธีทำ

วาดรอยพิมพ์ลงในกรอบ

รอยพิมพ์เป็น .....

★ ตอบ _____

ข้อ 4 นำหน้าที่แบนเรียบของกรวยไปจุ่มสีแล้วกดลงบนกระดาษ จะได้รอยพิมพ์เป็นรูปอะไร

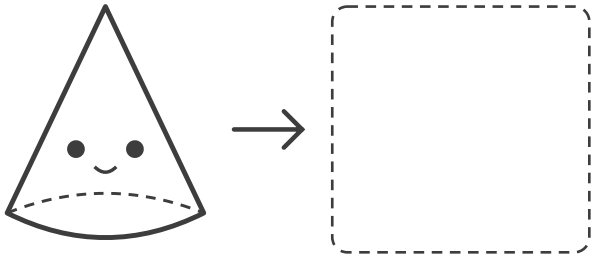

วิธีทำ

วาดรอยพิมพ์ลงในกรอบ

รอยพิมพ์เป็น .....

★ ตอบ _____

ชื่อ ..... ชั้น ป.2/ ..... เลขที่ .....

ข้อ 5–6

กิจกรรม 1

ทรงสี่เหลี่ยมมุมฉากและทรงกลม



ระดับ 2

ออกเดินทาง ★★

มีคำใบ้บอกว่าต้องทำอะไร ลองคิดเองมากขึ้น

อ่านคำใบ้ก่อนลงมือนะ



ข้อ 5 ข้อใดเป็นทรงสี่เหลี่ยมมุมฉาก ตอบให้ครบทุกข้อ

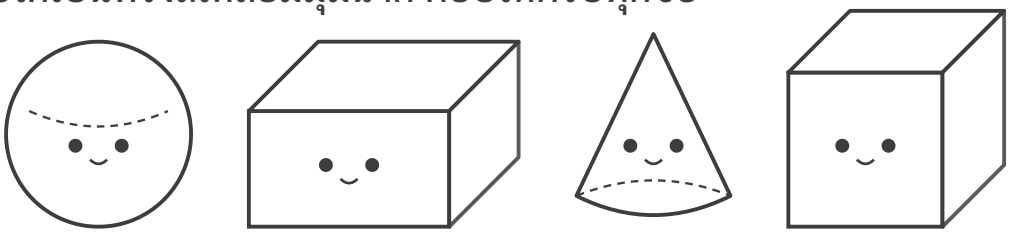

ก ข ค ง

คำใบ้ ดูว่าทุกหน้าเป็นรูปสี่เหลี่ยมมุมฉากหรือไม่

วิธีทำ

ทรงสี่เหลี่ยมมุมฉากมีลักษณะ .....

ข้อที่เป็นคือ .....

★ ตอบ _____

ข้อ 6 ข้อใดเป็นทรงกลม ตอบให้ครบทุกข้อ



ก ข ค ง

คำใบ้ ทรงกลมไม่มีหน้าที่แบนเรียบ

วิธีทำ

ทรงกลมมีลักษณะ .....

ข้อที่เป็นคือ .....

★ ตอบ _____

ชื่อ ..... ชั้น ป.2/ ..... เลขที่ .....

กิจกรรม 1

ทรงสี่เหลี่ยมมุมฉากและทรงกลม



ระดับ 2 ออกเดินทาง ★ ★ (ต่อ)

ข้อ 7 ข้อใดเป็นทรงสี่เหลี่ยมมุมฉาก ตอบให้ครบทุกข้อ



ก ข ค ง

คำใบ้ มีหน้า 6 หน้า

วิธีทำ

★ ตอบ _____

ข้อ 8 ข้อใดเป็นทรงกลม ตอบให้ครบทุกข้อ



ก ข ค ง

คำใบ้ กลิ้งได้ทุกทิศทาง

วิธีทำ

★ ตอบ _____

ชื่อ ..... ชั้น ป.2/ ..... เลขที่ .....

ข้อ 9–10

กิจกรรม 1

ทรงสี่เหลี่ยมมุมฉากและทรงกลม



ระดับ 3

ปีนให้สูงขึ้น ★ ★ ★

คำใบ้เหลือแค่สั้น ๆ ในสองข้อแรก ต้องเลือกวิธีเอง

ข้อหลังไม่มีคำใบ้แล้วนะ



ข้อ 9 สิ่งของใดเป็นทรงสี่เหลี่ยมมุมฉาก: กล่องนม, ลูกแก้ว, ลูกเต๋า, ลูกฟุตบอล

ใบ้สั้น ๆ นึกถึงของจริง

วิธีทำ

★ ตอบ _____

ข้อ 10 สิ่งของใดเป็นทรงกลม: ลูกปิงปอง, หนังสือ, ลูกโลกจำลอง, กล่องดินสอ

ใบ้สั้น ๆ ทรงกลมกลิ้งได้

วิธีทำ

★ ตอบ _____

ชื่อ ..... ชั้น ป.2/ ..... เลขที่ .....

กิจกรรม 1

ทรงสี่เหลี่ยมมุมฉากและทรงกลม



ระดับ 3 ปีนให้สูงขึ้น ★ ★ ★ (ต่อ)

ข้อ 11 ทรงสี่เหลี่ยมมุมฉากมีกี่หน้า และแต่ละหน้าเป็นรูปอะไร

วิธีทำ

★ ตอบ _____

ข้อ 12 สิ่งของใดเป็นทรงสี่เหลี่ยมมุมฉาก: ลูกเต๋า, ลูกฟุตบอล, กล่องนม, หนังสือ

วิธีทำ

★ ตอบ _____

ชื่อ ..... ชั้น ป.2/ ..... เลขที่ .....

ข้อ 13–14

กิจกรรม 1

ทรงสี่เหลี่ยมมุมฉากและทรงกลม



ระดับ 4

พิชิตยอดเขา ★★★★

ไม่มีคำใบ้แล้ว โจทย์ปัญหา หาข้อผิด และข้อท้าทาย

คิดเองได้ สู้ ๆ!



ข้อ 13 ต้นบอกว่ากระป๋องเป็นทรงกลม เพราะรอยพิมพ์ของกระป๋องเป็นวงกลม ถูกหรือไม่ อธิบาย

วิธีทำ

★ ตอบ _____

ข้อ 14 ถ้าต้องการกองสิ่งของซ้อนกันให้มั่นคง ควรเลือกทรงสี่เหลี่ยมมุมฉากหรือทรงกลม เพราะเหตุใด

วิธีทำ

★ ตอบ _____

ชื่อ ..... ชั้น ป.2/ ..... เลขที่ .....

ข้อ 15–16

กิจกรรม 1

ทรงสี่เหลี่ยมมุมฉากและทรงกลม



ระดับ 4 พิชิตยอดเขา ★ ★ ★ ★ (ต่อ)

ข้อ 15 นำทรงสี่เหลี่ยมมุมฉาก 2 อันมาวางแยกกัน มีหน้ารวมกันกี่หน้า

วิธีทำ

★ ตอบ _____

ข้อ 16 รอยพิมพ์ที่เป็นรูปสี่เหลี่ยมมุมฉาก ได้จากทรงสี่เหลี่ยมมุมฉากหรือทรงกลม

วิธีทำ

★ ตอบ _____

ชื่อ ..... ชั้น ป.2/ ..... เลขที่ .....

★ ตัวอย่างแสดงวิธีทำ

กิจกรรม 2

รูปหลายเหลี่ยม



★ ดูตัวอย่างทีละขั้น แล้วลองทำเองต่อ

โจทย์ รูปนี้มีกี่ด้าน กี่มุม และเรียกว่ารูปอะไร

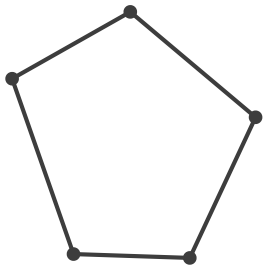

อธิบายวิธีคิดทีละขั้น

1. รูปที่มีด้านเป็นเส้นตรงหลายเส้นต่อกันจนปิดล้อม เรียกว่า รูปหลายเหลี่ยม
2. นับด้านได้ 5 ด้าน นับมุม (จุดสีชมพูที่ด้านมาพบกัน) ได้ 5 มุม
3. รูปหลายเหลี่ยมเรียกชื่อตามจำนวนด้าน รูปนี้มี 5 ด้าน จึงเรียกว่า รูปห้าเหลี่ยม
4. รูปหลายเหลี่ยมมีจำนวนมุมเท่ากับจำนวนด้านเสมอ

★ ตอบ 5 ด้าน 5 มุม รูปห้าเหลี่ยม

เคล็ดลับ: ทำเครื่องหมายที่ด้านที่นับแล้ว จะได้ไม่นับซ้ำ

ต่อไปลองปีนเอง 4 ระดับ ข้อ 17–32 →

สู้ ๆ นะ!



ระบายสีฉันได้นะ

ชื่อ ..... ชั้น ป.2/ ..... เลขที่ .....

ข้อ 17–18

กิจกรรม 2

รูปหลายเหลี่ยม



ระดับ 1

ก้าวแรก ★

มีภาพและตัวช่วยครบทุกขั้น เติมในช่องว่างได้เลย

ค่อย ๆ ทำทีละขั้นนะ



ข้อ 17 รูปนี้มีกี่ด้าน กี่มุม และเรียกว่ารูปอะไร

วิธีทำ



มี _____ ด้าน มี _____ มุม

เรียกว่า _____

★ ตอบ _____

ข้อ 18 รูปนี้มีกี่ด้าน กี่มุม และเรียกว่ารูปอะไร

วิธีทำ



มี _____ ด้าน มี _____ มุม

เรียกว่า _____

★ ตอบ _____

ชื่อ ..... ชั้น ป.2/ ..... เลขที่ .....

ข้อ 19–20

กิจกรรม 2

รูปหลายเหลี่ยม



ระดับ 1 ก้าวแรก ★ (ต่อ)

ข้อ 19 รูปนี้มีกี่ด้าน กี่มุม และเรียกว่ารูปอะไร

วิธีทำ



มี ..... ด้าน มี ..... มุม

เรียกว่า .....

★ ตอบ _____

ข้อ 20 รูปนี้มีกี่ด้าน กี่มุม และเรียกว่ารูปอะไร

วิธีทำ



มี ..... ด้าน มี ..... มุม

เรียกว่า .....

★ ตอบ _____

ชื่อ ..... ชั้น ป.2/ ..... เลขที่ .....

ข้อ 21–22

กิจกรรม 2

รูปหลายเหลี่ยม



ระดับ 2

ออกเดินทาง ★★

มีคำใบ้บอกว่าต้องทำอะไร ลองคิดเองมากขึ้น

อ่านคำใบ้ก่อนลงมือนะ



ข้อ 21 รูปใดเป็นรูปสามเหลี่ยม ตอบให้ครบทุกข้อ

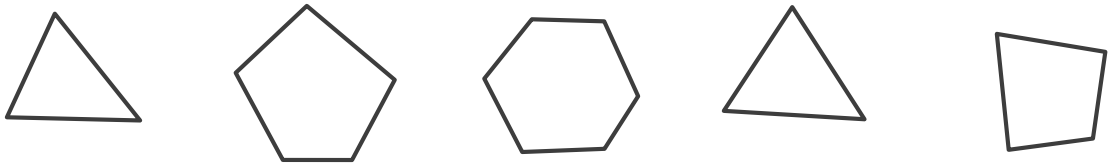

ก ข ค ง จ

คำใบ้ นับด้านของแต่ละรูป

วิธีทำ

รูปสามเหลี่ยมมี ..... ด้าน

ข้อที่เป็นคือ .....

★ ตอบ _____

ข้อ 22 รูปใดเป็นรูปหกเหลี่ยม ตอบให้ครบทุกข้อ

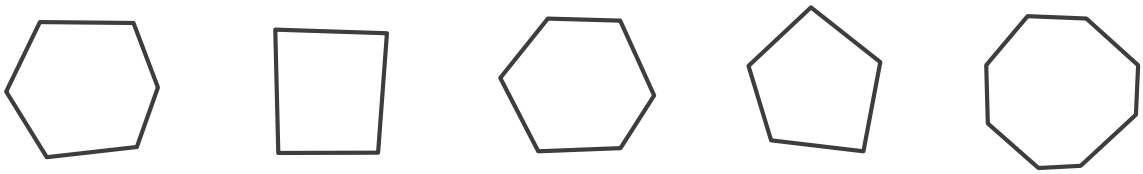

ก ข ค ง จ

คำใบ้ หกเหลี่ยมมี 6 ด้าน

วิธีทำ

รูปหกเหลี่ยมมี ..... ด้าน

ข้อที่เป็นคือ .....

★ ตอบ _____

ชื่อ ..... ชั้น ป.2/ ..... เลขที่ .....

ข้อ 23–24

กิจกรรม 2

รูปหลายเหลี่ยม



ระดับ 2 ออกเดินทาง ★ ★ (ต่อ)

ข้อ 23 รูปนี้มีกี่ด้าน กี่มุม และเรียกว่ารูปอะไร

คำใบ้ นับด้านทีละด้าน

วิธีทำ

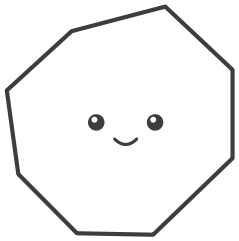

★ ตอบ _____

ข้อ 24 รูปใดเป็นรูปห้าเหลี่ยม ตอบให้ครบทุกข้อ

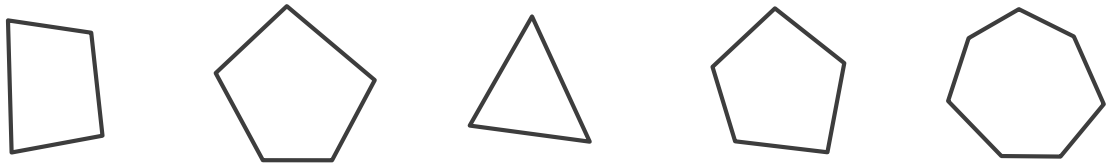

ก ข ค ง จ

คำใบ้ ห้าเหลี่ยมมี 5 ด้าน

วิธีทำ

รูปห้าเหลี่ยมมี ..... ด้าน

ข้อที่เป็นคือ .....

★ ตอบ _____

ชื่อ ..... ชั้น ป.2/ ..... เลขที่ .....

ข้อ 25–26

กิจกรรม 2

รูปหลายเหลี่ยม



ระดับ 3

ปีนให้สูงขึ้น ★ ★ ★

คำใบ้เหลือแค่สั้น ๆ ในสองข้อแรก ต้องเลือกวิธีเอง

ข้อหลังไม่มีคำใบ้แล้วนะ



ข้อ 25 รูปหลายเหลี่ยมที่มี 7 ด้าน มีกี่มุม และเรียกว่ารูปอะไร

ใบ้สั้น ๆ มุมเท่ากับด้าน

วิธีทำ

★ ตอบ _____

ข้อ 26 มีรูปสามเหลี่ยม 2 รูป และรูปสี่เหลี่ยม 1 รูป มีด้านรวมกันกี่ด้าน

ใบ้สั้น ๆ สามเหลี่ยม 3 ด้าน

วิธีทำ

★ ตอบ _____

ชื่อ ..... ชั้น ป.2/ ..... เลขที่ .....

กิจกรรม 2

รูปหลายเหลี่ยม



ระดับ 3 ปีนให้สูงขึ้น ★ ★ ★ (ต่อ)

ข้อ 27 รูปใดเป็นรูปแปดเหลี่ยม ตอบให้ครบทุกข้อ

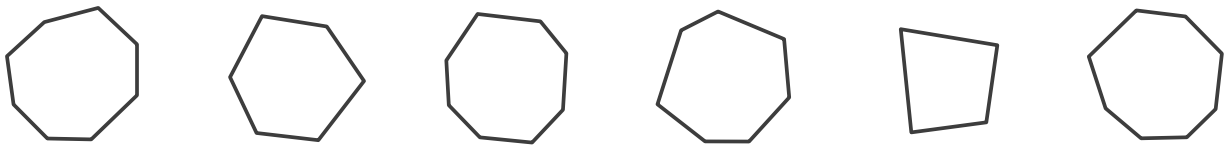

ก ข ค ง จ ฉ

วิธีทำ

★ ตอบ _____

ข้อ 28 รูปนี้มีกี่ด้าน กี่มุม และเรียกว่ารูปอะไร

วิธีทำ

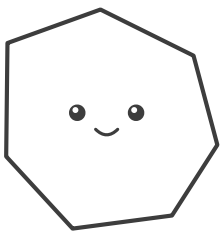

★ ตอบ _____

ชื่อ ..... ชั้น ป.2/ ..... เลขที่ .....

ข้อ 29–30

กิจกรรม 2

รูปหลายเหลี่ยม



ระดับ 4

พิชิตยอดเขา ★★★★

ไม่มีคำใบ้แล้ว โจทย์ปัญหา หาข้อผิด และข้อท้าทาย

คิดเองได้ สู้ ๆ!



ข้อ 29 วงกลมเป็นรูปหลายเหลี่ยมหรือไม่ อธิบาย

วิธีทำ

★ ตอบ .....

ข้อ 30 แพรนับรูปนี้ได้ 5 ด้าน แล้วบอกว่าเป็นรูปห้าเหลี่ยม ถูกหรือไม่ ถ้าไม่ถูก เขียนให้ถูก

วิธีทำ

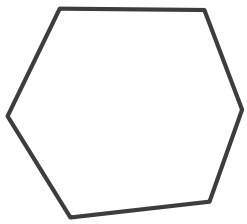

★ ตอบ .....

ชื่อ ..... ชั้น ป.2/ ..... เลขที่ .....

ข้อ 31–32

กิจกรรม 2

รูปหลายเหลี่ยม



ระดับ 4 พิชิตยอดเขา ★ ★ ★ ★ (ต่อ)

ข้อ 31 รูปหลายเหลี่ยมที่มีจำนวนด้านน้อยที่สุดคือรูปอะไร มีกี่ด้าน

วิธีทำ

★ ตอบ _____

ข้อ 32 รูปแปดเหลี่ยมมีมุมมากกว่ารูปห้าเหลี่ยมกี่มุม

วิธีทำ

★ ตอบ _____

กิจกรรม 3

วงกลมและวงรี



★ ดูตัวอย่างทีละขั้น แล้วลองทำเองต่อ

โจทย์ รูปใดเป็นวงกลม รูปใดเป็นวงรี



ก ข ค

อธิบายวิธีคิดทีละขั้น

1. วงกลมและวงรีเป็นเส้นโค้งที่ปิดล้อม ไม่มีด้านและไม่มีมุม
2. พับครึ่งวงกลมได้หลายแนว รอยพับทุกเส้นยาวเท่ากัน · พับครึ่งวงรีได้สองแนว รอยพับสองเส้นยาวไม่เท่ากัน
3. ก เป็นวงกลม · ข เป็นวงรี
4. ค มีด้าน 6 ด้าน เป็นรูปหกเหลี่ยม ไม่ใช่วงกลมหรือวงรี

★ ตอบ **วงกลม ก · วงรี ข**

เคล็ดลับ: วงรีมีลักษณะยาวรี ส่วนวงกลมกลมเท่ากันทุกทิศทาง

ต่อไปลองปีนเอง 4 ระดับ ข้อ 33–48 →

สู้ ๆ นะ!



ระบายสีฉันได้นะ

ชื่อ ..... ชั้น ป.2/ ..... เลขที่ .....

ข้อ 33–34

กิจกรรม 3

วงกลมและวงรี



ระดับ 1

ก้าวแรก ★

มีภาพและตัวช่วยครบทุกขั้น เติมในช่องว่างได้เลย

ค่อย ๆ ทำทีละขั้นนะ



ข้อ 33 รูปใดเป็นวงกลม ตอบให้ครบทุกข้อ

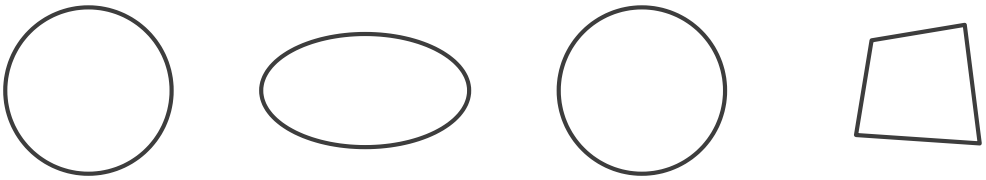

ก ข ค ง

วิธีทำ

วงกลมมีลักษณะ .....

ข้อที่เป็นคือ .....

★ ตอบ _____

ข้อ 34 รูปใดเป็นวงรี ตอบให้ครบทุกข้อ

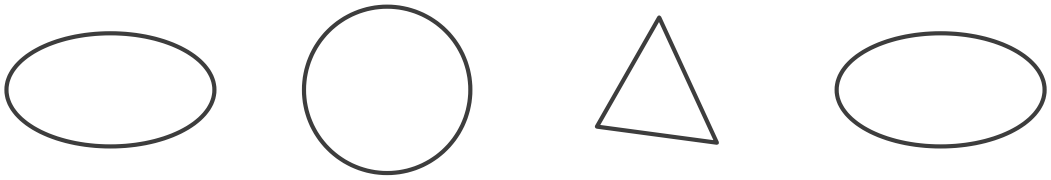

ก ข ค ง

วิธีทำ

วงรีมีลักษณะ .....

ข้อที่เป็นคือ .....

★ ตอบ _____

ชื่อ ..... ชั้น ป.2/ ..... เลขที่ .....

กิจกรรม 3

วงกลมและวงรี



ระดับ 1 ก้าวแรก ★ (ต่อ)

ข้อ 35 รูปใดเป็นวงกลม ตอบให้ครบทุกข้อ

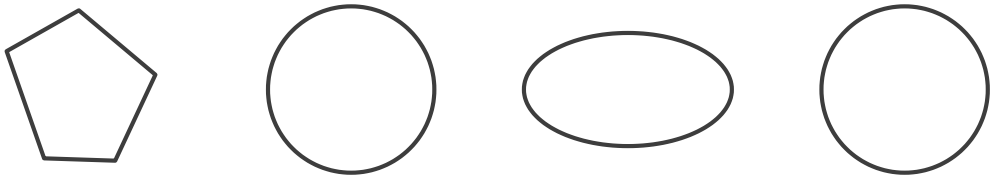

วิธีทำ

วงกลมมีลักษณะ .....

ข้อที่เป็นคือ .....

★ ตอบ _____

ข้อ 36 รูปใดเป็นวงรี ตอบให้ครบทุกข้อ

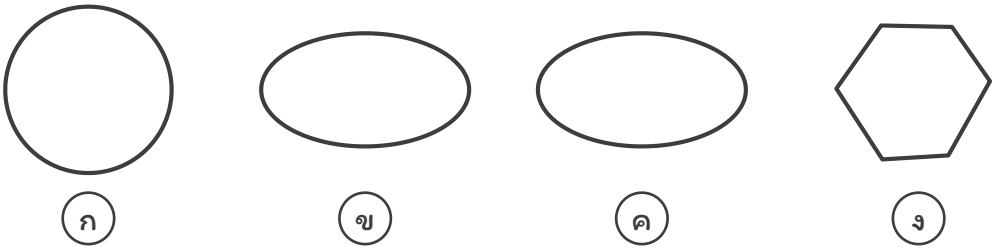

วิธีทำ

วงรีมีลักษณะ .....

ข้อที่เป็นคือ .....

★ ตอบ _____

ชื่อ ..... ชั้น ป.2/ ..... เลขที่ .....

ข้อ 37–38

กิจกรรม 3

วงกลมและวงรี



ระดับ 2

ออกเดินทาง ★★

มีคำใบ้บอกว่าต้องทำอะไร ลองคิดเองมากขึ้น

อ่านคำใบ้ก่อนลงมือนะ 

ข้อ 37 รูปใดเป็นวงกลม ตอบให้ครบทุกข้อ



ก ข ค ง จ

คำใบ้ วงกลมกลมเท่ากันทุกทิศ

วิธีทำ

★ ตอบ _____

ข้อ 38 รูปใดเป็นวงรี ตอบให้ครบทุกข้อ

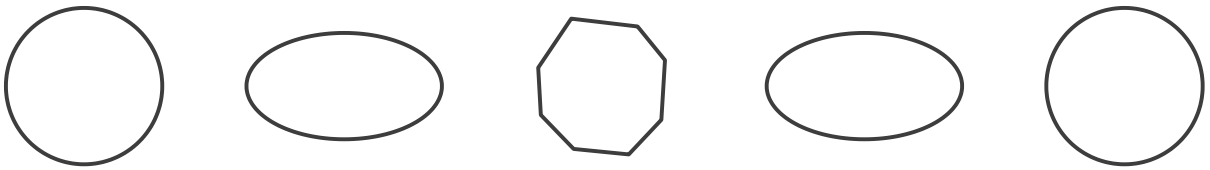

ก ข ค ง จ

คำใบ้ วงรีมีลักษณะยาวรี

วิธีทำ

★ ตอบ _____

กิจกรรม 3

วงกลมและวงรี



ระดับ 2 ออกเดินทาง ★ ★ (ต่อ)

ข้อ 39 วงกลมมีกี่ด้าน กี่มุม

คำใบ้ วงกลมเป็นเส้นโค้ง

วิธีทำ

★ ตอบ _____

ข้อ 40 พับครึ่งกระดาษรูปวงกลมได้หลายแนว รอยพับแต่ละเส้นยาวเท่ากันหรือไม่

คำใบ้ ลองพับกระดาษวงกลม

วิธีทำ

★ ตอบ _____

ชื่อ ..... ชั้น ป.2/ ..... เลขที่ .....

ข้อ 41–42

กิจกรรม 3

วงกลมและวงรี



ระดับ 3

ปีนให้สูงขึ้น ★ ★ ★

คำใบ้เหลือแค่สั้น ๆ ในสองข้อแรก ต้องเลือกวิธีเอง

ข้อหลังไม่มีคำใบ้แล้วนะ



ข้อ 41 พับครึ่งกระดาษรูปวงรีได้กี่แนว และรอยพับยาวเท่ากันหรือไม่

ใบ้สั้น ๆ ลองพับตามแนวยาวและแนวสั้น

วิธีทำ

★ ตอบ _____

ข้อ 42 ในภาพมีวงกลมกี่รูป และวงรีกี่รูป

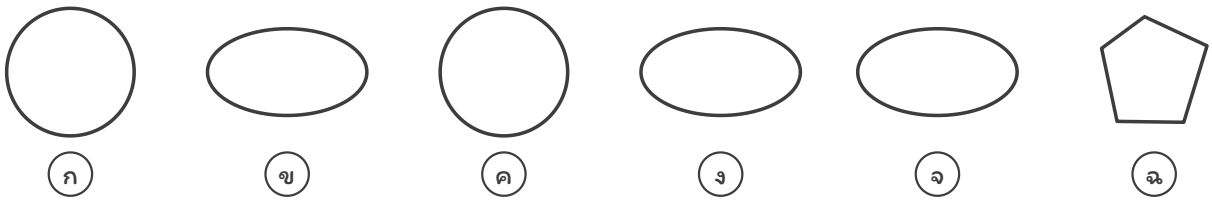

ก ข ค ง จ ฉ

ใบ้สั้น ๆ นับทีละแบบ

วิธีทำ

★ ตอบ _____

ชื่อ ..... ชั้น ป.2/ ..... เลขที่ .....

ข้อ 43–44

กิจกรรม 3

วงกลมและวงรี



ระดับ 3 ปีนให้สูงขึ้น ★ ★ ★ (ต่อ)

ข้อ 43 วงกลมกับวงรีเหมือนกันและต่างกันอย่างไร

วิธีทำ

★ ตอบ _____

ข้อ 44 รูปใดเป็นวงกลม ตอบให้ครบทุกข้อ

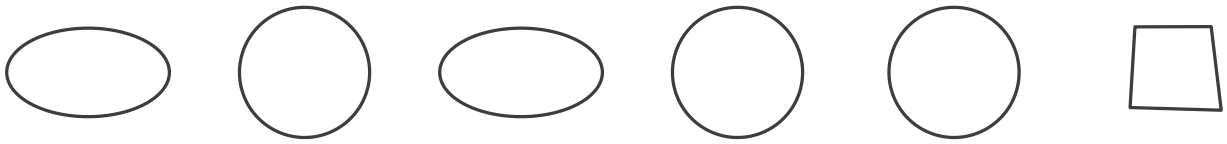

ก ข ค ง จ ฉ

วิธีทำ

★ ตอบ _____

ชื่อ ..... ชั้น ป.2/ ..... เลขที่ .....

ข้อ 45–46

กิจกรรม 3

วงกลมและวงรี



ระดับ 4

พิชิตยอดเขา ★★★★

ไม่มีคำใบ้แล้ว โจทย์ปัญหา หาข้อผิด และข้อท้าทาย

คิดเองได้ สู้ ๆ!



ข้อ 45 ภูมิบอกว่าวงรีเป็นรูปสี่เหลี่ยม เพราะมีความยาวและความกว้าง ถูกหรือไม่ อธิบาย

วิธีทำ

★ ตอบ _____

ข้อ 46 มีกระดาษรูปหนึ่งที่ดูกลมมาก ๆ จะตรวจอย่างไรว่าเป็นวงกลมหรือวงรี

วิธีทำ

★ ตอบ _____

ชื่อ ..... ชั้น ป.2/ ..... เลขที่ .....

ข้อ 47–48

กิจกรรม 3

วงกลมและวงรี



ระดับ 4 พิชิตยอดเขา ★ ★ ★ ★ (ต่อ)

ข้อ 47 ในภาพมีวงรีมากกว่าวงกลมกี่รูป

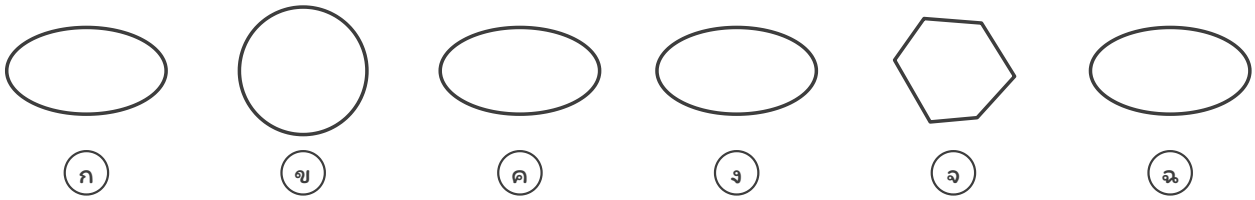

วิธีทำ

★ ตอบ _____

ข้อ 48 วาดภาพสิ่งของที่มีส่วนประกอบเป็นวงกลม 1 รูป และวงรี 2 รูป

วิธีทำ

วาดในกรอบนี้

★ ตอบ _____

★ ตัวอย่างแสดงวิธีทำ

กิจกรรม 4

จำแนกและนับรูปเรขาคณิตในภาพ



★ ดูตัวอย่างทีละขั้น แล้วลองทำเองต่อ

โจทย์ ภาพบ้านนี้มีรูปสามเหลี่ยม รูปสี่เหลี่ยม และวงกลมอย่างละกี่รูป

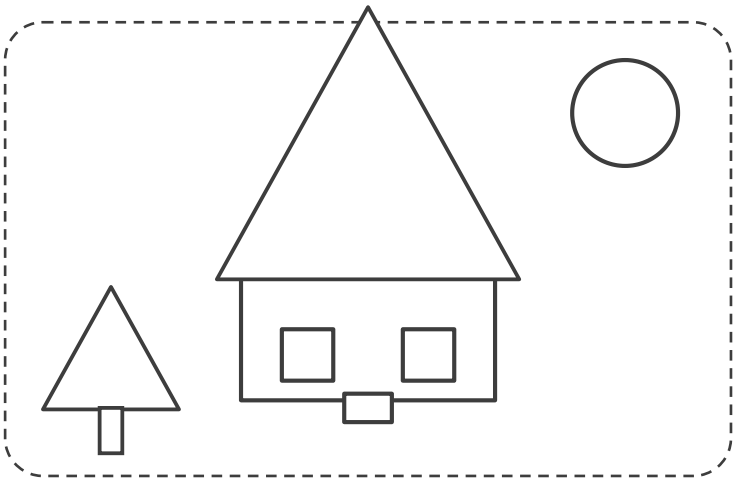

อธิบายวิธีคิดทีละขั้น

1. นับรูปสามเหลี่ยม: หลังคาและยอดต้นไม้ ได้ 2 รูป
2. นับรูปสี่เหลี่ยม: ตัวบ้าน หน้าต่าง 2 บาน ประตู และลำต้น ได้ 5 รูป
3. นับวงกลม: ดวงอาทิตย์ ได้ 1 รูป
4. ทำเครื่องหมายที่รูปที่นับแล้ว จะได้ไม่นับซ้ำหรือนับขาด

★ **ตอบ** รูปสามเหลี่ยม 2 รูป รูปสี่เหลี่ยม 5 รูป วงกลม 1 รูป

เคล็ดลับ: นับให้ครบทีละแบบ เริ่มจากรูปใหญ่แล้วจึงนับรูปเล็ก

ต่อไปลองปีนเอง 4 ระดับ ข้อ 49–64 →

สู้ ๆ นะ!



ระบายสีฉันได้นะ

กิจกรรม 4

จำแนกและนับรูปเรขาคณิตในภาพ

ระดับ 1

ก้าวแรก ★

มีภาพและตัวช่วยครบทุกขั้น เติมในช่องว่างได้เลย

ค่อย ๆ ทำทีละขั้นนะ

ข้อ 49 ภาพหุ่นยนต์นี้มีวงกลมกี่รูป

วิธีทำ

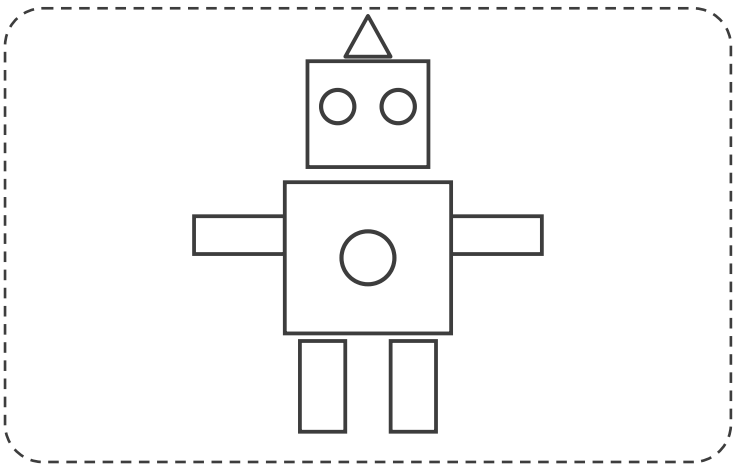

วงกลม ..... รูป

★ ตอบ _____

ข้อ 50 ภาพจรวดนี้มีรูปสามเหลี่ยมกี่รูป

วิธีทำ

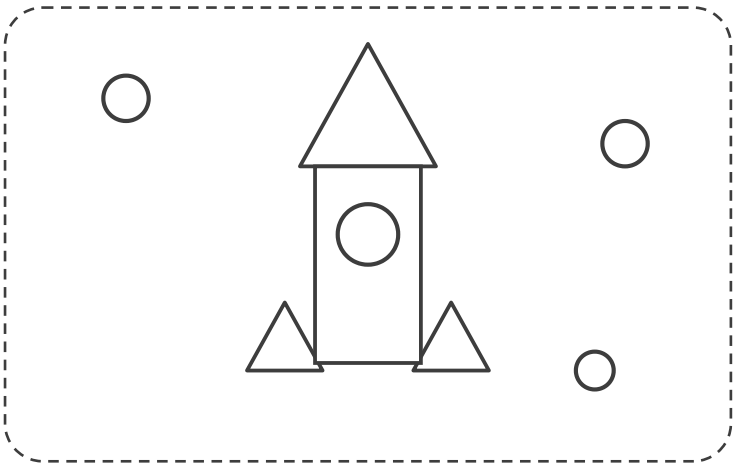

รูปสามเหลี่ยม ..... รูป

★ ตอบ _____

กิจกรรม 4

จำแนกและนับรูปเรขาคณิตในภาพ



ระดับ 1 ก้าวแรก ★ (ต่อ)

ข้อ 51 ภาพรถไฟนี้มีวงกลมกี่รูป

วิธีทำ .....



วงกลม ..... รูป

★ ตอบ _____

ข้อ 52 ภาพเรือนี้มีรูปสามเหลี่ยมกี่รูป

วิธีทำ .....

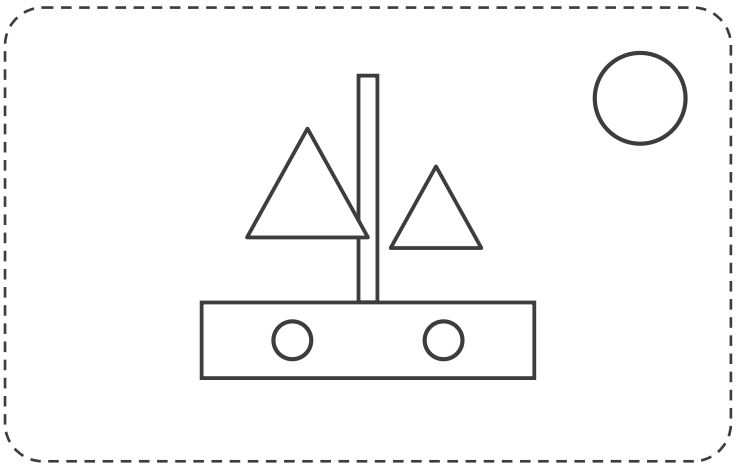

รูปสามเหลี่ยม ..... รูป

★ ตอบ _____

ชื่อ ..... ชั้น ป.2/ ..... เลขที่ .....

ข้อ 53–54

กิจกรรม 4

จำแนกและนับรูปเรขาคณิตในภาพ

ระดับ 2

ออกเดินทาง ★★

มีคำใบ้บอกว่าต้องทำอะไร ลองคิดเองมากขึ้น

อ่านคำใบ้ก่อนลงมือนะ

ข้อ 53 ภาพหุ่นยนต์นี้มีรูปสี่เหลี่ยมกี่รูป และรูปสามเหลี่ยมกี่รูป

คำใบ้ นับรูปสี่เหลี่ยมทุกขนาด



วิธีทำ

รูปสี่เหลี่ยม ..... รูป

รูปสามเหลี่ยม ..... รูป

★ ตอบ _____

ข้อ 54 ภาพรถไฟนี้มีรูปสี่เหลี่ยมกี่รูป และวงกลมกี่รูป

คำใบ้ ล้อรถไฟเป็นวงกลม



วิธีทำ

รูปสี่เหลี่ยม ..... รูป

วงกลม ..... รูป

★ ตอบ _____

ชื่อ ..... ชั้น ป.2/ ..... เลขที่ .....

ข้อ 55–56

กิจกรรม 4

จำแนกและนับรูปเรขาคณิตในภาพ



ระดับ 2 ออกเดินทาง ★ ★ (ต่อ)

ข้อ 55 ภาพจรวดนี้มีรูปสี่เหลี่ยมกี่รูป และวงกลมกี่รูป

คำใบ้ หน้าต่างกลมของจรวดก็นับด้วย

วิธีทำ

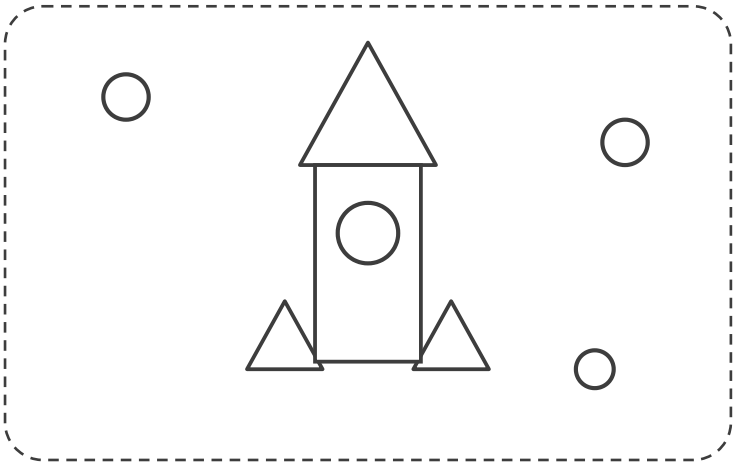

รูปสี่เหลี่ยม ..... รูป

วงกลม ..... รูป

★ ตอบ _____

ข้อ 56 ภาพเรือนี้มีรูปสี่เหลี่ยมกี่รูป และวงกลมกี่รูป

คำใบ้ เสากระโดงเป็นรูปสี่เหลี่ยม

วิธีทำ

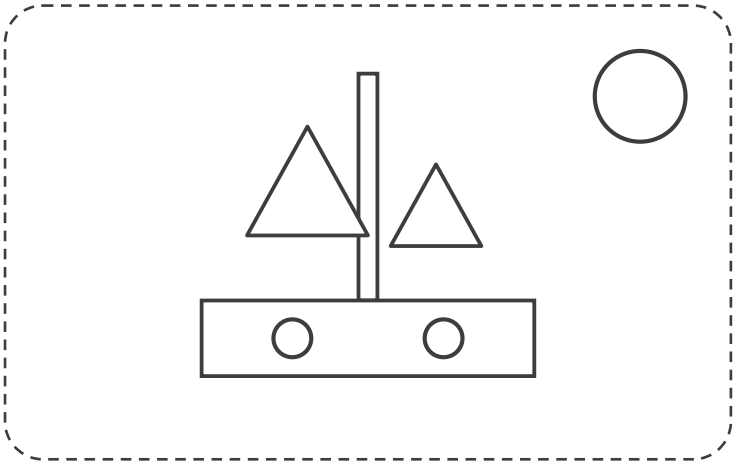

รูปสี่เหลี่ยม ..... รูป

วงกลม ..... รูป

★ ตอบ _____

กิจกรรม 4

จำแนกและนับรูปเรขาคณิตในภาพ



ระดับ 3

ปีนให้สูงขึ้น ★ ★ ★

คำใบ้เหลือแค่สั้น ๆ ในสองข้อแรก ต้องเลือกวิธีเอง

ข้อหลังไม่มีคำใบ้แล้วนะ



ข้อ 57 ภาพรถไฟนี้มีวงกลมมากกว่ารูปสี่เหลี่ยมกี่รูป

ใบ้สั้น ๆ นับแล้วหาผลต่าง

วิธีทำ



วงกลม ..... รูป

รูปสี่เหลี่ยม ..... รูป

.... = ...

★ ตอบ _____

ข้อ 58 ภาพจรวดนี้มีรูปสามเหลี่ยมและวงกลมรวมกันกี่รูป

ใบ้สั้น ๆ นับแล้วบวกกัน

วิธีทำ

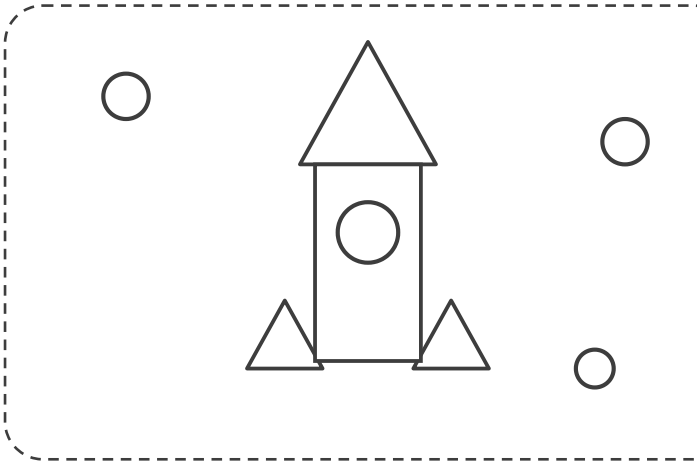

รูปสามเหลี่ยม ..... รูป

วงกลม ..... รูป

.... = ...

★ ตอบ _____

กิจกรรม 4

จำแนกและนับรูปเรขาคณิตในภาพ



ระดับ 3 ปีนให้สูงขึ้น ★ ★ ★ (ต่อ)

ข้อ 59 ภาพหุ่นยนต์นี้มีรูปสี่เหลี่ยมมากกว่าวงกลมกี่รูป

วิธีทำ

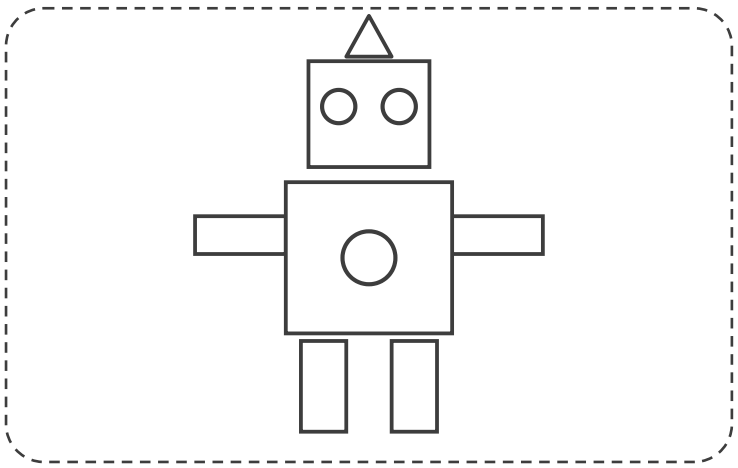

รูปสี่เหลี่ยม ..... รูป

วงกลม ..... รูป

.... = ...

★ ตอบ _____

ข้อ 60 ภาพเรือนี้มีรูปสี่เหลี่ยมและรูปสามเหลี่ยมรวมกันกี่รูป

วิธีทำ

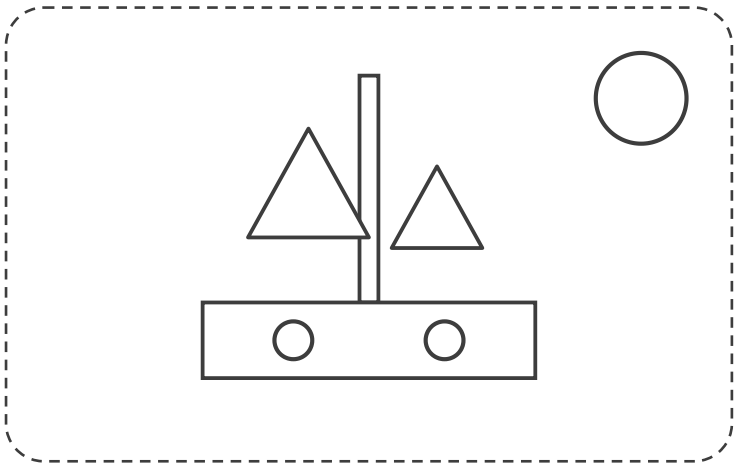

รูปสี่เหลี่ยม ..... รูป

รูปสามเหลี่ยม ..... รูป

.... = ...

★ ตอบ _____

ชื่อ ..... ชั้น ป.2/ ..... เลขที่ .....

ข้อ 61–62

กิจกรรม 4

จำแนกและนับรูปเรขาคณิตในภาพ



ระดับ 4

พิชิตยอดเขา ★★★★

ไม่มีคำใบ้แล้ว โจทย์ปัญหา หาข้อผิด และข้อท้าทาย

คิดเองได้ สู้ ๆ!



ข้อ 61 มดนับวงกลมในภาพรถไฟได้ 5 รูป ถูกหรือไม่ ถ้าไม่ถูก เขียนให้ถูก

วิธีทำ



★ ตอบ _____

ข้อ 62 ภาพหุ่นยนต์นี้มีรูปเรขาคณิตทั้งหมดกี่รูป

วิธีทำ

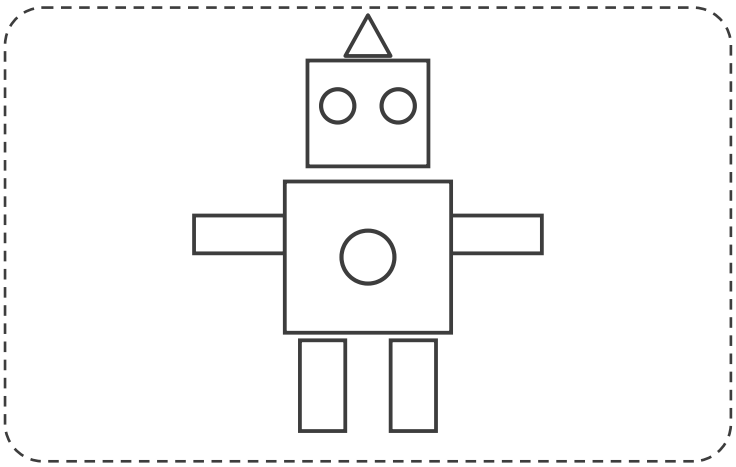

★ ตอบ _____

กิจกรรม 4

จำแนกและนับรูปเรขาคณิตในภาพ

ระดับ 4 พิชิตยอดเขา ★ ★ ★ ★ (ต่อ)

ข้อ 63 ภาพบ้านนี้มีรูปแบบใดมากที่สุด

วิธีทำ

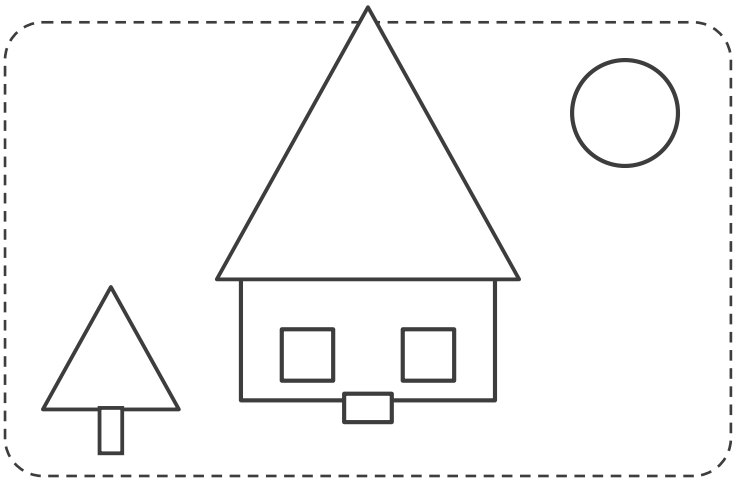

★ ตอบ _____

ข้อ 64 วาดภาพสิ่งของโดยใช้รูปสามเหลี่ยม 2 รูป รูปสี่เหลี่ยม 3 รูป และวงกลม 2 รูป

วิธีทำ

วาดในกรอบนี้

★ ตอบ _____

กิจกรรม 5

เขียนรูปหลายเหลี่ยมบนกระดาษจุด



★ ดูตัวอย่างทีละขั้น แล้วลองทำเองต่อ

โจทย์ วาดรูปสี่เหลี่ยมบนกระดาษจุด

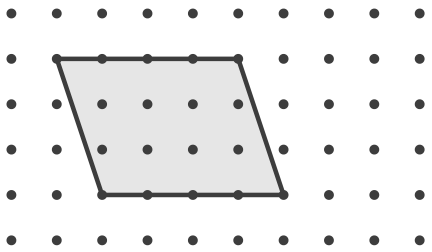

อธิบายวิธีคิดทีละขั้น

1. รูปสี่เหลี่ยมมี 4 ด้าน 4 มุม จึงเลือกจุด 4 จุดเป็นมุม
2. ใช้ไม้บรรทัดลากเส้นตรงจากจุดที่ 1 ไปจุดที่ 2 ต่อไปจุดที่ 3 และจุดที่ 4
3. ลากเส้นจากจุดที่ 4 กลับมาที่จุดที่ 1 ให้ปิดรูป
4. นับด้านตรวจอีกครั้ง ได้ 4 ด้าน เป็นรูปสี่เหลี่ยม

★ ตอบ วาดรูปที่มี 4 ด้าน 4 มุม

เคล็ดลับ: ใช้ไม้บรรทัดลากเส้นทุกครั้ง เส้นจะตรงและรูปจะสวย

ต่อไปลองปีนเอง 4 ระดับ ข้อ 65–80 →

สู้ ๆ นะ!



ระบายสีฉันได้นะ

กิจกรรม 5

เขียนรูปหลายเหลี่ยมบนกระดาษจุด



ระดับ 1

ก้าวแรก ★

มีภาพและตัวช่วยครบทุกขั้น เติมในช่องว่างได้เลย

ค่อย ๆ ทำทีละขั้นนะ



ข้อ 65 วาดรูปให้เหมือนแบบบนกระดาษจุด แล้วบอกชื่อรูป

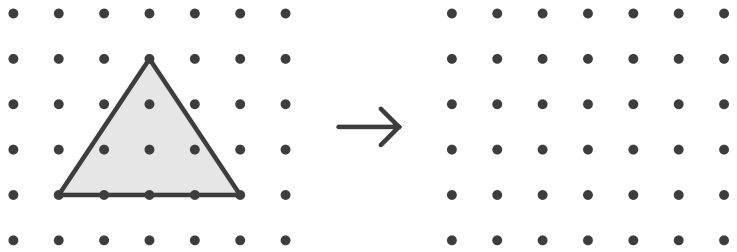

วิธีทำ

รูปนี้มี ..... ด้าน เรียกว่า .....

★ ตอบ _____

ข้อ 66 วาดรูปให้เหมือนแบบบนกระดาษจุด แล้วบอกชื่อรูป

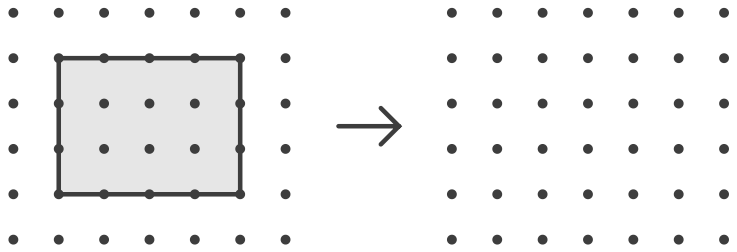

วิธีทำ

รูปนี้มี ..... ด้าน เรียกว่า .....

★ ตอบ _____

กิจกรรม 5

เขียนรูปหลายเหลี่ยมบนกระดาษจุด

ระดับ 1 ก้าวแรก ★ (ต่อ)

ข้อ 67 วาดรูปให้เหมือนแบบบนกระดาษจุด แล้วบอกชื่อรูป

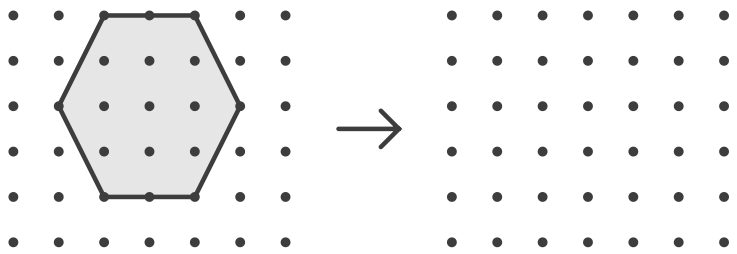

วิธีทำ

รูปนี้มี ..... ด้าน เรียกว่า .....

★ ตอบ _____

ข้อ 68 วาดรูปให้เหมือนแบบบนกระดาษจุด แล้วบอกชื่อรูป

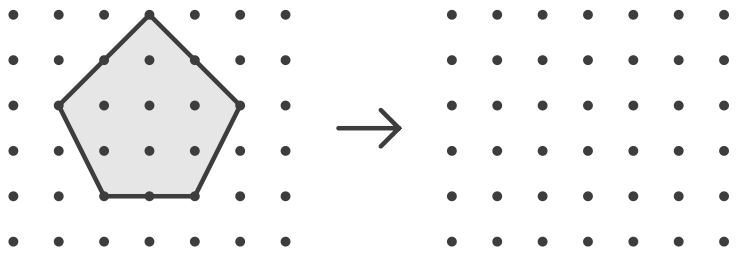

วิธีทำ

รูปนี้มี ..... ด้าน เรียกว่า .....

★ ตอบ _____

ชื่อ ..... ชั้น ป.2/ ..... เลขที่ .....

ข้อ 69–70

กิจกรรม 5

เขียนรูปหลายเหลี่ยมบนกระดาษจุด



ระดับ 2

ออกเดินทาง ★★

มีคำใบ้บอกว่าต้องทำอะไร ลองคิดเองมากขึ้น

อ่านคำใบ้ก่อนลงมือนะ



ข้อ 69 วาดรูปสามเหลี่ยมบนกระดาษจุด



คำใบ้ เลือก 3 จุดที่ไม่อยู่ในแนวเดียวกัน

วิธีทำ

ใช้จุดเป็นมุม ..... จุด

★ ตอบ _____

ข้อ 70 วาดรูปสี่เหลี่ยมบนกระดาษจุด



คำใบ้ เลือก 4 จุดเป็นมุม

วิธีทำ

★ ตอบ _____

ชื่อ ..... ชั้น ป.2/ ..... เลขที่ .....

กิจกรรม 5

เขียนรูปหลายเหลี่ยมบนกระดาษจุด



ระดับ 2 ออกเดินทาง ★ ★ (ต่อ)

ข้อ 71 วาดรูปห้าเหลี่ยมบนกระดาษจุด



คำใบ้ เลือก 5 จุดเป็นมุม

วิธีทำ

★ ตอบ _____

ข้อ 72 วาดรูปหกเหลี่ยมบนกระดาษจุด



คำใบ้ เลือก 6 จุดเป็นมุม

วิธีทำ

★ ตอบ _____

ชื่อ ..... ชั้น ป.2/ ..... เลขที่ .....

ข้อ 73–74

กิจกรรม 5

เขียนรูปหลายเหลี่ยมบนกระดาษจุด



ระดับ 3

ปีนให้สูงขึ้น ★★★

คำใบ้เหลือแค่สั้น ๆ ในสองข้อแรก ต้องเลือกวิธีเอง

ข้อหลังไม่มีคำใบ้แล้วนะ



ข้อ 73 วาดรูปสี่เหลี่ยมบนกระดาษจุด ที่ทุกมุมเป็นมุมฉาก (รูปสี่เหลี่ยมมุมฉาก)



ใบ้สั้น ๆ วาดตามแนวจุดตั้งและนอน

วิธีทำ

★ ตอบ _____

ข้อ 74 วาดรูปสามเหลี่ยมบนกระดาษจุด 2 รูปที่มีขนาดไม่เท่ากัน



ใบ้สั้น ๆ รูปใหญ่ใช้จุดที่อยู่ห่างกัน

วิธีทำ

★ ตอบ _____

กิจกรรม 5

เขียนรูปหลายเหลี่ยมบนกระดาษจุด

ระดับ 3 ปีนให้สูงขึ้น ★ ★ ★ (ต่อ)

ข้อ 75 วาดรูปให้เหมือนแบบบนกระดาษจุด แล้วบอกชื่อรูป

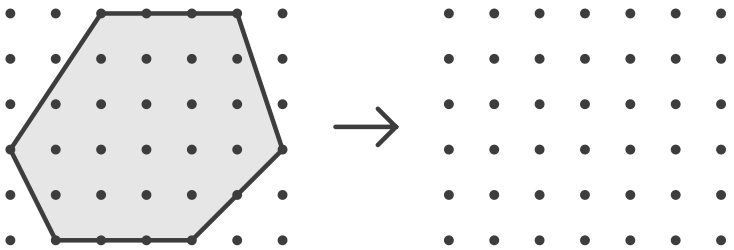

วิธีทำ

★ ตอบ _____

ข้อ 76 วาดรูปห้าเหลี่ยมบนกระดาษจุด 2 รูปที่ไม่เหมือนกัน



วิธีทำ

★ ตอบ _____

กิจกรรม 5

เขียนรูปหลายเหลี่ยมบนกระดาษจุด



ระดับ 4

พิชิตยอดเขา ★ ★ ★ ★

ไม่มีคำใบ้แล้ว โจทย์ปัญหา หาข้อผิด และข้อท้าทาย

คิดเองได้ สู้ ๆ!



ข้อ 77 ฝนวาดรูปห้าเหลี่ยม แต่ลากเส้นไม่ครบ เหลือช่องว่างอยู่ 1 ช่อง รูปนี้เป็นรูปห้าเหลี่ยมหรือยัง อธิบาย

วิธีทำ

★ ตอบ _____

ข้อ 78 ใช้จุด 3 จุดที่อยู่ในแนวเส้นตรงเดียวกัน วาดรูปสามเหลี่ยมได้หรือไม่ อธิบาย

วิธีทำ

★ ตอบ _____

ชื่อ ..... ชั้น ป.2/ ..... เลขที่ .....

ข้อ 79–80

กิจกรรม 5

เขียนรูปหลายเหลี่ยมบนกระดาษจุด



ระดับ 4 พิชิตยอดเขา ★ ★ ★ ★ (ต่อ)

ข้อ 79 วาดรูปสามเหลี่ยม 2 รูป ที่มีด้านติดกัน 1 ด้าน แล้วบอกว่ารวมเป็นรูปกี่เหลี่ยม



วิธีทำ

★ ตอบ _____

ข้อ 80 วาดรูปหลายเหลี่ยมที่มีด้านมากกว่ารูปห้าเหลี่ยม 1 ด้าน แล้วบอกชื่อรูป



วิธีทำ

★ ตอบ _____

ชื่อ ..... ชั้น ป.2/ ..... เลขที่ .....

★ ตัวอย่างแสดงวิธีทำ

กิจกรรม 6

แบบรูปซ้ำของรูปเรขาคณิต



★ ดูตัวอย่างทีละขั้น แล้วลองทำเองต่อ

โจทย์ รูปสองรูปถัดไปในแบบรูปซ้ำนี้คือรูปอะไร

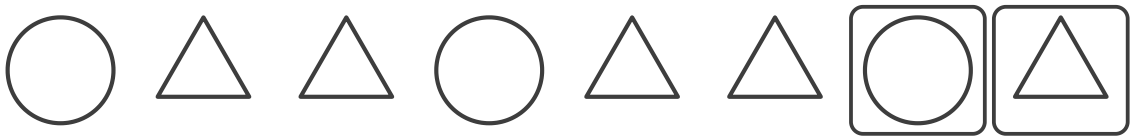

อธิบายวิธีคิดทีละขั้น

1. ดูว่ารูปชุดใดซ้ำกัน: วงกลม รูปสามเหลี่ยม รูปสามเหลี่ยม แล้วเริ่มวงกลมใหม่
2. ชุดที่ซ้ำคือ วงกลม รูปสามเหลี่ยม รูปสามเหลี่ยม (3 รูป)
3. รูปที่ 7 เริ่มชุดใหม่ จึงเป็นวงกลม รูปที่ 8 เป็นรูปสามเหลี่ยม
4. แบบรูปซ้ำอาจซ้ำกันที่ชนิดของรูป หรือขนาดของรูป

★ **ตอบ** วงกลม, รูปสามเหลี่ยม

เคล็ดลับ: วงชุดที่ซ้ำไว้ แล้วนับต่อทีละชุด

ต่อไปลองปีนเอง 4 ระดับ ข้อ 81–96 →

สู้ ๆ นะ!



ระบายสีฉันได้นะ

ชื่อ ..... ชั้น ป.2/ ..... เลขที่ .....

ข้อ 81–82

กิจกรรม 6

แบบรูปซ้ำของรูปเรขาคณิต



ระดับ 1

ก้าวแรก ★

มีภาพและตัวช่วยครบทุกขั้น เติมในช่องว่างได้เลย

ค่อย ๆ ทำทีละขั้นนะ



ข้อ 81 รูปที่หายไปในแบบรูปซ้ำนี้คือรูปอะไรบ้าง

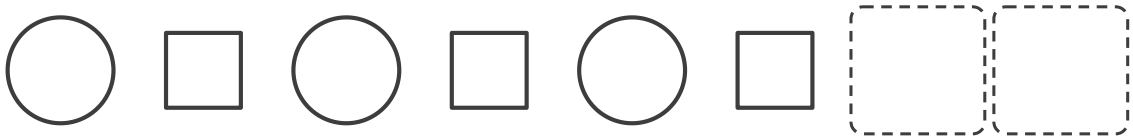

วิธีทำ

ชุดที่ซ้ำกันคือ .....

รูปที่หายไปคือ .....

★ ตอบ _____

ข้อ 82 รูปที่หายไปในแบบรูปซ้ำนี้คือรูปอะไรบ้าง

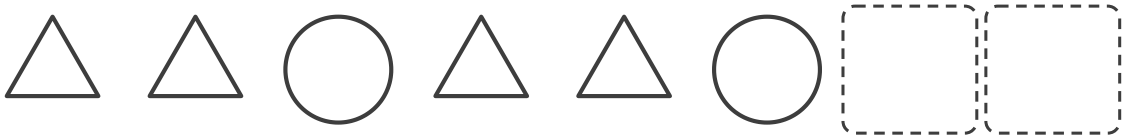

วิธีทำ

ชุดที่ซ้ำกันคือ .....

รูปที่หายไปคือ .....

★ ตอบ _____

ชื่อ ..... ชั้น ป.2/ ..... เลขที่ .....

กิจกรรม 6

แบบรูปซ้ำของรูปเรขาคณิต



ระดับ 1 ก้าวแรก ★ (ต่อ)

ข้อ 83 รูปที่หายไปในแบบรูปซ้ำนี้คือรูปอะไรบ้าง

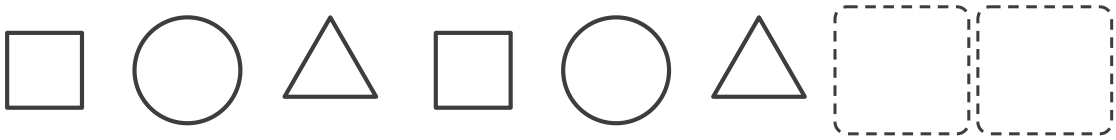

วิธีทำ

ชุดที่ซ้ำกันคือ .....

รูปที่หายไปคือ .....

★ ตอบ _____

ข้อ 84 รูปที่หายไปในแบบรูปซ้ำนี้คือรูปอะไรบ้าง

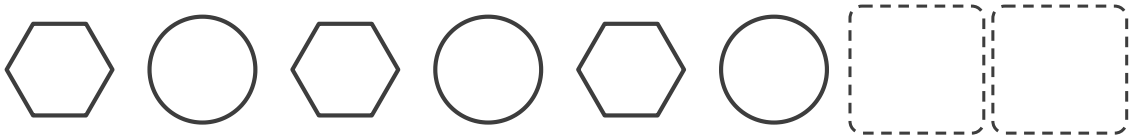

วิธีทำ

ชุดที่ซ้ำกันคือ .....

รูปที่หายไปคือ .....

★ ตอบ _____

ชื่อ ..... ชั้น ป.2/ ..... เลขที่ .....

ข้อ 85–86

กิจกรรม 6

แบบรูปซ้ำของรูปเรขาคณิต



ระดับ 2

ออกเดินทาง ★★

มีคำใบ้บอกว่าต้องทำอะไร ลองคิดเองมากขึ้น

อ่านคำใบ้ก่อนลงมือนะ



ข้อ 85 รูปที่หายไปในแบบรูปซ้ำนี้คือรูปอะไรบ้าง

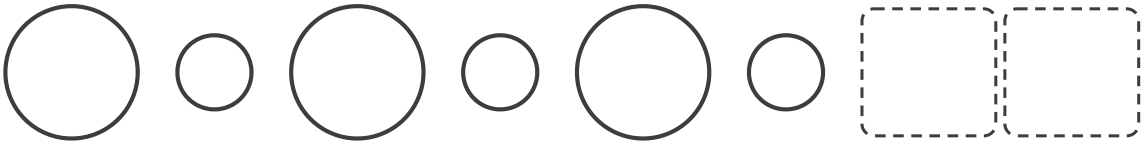

คำใบ้ ดูขนาดของรูป

วิธีทำ

★ ตอบ _____

ข้อ 86 รูปที่หายไปในแบบรูปซ้ำนี้คือรูปอะไรบ้าง



คำใบ้ ใหญ่ เล็ก เล็ก

วิธีทำ

★ ตอบ _____

ชื่อ ..... ชั้น ป.2/ ..... เลขที่ .....

กิจกรรม 6

แบบรูปซ้ำของรูปเรขาคณิต



ระดับ 2 ออกเดินทาง ★ ★ (ต่อ)

ข้อ 87 รูปที่หายไปในแบบรูปซ้ำนี้คือรูปอะไรบ้าง

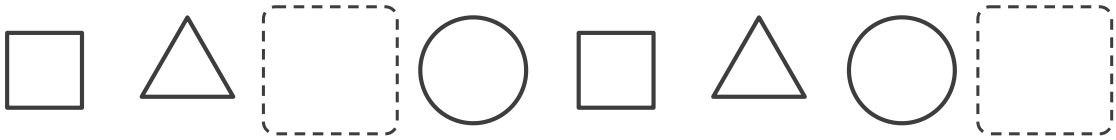

คำใบ้ ชุดที่ซ้ำมี 4 รูป

วิธีทำ

★ ตอบ _____

ข้อ 88 รูปที่หายไปในแบบรูปซ้ำนี้คือรูปอะไรบ้าง

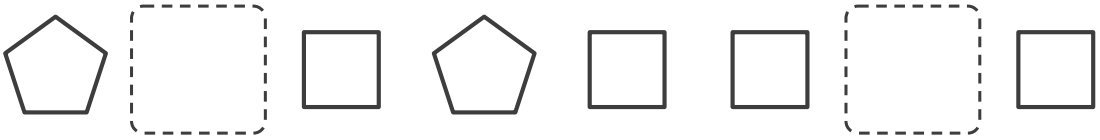

คำใบ้ หาชุดที่ซ้ำก่อน

วิธีทำ

★ ตอบ _____

ชื่อ ..... ชั้น ป.2/ ..... เลขที่ .....

กิจกรรม 6

แบบรูปซ้ำของรูปเรขาคณิต



ระดับ 3

ปีนให้สูงขึ้น ★ ★ ★

คำใบ้เหลือแค่สั้น ๆ ในสองข้อแรก ต้องเลือกวิธีเอง

ข้อหลังไม่มีคำใบ้แล้วนะ



ข้อ 89 รูปที่หายไปในแบบรูปซ้ำนี้คือรูปอะไรบ้าง

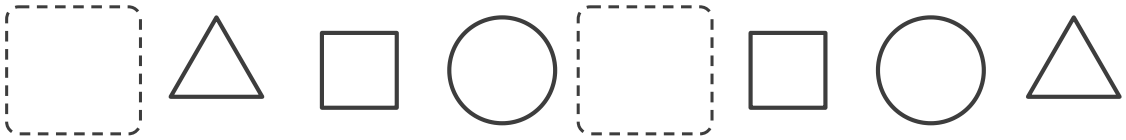

ใบ้สั้น ๆ ดูรูปที่อยู่ใกล้ช่องว่าง

วิธีทำ

★ ตอบ _____

ข้อ 90 รูปที่หายไปในแบบรูปซ้ำนี้คือรูปอะไรบ้าง

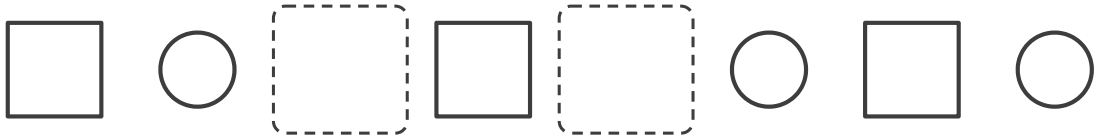

ใบ้สั้น ๆ ขนาดก็เป็นแบบรูปได้

วิธีทำ

★ ตอบ _____

ชื่อ ..... ชั้น ป.2/ ..... เลขที่ .....

ข้อ 91–92

กิจกรรม 6

แบบรูปซ้ำของรูปเรขาคณิต



ระดับ 3 ปีนให้สูงขึ้น ★ ★ ★ (ต่อ)

ข้อ 91 รูปที่หายไปในแบบรูปซ้ำนี้คือรูปอะไรบ้าง

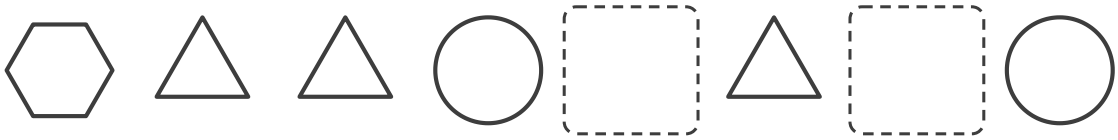

วิธีทำ

★ ตอบ _____

ข้อ 92 รูปที่หายไปในแบบรูปซ้ำนี้คือรูปอะไรบ้าง

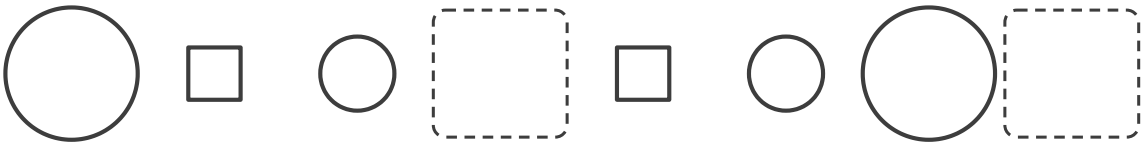

วิธีทำ

★ ตอบ _____

ชื่อ ..... ชั้น ป.2/ ..... เลขที่ .....

ข้อ 93–94

กิจกรรม 6

แบบรูปซ้ำของรูปเรขาคณิต



ระดับ 4

พิชิตยอดเขา ★★★★

ไม่มีคำใบ้แล้ว โจทย์ปัญหา หาข้อผิด และข้อท้าทาย

คิดเองได้ สู้ ๆ!



ข้อ 93 แบบรูปซ้ำ วงกลม รูปสามเหลี่ยม รูปสี่เหลี่ยม วงกลม รูปสามเหลี่ยม รูปสี่เหลี่ยม ... รูปที่ 10 คือรูปอะไร

วิธีทำ

★ ตอบ _____

ข้อ 94 แบบรูปซ้ำ รูปสามเหลี่ยม วงกลม วงกลม รูปสามเหลี่ยม วงกลม วงกลม ... เพื่อนบอกว่ารูปถัดไปคือวงกลม ถูกหรือไม่ อธิบาย

วิธีทำ

★ ตอบ _____

ชื่อ ..... ชั้น ป.2/ ..... เลขที่ .....

ข้อ 95–96

กิจกรรม 6

แบบรูปซ้ำของรูปเรขาคณิต



ระดับ 4 พิชิตยอดเขา ★ ★ ★ ★ (ต่อ)

ข้อ 95 แบบรูปซ้ำ รูปสี่เหลี่ยม วงกลม วงกลม ซ้ำกันไปจนครบ 12 รูป มีวงกลมกี่รูป

วิธีทำ

★ ตอบ _____

ข้อ 96 สร้างแบบรูปซ้ำของรูปเรขาคณิต 2 ชนิด ให้ยาว 8 รูป แล้ววงชุดที่ซ้ำไว้

วิธีทำ

วาดในกรอบนี้

★ ตอบ _____

ชื่อ ..... ชั้น ป.2/ ..... เลขที่ .....

★ ประเมินตัวเอง

ถึงยอดเขาแล้ว!



ทบทวนความคิดของฉัน

กิจกรรมที่ฉันชอบที่สุดคือกิจกรรม ___ เพราะ _____

ข้อที่ยากที่สุดสำหรับฉันคือข้อ ___ เพราะ _____

สิ่งที่ฉันทำได้ดีขึ้นคือ _____

★ ประเมินตัวเองหลังจบหน่วย

ระบายดาวตามความมั่นใจ · 1 ดวง = ยังไม่ค่อยเข้าใจ · 2 ดวง = เข้าใจแล้ว · 3 ดวง = เข้าใจดีมาก

	ระดับ 1 ก้าวแรก	ระดับ 2 ออกเดินทาง	ระดับ 3 ปีนให้สูงขึ้น	ระดับ 4 พิชิตยอดเขา
กิจกรรม 1 ทรงสี่เหลี่ยมมุมฉากและทรงกลม	☆ ☆ ☆	☆ ☆ ☆	☆ ☆ ☆	☆ ☆ ☆
กิจกรรม 2 รูปหลายเหลี่ยม	☆ ☆ ☆	☆ ☆ ☆	☆ ☆ ☆	☆ ☆ ☆
กิจกรรม 3 วงกลมและวงรี	☆ ☆ ☆	☆ ☆ ☆	☆ ☆ ☆	☆ ☆ ☆
กิจกรรม 4 จำแนกและนับรูปเรขาคณิตในภาพ	☆ ☆ ☆	☆ ☆ ☆	☆ ☆ ☆	☆ ☆ ☆
กิจกรรม 5 เขียนรูปหลายเหลี่ยมบนกระดาษจุด	☆ ☆ ☆	☆ ☆ ☆	☆ ☆ ☆	☆ ☆ ☆
กิจกรรม 6 แบบรูปซ้ำของรูปเรขาคณิต	☆ ☆ ☆	☆ ☆ ☆	☆ ☆ ☆	☆ ☆ ☆

ทำถูก ..... ข้อ จากทั้งหมด 96 ข้อ

เก่งมาก! ปีนครบทั้ง 4 ระดับแล้ว

